Коло, круг

7 клас

1. Назви елементи кола:

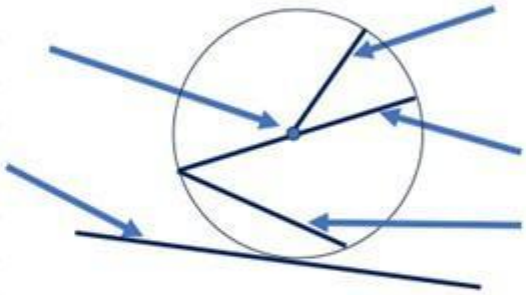

2. Знайди радіус круга, якщо його діаметр дорівнює 16 см. *(впиши лише число)*

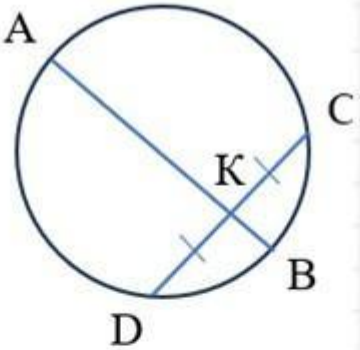

3. Діаметр кола AB ділить хорду DC навпіл. Яке розміщення хорди і діаметру?

4. Чому дорівнює $\angle MAN$?

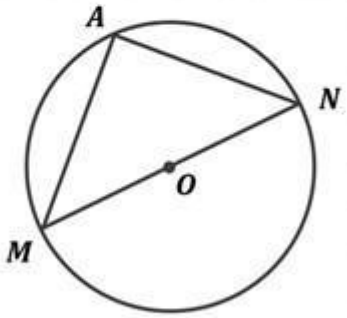

LIVEWORKSHEETS