Перпендикулярні прямі.

7 клас

1. Серед малюнків обери ті, на яких зображено перпендикулярні прямі?

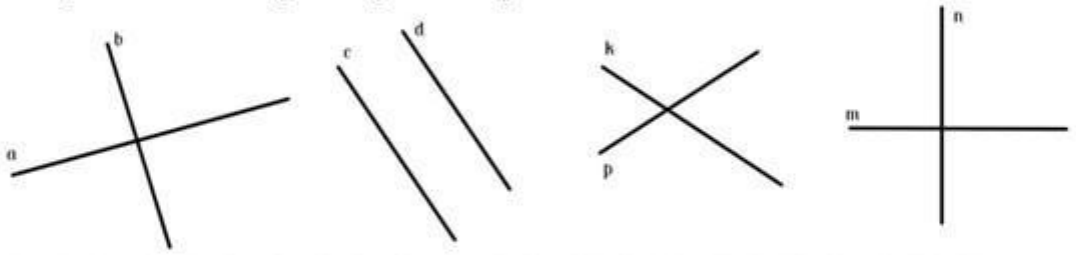

2. На малюнку $a \perp b$. Чи перпендикулярні:

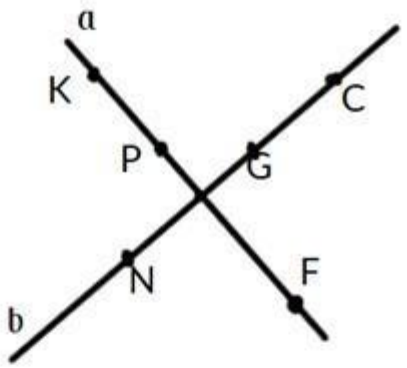

Відрізки KP і GC

Промінь NC і відрізок KP

Пряма a і відрізок PF

3. Прямі AB, KL, MN перетинаються в точці O, причому $AB \perp MN$. Знайди $\angle KOM$, якщо $\angle LOB = 62^0$ (запиши лише число!)

$\angle KOM =$

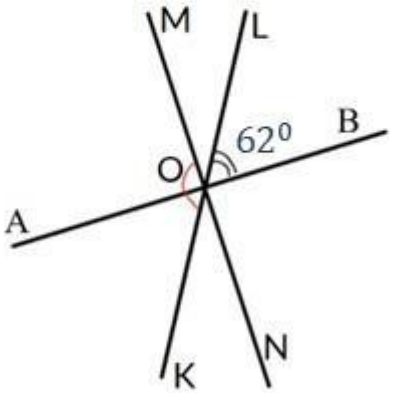

LIVEWORKSHEETS