NAMA		TANGGAL	
KELAS		SCORE	

Sel, Jaringan, Organ dan Sistem Organ

- Amati gambar sel hewan di bawah ini dengan saksama.
- Isi nama organel yang ditunjuk pada gambar di kotak yang ada di sebelah nomor.
- Pasangkan setiap nama organel dengan fungsi yang sesuai.

1	Tempat pencernaan intraseluler
2	Tempat respirasi seluler penghasil energi
3	Sebagai pusat pengatur kegiatan sel
4	Berperan dalam pembelahan sel
5	Tempat berlangsungnya reaksi kimia sel
6	Penghubung inti sel dan sitoplasma

LIVEWORKSHEETS

Sel, Jaringan, Organ dan Sistem Organ

- Amati gambar sel hewan di bawah ini dengan saksama.
- Isi nama organel yang ditunjuk pada gambar di kotak yang ada di sebelah nomor.
- Pasangkan setiap nama organel dengan fungsi yang sesuai.

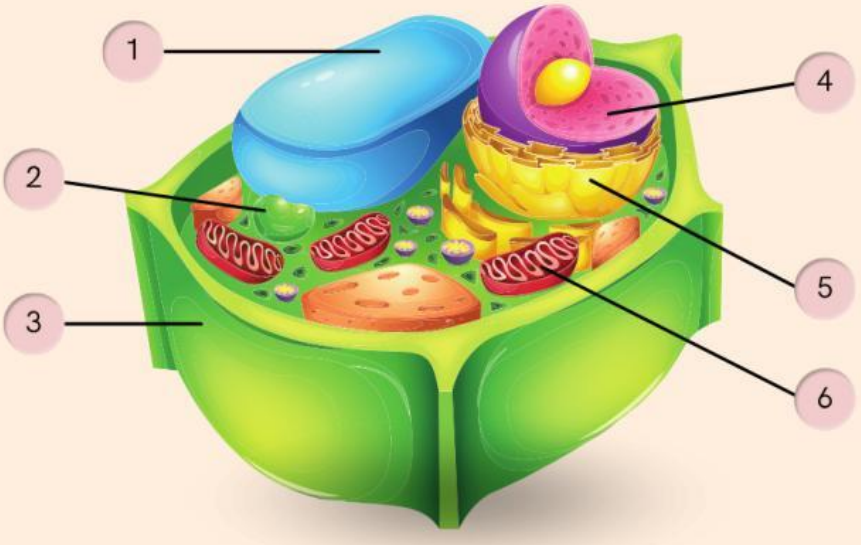

1	Tempat terjadinya fotosintesis
2	Tempat respirasi seluler penghasil energi
3	Sebagai pusat pengatur kegiatan sel
4	Tempat penyimpanan air, nutrisi, dll
5	Memberi bentuk & melindungi sel
6	Penghubung inti sel dan sitoplasma

LIVEWORKSHEETS

Mikroskop

Pasangkan nama bagian mikroskop sesuai dengan gambar!

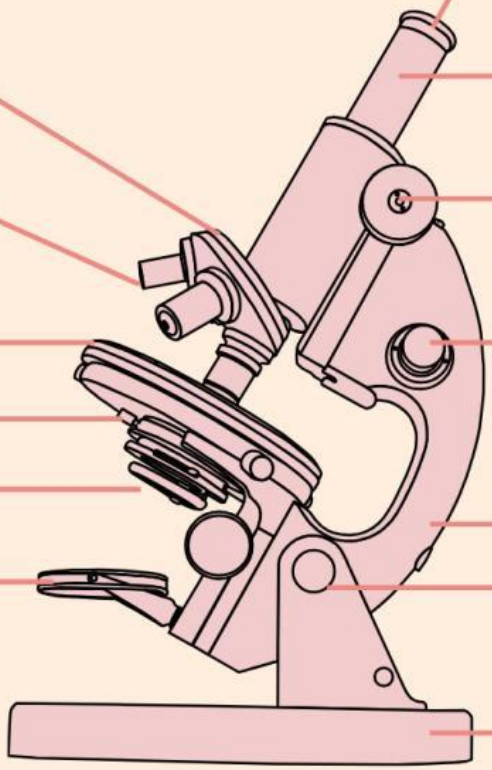

Lensa Okuler	Lensa objektif	Tabung
Makrometer	Mikrometer	Lengan
Sendi Inklinasi	Kaki/dasar	Cermin
Diafragma	Kondensor	Meja Preparat
	Revolver	

LIVEWORKSHEETS

Jaringan pada tumbuhan dan hewan

Tuliskan nama jaringan pada tumbuhan sesuai dengan gambar!

JARINGAN PADA TUMBUHAN

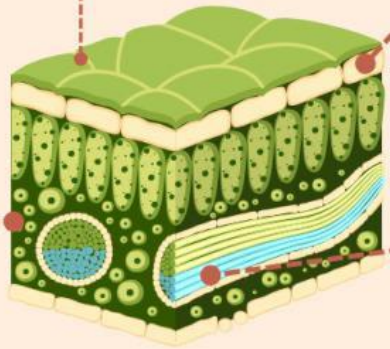

Tuliskan nama jaringan pada tumbuhan sesuai dengan gambar!

LIVEWORKSHEETS

Organ Tumbuhan

Amati gambar tumbuhan di bawah ini, lalu tuliskan nama setiap bagian tumbuhan beserta fungsinya secara singkat pada kolom yang tersedia

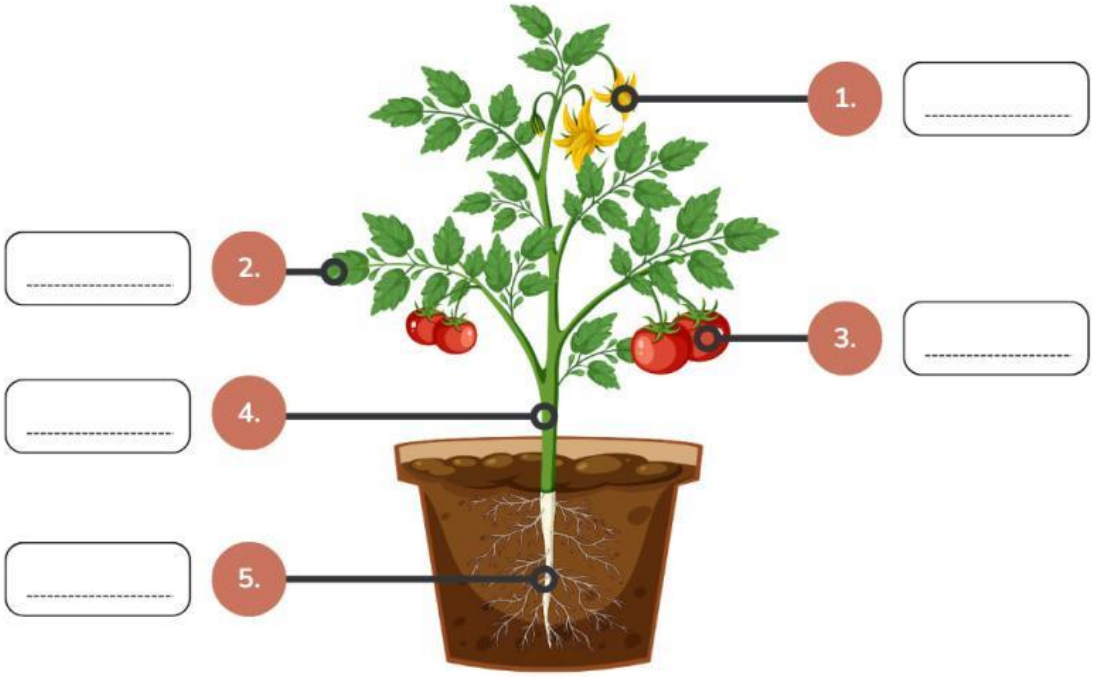

Fungsinya

1. .....
2. .....
3. .....
4. .....
5. .....

LIVEWORKSHEETS

Sel, Jaringan, Organ dan Sistem Organ

Tuliskan nama organ pada gambar berikut!

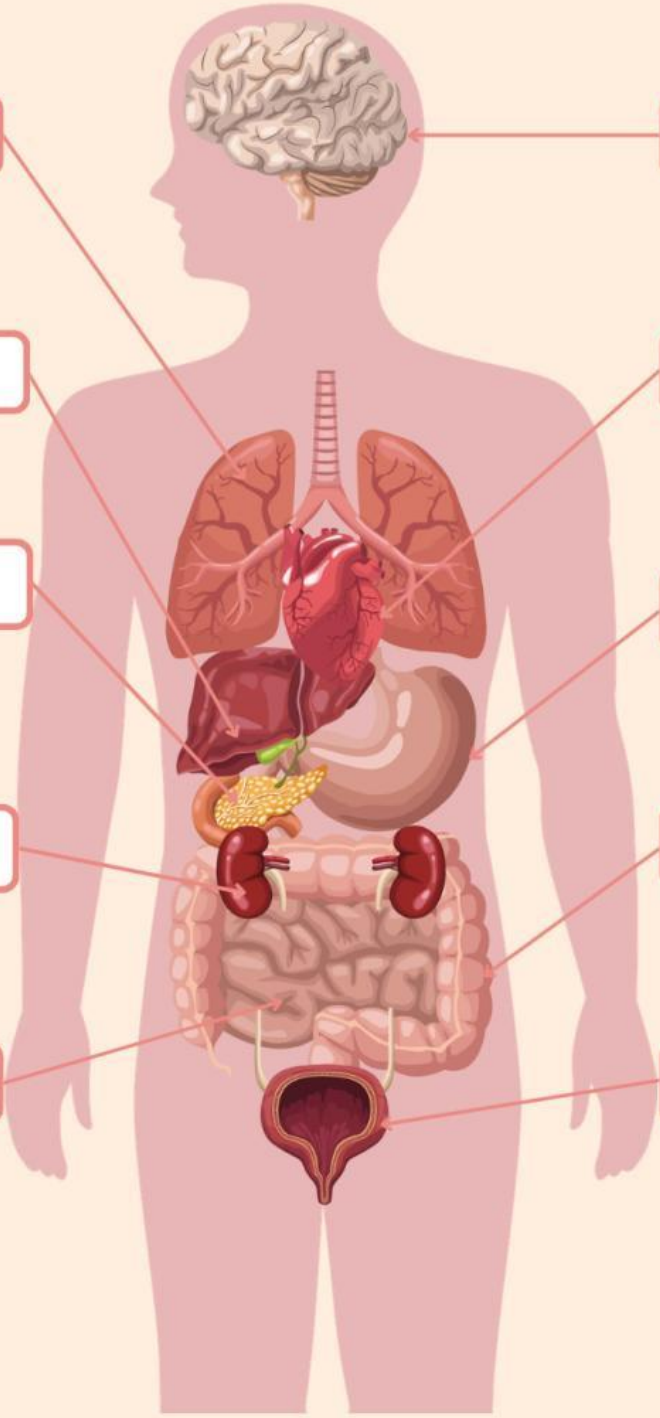

LIVEWORKSHEETS

Sel, Jaringan, Organ dan Sistem Organ

Pasangkan gambar organ dengan fungsinya!

sistem pernapasan dengan menghirup O2 dan mengeluarkan CO2	Mengeluarkan zat sisa dari darah dan menghasilkan urine	Menyerap sari-sari makanan dan air
Memompa darah ke seluruh tubuh	Pusat kendali dan koordinasi, ingatan, pikiran, dan emosi	Memproduksi cairan empedu
Memproduksi enzim pencernaan untuk mengurai makanan	Mencerna makanan secara mekanik dan kimiawi, serta membunuh kuman	Menyerap air dan membuang sisa perncernaan makanan

LIVEWORKSHEETS

Sel, Jaringan, Organ dan Sistem Organ

Tuliskan nama sistem pada gambar berikut!

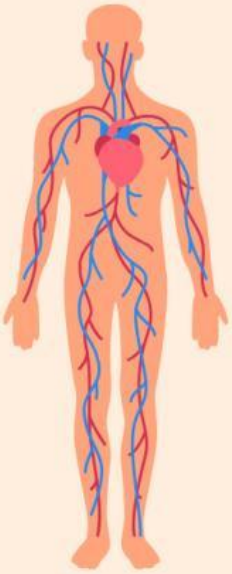

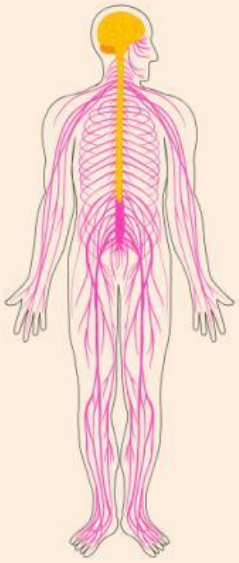

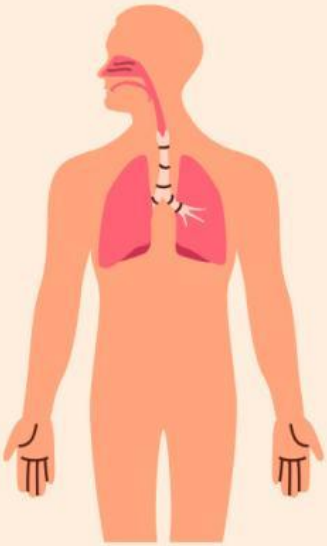

LIVEWORKSHEETS

Sel, Jaringan, Organ dan Sistem Organ

Tentukan jenis otot berikut!

ASPEK			
Nama Jenis otot			
Bentuknya			
Letak inti selnya			
Cara Kerjanya			
Sifatnya			
Tempatnya			

LIVEWORKSHEETS