ใบงานที่ 1 ทบทวนความรู้ก่อนเรียนเรื่องแรงลัพธ์
หน่วยการเรียนรู้ที่ 4 เรื่อง แรงในชีวิตประจำวัน
แผนการจัดการเรียนรู้ที่ 1 เรื่อง แรงและการเคลื่อนที่ของวัตถุ
รายวิชาวิทยาศาสตร์และเทคโนโลยี รหัสวิชา ว22101 ภาคเรียนที่ 1 ชั้นมัธยมศึกษาปีที่ 2

1. แรงลัพธ์ที่กระทำต่อวัตถุต่อไปนี้เป็นเท่าใดและมีทิศทางอย่างไร

1.1 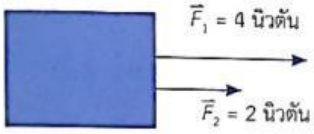	.
1.2	
1.3 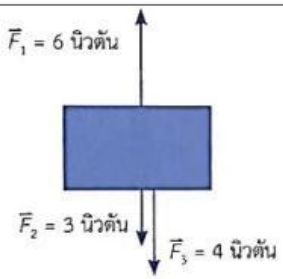	
1.4 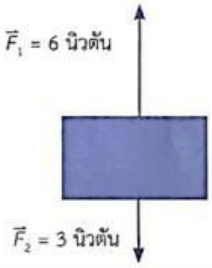	

2. แรง $\vec{F}_1$ มีขนาด 7 นิวตันกระทำต่อวัตถุโดยมีทิศทางดังภาพถ้าต้องการให้แรงลัพธ์ที่กระทำต่อวัตถุเป็นศูนย์โดยมีแรงที่กระทำต่อวัตถุอย่างน้อย 1 แรงแรงนี้ต้องมีขนาดและทิศทางเป็นอย่างไร

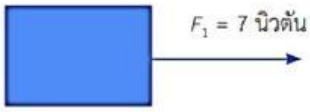

.....

LIVEWORKSHEETS