PHIẾU TOÁN TUẦN 14 SỐ 1

Bài 1: Tính

10 – 4 = ….	4 + 1 – 2 = ….	9 – 1 – 6 = ….
5 + 4 + 1 = ….	7 – 3 = ….	6 – 4 + 5 = ….
10 – 3 + 2 = …	2 – 1 + 8 = ….	3 – 2 + 9 = ….

Bài 2: Điền + ; -

4 ☐ 3 = 1 ☐ 0 5 ☐ 2 = 2 ☐ 1

4 ☐ 2 > 1 ☐ 1 2 ☐ 2 < 3 ☐ 2

Bài 3: Đúng chọn Đ. sai chọn S

3 + 2 = 4 ☐	5 + 0 = 5 ☐	2 = 3 – 5 ☐
1 + 1 = 2 ☐	4 = 1 – 5 ☐	4 = 5 + 1 ☐
3 = 4 – 1 ☐	0 = 2 + 2 ☐	6 = 6 + 0 ☐

Bài 4: Vẽ thêm 1 đoạn thẳng để

a) Có 2 hình tam giác



b) Có 3 hình tam giác

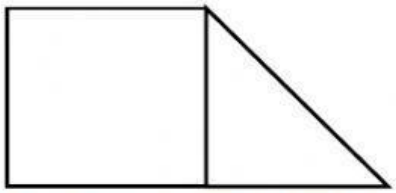

Bài 5: Viết phép tính thích hợp

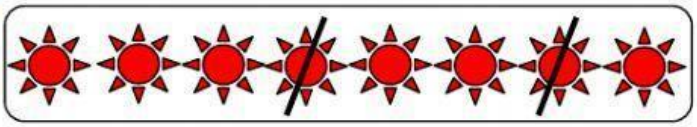

☐ ☐ ☐ ☐ ☐

LIVEWORKSHEETS