السؤال الثاني

اكتبي اسم المجسم الظاهر في الصورة.

LIVEWORKSHEETS

السؤال الثالث

أيّ المجسم الآتي جميع أوجهه مربعات متطابقة؟

كرة



مكعب

أسطوانة

مخروط

LIVEWORKSHEETS

السؤال الرابع

4

حددي جميع المجسمات ثلاثية الأبعاد.

(اختاري كل الإجابات الصحيحة)

هرم

مخروط

أسطوانة



مكعب

مثلث

مربع

دائرة

تذكر : يمكنك اختيار أكثر من إجابة.

LIVEWORKSHEETS

السؤال الخامس

اختاري عدد أوجه متوازي المستطيلات.

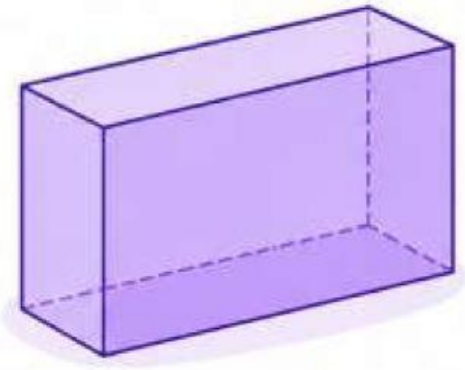

اختر من القائمة

- 4
- 5
- 6
- 8

تذكّر : اقرأ السؤال جيدًا قبل اختيار الإجابة.

LIVEWORKSHEETS

السؤال السادس

اسحبي اسم المجسم إلى صورته.

البطاقات:

أسطوانة | كرة | مخروط | مكعب

LIVEWORKSHEETS

السؤال السابع

أسقطي عدد الرؤوس داخل المجسم المناسب.

مكعب

هرم رباعي

مخروط

كرة

البطاقات

8

5

1

0

السؤال الثامن

صلي كل مجسم بعدد أوجهه.

مكعب	6
أسطوانة	3
مخروط	2
هرم رباعي	5

LIVEWORKSHEETS

السؤال التاسع

اكتبي الفرق بين المكعب ومتوازي المستطيلات.

متوازي المستطيلات

المكعب



الإجابة:

.....

.....

.....

LIVEWORKSHEETS

السؤال العاشر

ابحثي عن أسماء المجسمات التالية داخل الشبكة.

م	ك	ع	ب	ق	ذ	س	ر
ش	رط	م	خ	ر	و	ط	ف
ن	أس	ط	و	ا	ن	ة	ك
ج	ك	ر	ة	ب	ت	ر	ه
م	ش	و	ر	ل	م	ج	م
ه	ر	م	ل	ف	غ	ب	ن
ظ	ط	ع	ج	ك	ل	خ	ص
ق	س	أ	أس	ط	و	ا	ة

الكلمات

- مكعب
- مخروط
- أسطوانة
- كرة
- هرم
- منشور

LIVEWORKSHEETS

السؤال الحادي عشر

انظقي اسم المجسم الظاهر في الصورة.

اضغطي على الميكروفون وسجلي صوتك عند النطق.

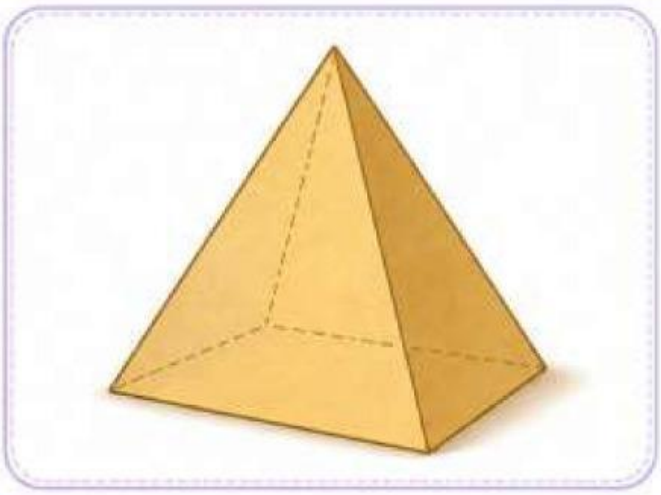

انطقي هنا

تذكري: انطقي بوضوح واستمعي لصوتك.

نصيحة:
تأكدي من أن الميكروفون يعمل قبل التسجيل.

LIVEWORKSHEETS

السؤال الثاني عشر

استمعي إلى الوصف ثم اختاري المجسم الصحيح.

الآن استمعي إلى الوصف التالي:

"مجسم له قاعدة دائرية وسطح منحني،
وليس له رؤوس"



أسطوانة

هرم

مكعب

مخروط

استمعي جيداً قبل اختيار الإجابة الصحيحة

LIVEWORKSHEETS

السؤال الثالث عشر

صلي كل مجسم بالخصائص المناسبة له.

المجسم	الخصائص
مكعب	جميع أوجهه مربعات متطابقة.
أسطوانة	له وجهان دائريان وسطح منحني واحد.
مخروط	له قاعدة واحدة ورأس واحد وسطح منحني.
متوازي المستطيلات	له 6 أوجه مستطيلة.
كرة	ليس له أوجه أو أحرف أو رؤوس.

تذكر : يمكنك عدّ الأوجه والأحرف والرؤوس لمساعدتك.

LIVEWORKSHEETS

السؤال الرابع عشر

أكملي الجدول التالي بكتابة عدد الأوجه، والأحرف، والرؤوس لكل مجسم.

المجسم	عدد الأوجه	عدد الأحرف	عدد الرؤوس
مكعب	.....	.....	.....
متوازي المستطيلات	.....	.....	.....
أسطوانة	.....	.....	.....
مخروط	.....	.....	.....
كرة	.....	.....	.....

تذكّري: العَدّ بعناية يساعدك على فهم خصائص المجسمات.

LIVEWORKSHEETS

السؤال الخامس عشر

اختري الإجابة الصحيحة لكل سؤال.

1 أيّ مما يلي له قاعدّة دائرية وسطح منحني؟

- مخروط
- هرم
- أسطوانة
- مكعب

2 كم عدد الرؤوس في الهرم الثلاثي؟

- 6
- 5
- 4
- 3

3 أي المجسمات التالية ليس له أوجه مسطحة؟

- أسطوانة
- متوازي المستطيلات
- مكعب
- كرة

4 ما اسم الشكل الذي له 6 أوجه مستطيلة؟

- متوازي المستطيلات
- جسم كروي
- مخروط
- مكعب

تذكّر : اقرأ السؤال جيدًا قبل اختيار الإجابة.

LIVEWORKSHEETS

السؤال السادس عشر

حددي قيمة العبارة الصحيحة بوضع علامة ⭐ .

16



ضعي صورة مكعب.

للمكعب:

12 حرفًا	8 رؤوس	6 أوجه
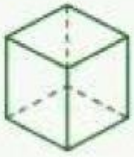		
☐	☐	☐

تذكر: اختاري العبارة الصحيحة فقط. ⭐

LIVEWORKSHEETS