Nama : Kelas :

NILAI TEMPAT

PULUHAN DAN SATUAN

Hitung gambar kubus di bawah ini kemudian tentukan nilai puluhan dan satuannya yang tepat!

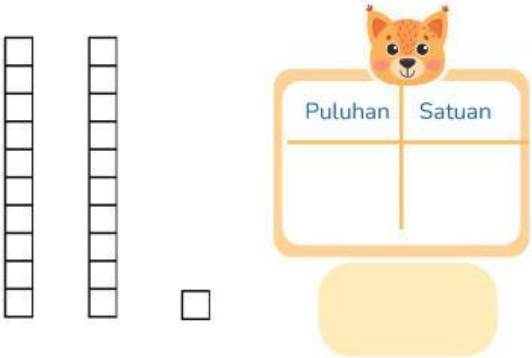

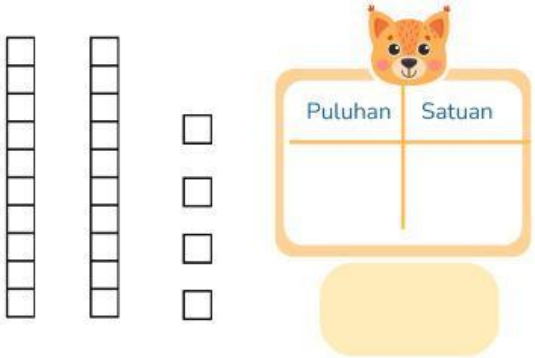

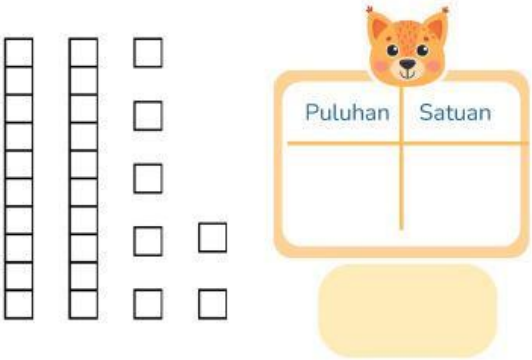

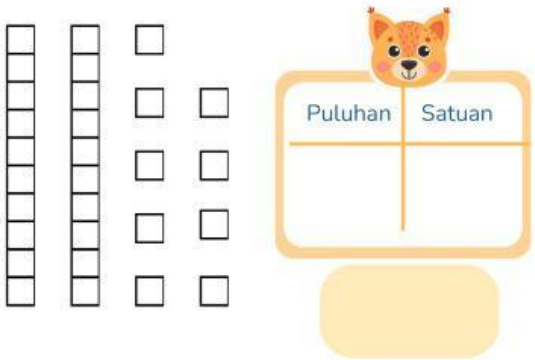

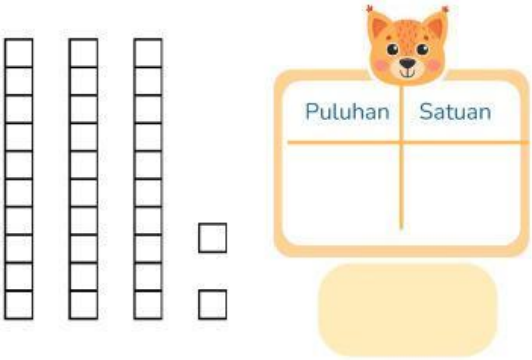

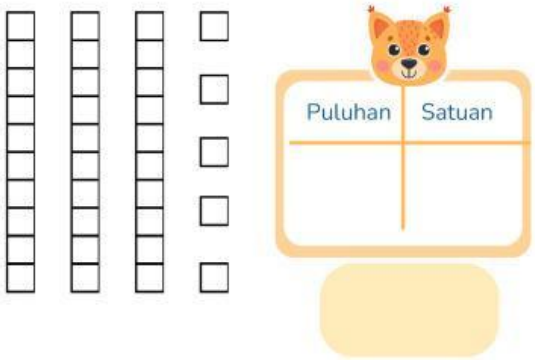

LIVEWORKSHEETS

PEMBELAJARAN MENDALAM

Nama: _____

Kelas: _____ Absen No: _____

Penilaian:

Nilai: _____ Paraf: _____

PULUHAN DAN SATUAN

Tentukanlah nilai puluhan dan satuan dari angka di dalam buah.

	Puluhan	Satuan
82	8	2
27		
46		
61		
19		
38		
53		
74		
90		
55		

LIVEWORKSHEETS

Membandingkan Bilangan

Bandingkan kedua angka pada setiap baris. Tuliskan tanda >, <, atau = di dalam lingkaran yang tersedia.

18	◯	15	32	◯	30
20	◯	16	42	◯	42
36	◯	35	24	◯	31
23	◯	22	49	◯	50
24	◯	30	25	◯	25

Nama: Tanggal:

LIVEWORKSHEETS

Nama : Kelas :

Mengurutkan Bilangan Terkecil Dan Terbesar

Urutkan bilangan dari yang terkecil.

9 11 15 19 5 → ◯ ◯ ◯ ◯ ◯

21 14 19 25 3 → ◯ ◯ ◯ ◯ ◯

35 53 14 23 51 → ◯ ◯ ◯ ◯ ◯

35 53 14 23 51 → ◯ ◯ ◯ ◯ ◯

Urutkan bilangan dari yang terbesar.

18 21 43 14 34 → ◯ ◯ ◯ ◯ ◯

28 19 12 24 31 → ◯ ◯ ◯ ◯ ◯

41 15 10 9 27 → ◯ ◯ ◯ ◯ ◯

41 15 10 9 27 → ◯ ◯ ◯ ◯ ◯

LIVEWORKSHEETS

LIVEWORKSHEETS

LIVEWORKSHEETS