Penjumlahan Berulang

1. 3 Kandang, dengan masing-masing 7 ayam. Berapakah jumlah ayam seluruhnya?



. . . + . . . + . . .

= . . .

Jumlah seluruh ayam ada ...

---

2. 5 Akuarium, dengan masing-masing 4 ikan. Berapakah jumlah ikan seluruhnya?



. . . + . . . + . . . + . . . + . . .

= . . .

Jumlah seluruh ikan ada ...

LIVEWORKSHEETS

Penjumlahan Berulang

3. 6 Rak, dengan masing-masing 2 buku. Berapakah jumlah buku seluruhnya?

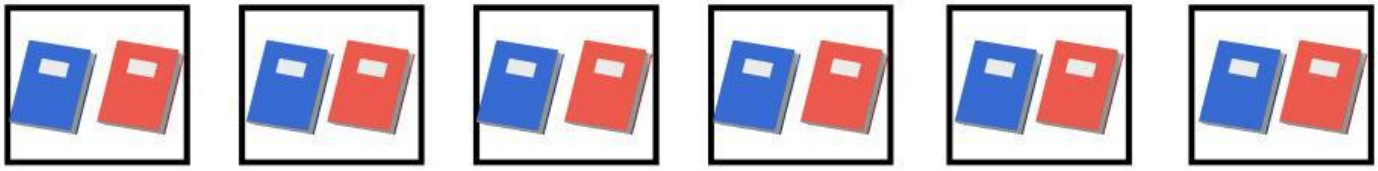

. . . + . . . + . . . + . . . + . . . + . . .

= . . .

Jumlah seluruh buku ada ...

---

4. 4 Pot, dengan masing-masing 4 bunga. Berapakah jumlah bunga seluruhnya?



. . . + . . . + . . . + . . .

= . . .

Jumlah seluruh bunga ada ...

LIVEWORKSHEETS