LATIHAN 5 MATEMATIKA BAB 7 (MEMBACA DIAGRAM BATANG)

Ayo Berlatih 7.4

Kerjakan soal-soal berikut.

Nilai ulangan matematika siswa kelas V adalah sebagai berikut.

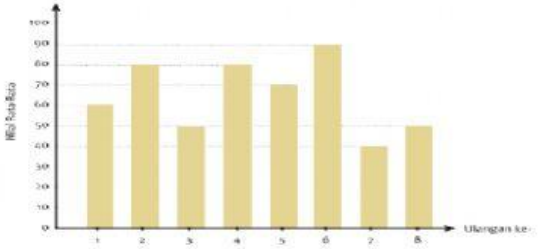

1. Nilai rata-rata paling tinggi terjadi pada ulangan ke- ..., dengan nilai ....
2. Nilai rata-rata ulangan ke-2 adalah ....
3. Nilai rata-rata ulangan ke-4 dan ke-5 adalah ... dan ....
4. Nilai rata-rata yang sama terjadi pada ulangan ke- ... dan ke- ....

LIVEWORKSHEETS

. Berat badan siswa adalah sebagai berikut.

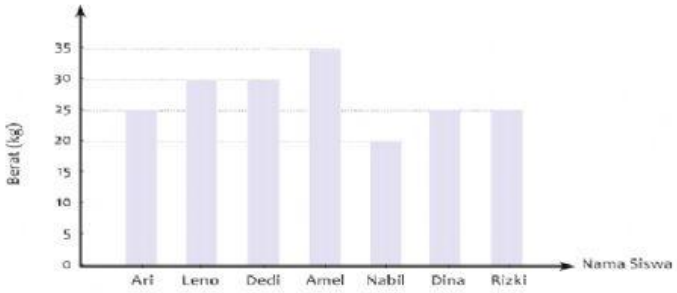

a. Siswa yang memiliki badan paling berat adalah ..., sebesar ... kg.

b. Siswa yang memiliki berat badan 25 kg adalah ..., ..., dan ....

c. Leno dan ... memiliki berat badan yang sama, yaitu ... kg.

d. Siswa yang memiliki badan paling ringan adalah ..., sebesar ... kg.

LIVEWORKSHEETS

Penjualan sepeda motor di sebuah dealer tercatat sebagai berikut.

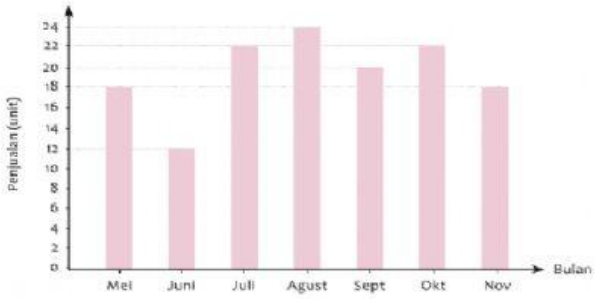

a. Penjualan pada bulan Oktober sebesar ... unit.

b. Penjualan paling banyak terjadi pada bulan ..., sebesar ... unit.

c. Penjualan pada bulan Juni dan September sebesar ... dan ... unit.

d. Total hasil penjualan dari bulan Mei sampai bulan November adalah ... unit.

LIVEWORKSHEETS

Data kelahiran di Desa Sukajaya adalah sebagai berikut.

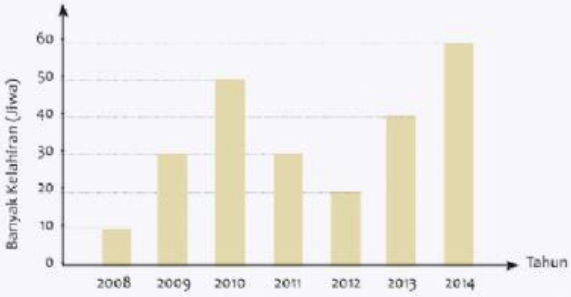

a. Banyak kelahiran sebesar 20 jiwa terjadi tahun ....
b. Banyak kelahiran paling tinggi terjadi pada tahun ..., sebesar ... jiwa.
c. Banyak kelahiran paling rendah terjadi pada tahun ..., sebesar ... jiwa.
d. Banyak kelahiran yang sama terjadi pada tahun ... dan ....

LIVEWORKSHEETS