الاختبار القصر في درس زوايا

الاسم الثلاثي: رهام ناصر الهطالي **الرقم المدني :** 12679736

السؤال الأول: أجب بصح أو خطأ

١- مجموع قياسات زوايا المثلث الداخلية يساوي ٠

٢- قياس الزاوية الخارجية للمثلث لا يساوي مجموع قياسي الزاويتين الداخليتين المقالتين لها

السؤال الثاني: اختر الإجابة الصحيحة

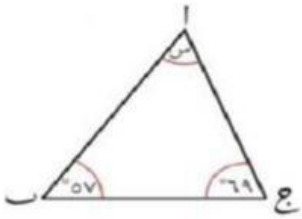

١- قيمة الزاوية س في الشكل المقابل:

أ) ٥٧ ب) ٦٩

ت) ٥٥ ث) ٥٤

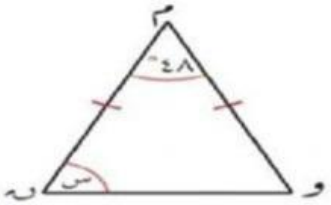

٢- قيمة الزاوية س في الشكل المقابل:

أ) ٤٨ ب) ٥٠

ت) ٦٦ ث) ١٣٢

LIVEWORKSHEETS

صل كل زاوية بالشكل المناسب لها في كل مما يأتي : -

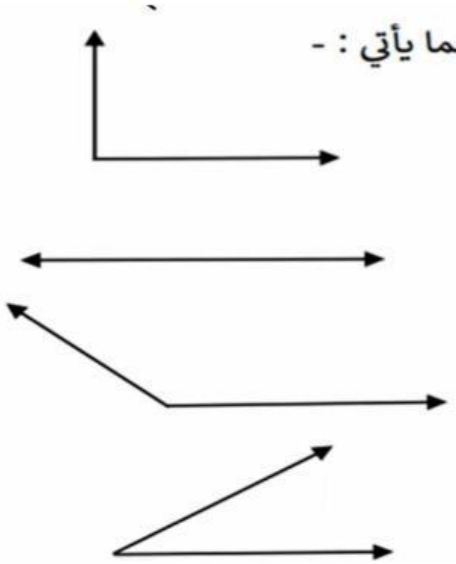

الزاوية الحادة

الزاوية المنفرجة

الزاوية القائمة

اكتب الكلمة التي تسمعها:

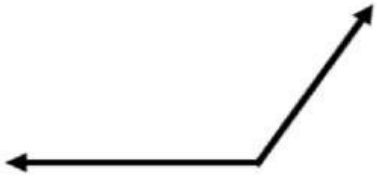

ماذا استفدت من الدرس؟

LIVEWORKSHEETS

اضغط على الصورة التالية للذهاب

الى اللعبة التعليمية

افتح المقطع المرئي التالي ولخص ما شاهدته

عرفي الزاوية القائمة:

أي من الخيارات التالية تعتبر صحيحه:

صح ام خطا

يعد مجموع زوايا المثلث الداخلية تساوي 180 درجه

LIVEWORKSHEETS

ابحث عن الكلمات:



التحدث:

مجموع زوايا المثلث يساوي 180 درجه:

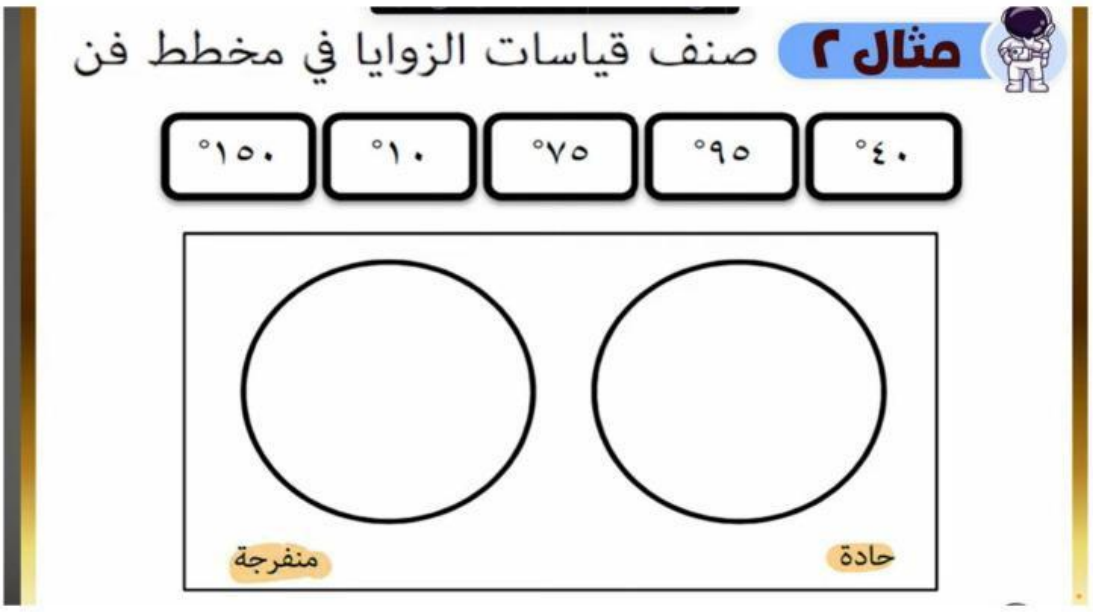

LIVEWORKSHEETS