Lembar Kerja Peserta Didik

LKPD Matematika 8

Relasi dan Fungsi

OLEH : ANNISA WIDHI UTAMI

Nama : _____

Kelas : _____

LIVEWORKSHEETS

KOMPETENSI DASAR

1. Mendeskripsikan dan menyatakan relasi dan fungsi dengan menggunakan berbagai representasi (kata-kata, tabel, grafik, diagram, dan persamaan).
2. Menyelesaikan masalah yang berkaitan dengan relasi dan fungsi dengan menggunakan berbagai representasi.

TUJUAN PEMBELAJARAN

Setelah menyelesaikan E-LKPD ini peserta didik dapat:

1. Memahami notasi fungsi, menghitung nilai fungsi, menyajikan fungsi dalam berbagai bentuk (diagram panah, persamaan fungsi, grafik, tabel, dan pasangan berurut) serta merumuskan suatu fungsi.

LIVEWORKSHEETS

INSTRUKSI PENGUNAAN E-LKPD

- Berdo'a terlebih dahulu sebelum memulai kegiatan.
- Siswa mengisi identitas dengan jelas dan lengkap pada kolom yang telah disediakan.
- Siswa memahami materi dengan menonton video materi Youtube atau membaca e-book yang telah disediakan.
- Lakukan kegiatan-kegiatan dari E-LKPD sesuai dengan instruksi.
- Siswa menulis jawaban-jawaban pada kolom yang telah disediakan.
- Jika siswa sudah selesai menyelesaikan masalah pada E-LKPD kemudian klik Finish.
- Tutup kegiatan pembelajaran dengan berdoa.

LIVEWORKSHEETS

REFERENSI BAHAN BELAJAR

VIDEO MATERI RELASI DAN FUNGSI

klik untuk membuka

E-BOOK

CERMATI DAN PAHAMI REFERENSI BELAJAR YANG TERSEDIA UNTUK MENYELESAIKAN MASALAH PADA E-LKPD INI !!

LIVEWORKSHEETS

CERMATI & PAHAMI !

Terdapat 5 (lima) cara menyajikan fungsi yaitu diagram panah, himpunan pasangan berurutan, persamaan fungsi, tabel, dan grafik.

Contohnya, wisata Kebun Buah Mangunan memasang tarif masuk Rp 5.000 setiap orang. Jika x adalah jumlah orang yang masuk wisata dan f (x) adalah total tarif masuk, maka tunjukkan fungsi antara jumlah orang yang masuk wisata dengan tarif masuknya untuk 1 sampai 4 orang.

Berikut merupakan penyajian fungsi dari relasi tersebut.

1. Diagram Panah

LIVEWORKSHEETS

Diagram tersebut menunjukkan bahwa anggota domain terhubung dengan tepat satu anggota kodomain. Hal tersebut menunjukkan suatu fungsi dari relasi "tarif masuk".

2. Grafik

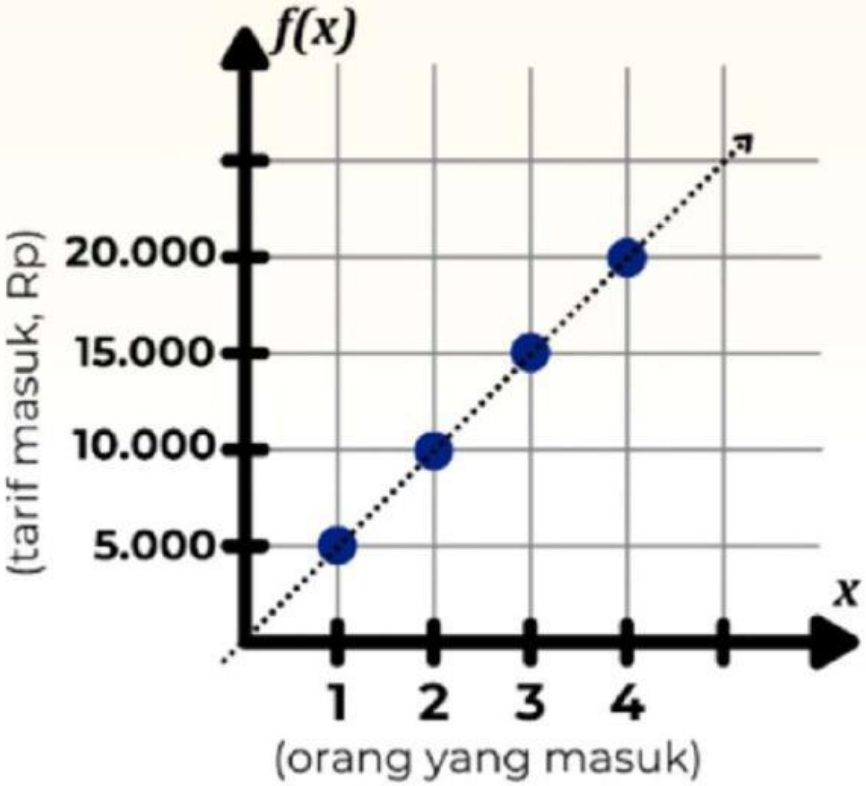

Grafik tersebut menunjukkan suatu fungsi relasi yaitu relasi "tarif masuk". Anggota domain yang berada pada sumbu x, sedangkan anggota kodomain berada pada sumbu y. Noktah atau titik melambangkan setiap pasangan anggota domain yang terhubung tepat satu dengan anggota kodomain.

LIVEWORKSHEETS

3. Tabel

Jumlah orang (x)	Total tarif masuk ($f(x)$) (Rp)
1 orang	$5.000 \times 1 = 5.000$
2 orang	$5.000 \times 2 = 10.000$
3 orang	$5.000 \times 3 = 15.000$
4 orang	$5.000 \times 4 = 20.000$

Terlihat pada tabel 2, x merupakan jumlah orang yang merupakan domain dan f(x) merupakan total tarif masuk (kodomain) fungsi dari relasi "tarif masuk".

4. Pasangan Berurut

$$f = \{(1, 5.000), (2, 10.000), (3, 15.000), (4, 20.000)\}$$

Suatu fungsi f dihubungkan dari domain (jumlah orang) ke kodomain (total tarif masuk) apabila "tarif masuk" adalah relasi yang ditentukan.

LIVEWORKSHEETS

5. Persamaan Fungsi

Berdasarkan tabel 2 maka kita mendapatkan pola sehingga kita mendapati bahwa persamaan fungsi yang menghubungkan jumlah orang yang masuk (x) dengan total tarif masuk (f (x)) adalah:

$$f(x) = 5000x$$

Fungsi ini digunakan untuk menghitung total tarif masuk berdasarkan jumlah orang yang masuk wisata.

Maka, jika jumlah orang yang masuk wisata sebanyak 4 orang, kita dapat menghitung total tarif masuk wisata yang harus dibayarkan dengan persamaan fungsi tersebut.

$$f(x) = 5.000x$$
$$f(4) = 5.000(4)$$
$$f(4) = 20.000$$

Jadi, tarif masuk wisata yang harus dibayarkan 4 orang sebanyak Rp 20.000

LIVEWORKSHEETS

Kasus 1

Sebuah Perusahaan taksi merupakan bahwa tarif awal Rp. 7.000 dan tarif setiap kilometer Rp. 3.200.

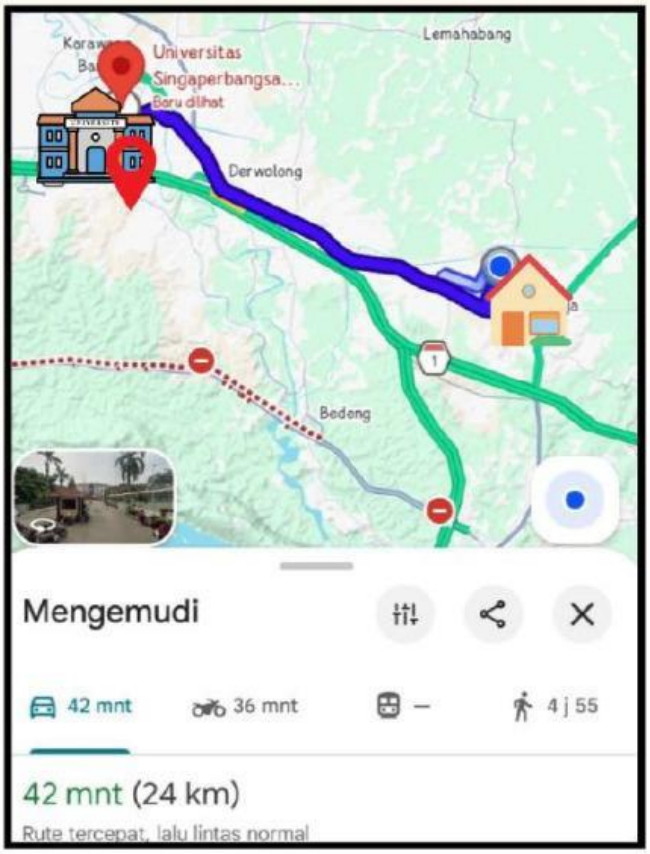

1. Dapatkah kalian menetapkan tarif untuk 5 km, 15 km, dan 25 km?
2. Dapatkah kalian membuat rumus fungsi yang dapat terbentuk dari masalah ini?
3. Jika Dodi ingin pergi dari rumah ke Universitas Singaperbangsa Karawang maka berapa tarif yang harus dibayar Dodi?
4. Jika Hanin menaiki taksi tersebut dan dikenakan tarif sebesar Rp. 71.000, maka berapa kilometer jarak yang ditempuh taksi tersebut?

LIVEWORKSHEETS

Untuk memecahkan masalah diatas, yuk kita lengkapi tabel dibawah ini!

Kilometer	Cara Menentukan	Tarif
0 km	7.000 + 0 × 3.200	Rp. 7.000
1km	.....+.....×.....	Rp. .....

1. Dari tabel diatas, kita dapat menentukan tarif 5 km, 15 km, dan 25 km dengan tabel berikut!

Kilometer	Cara menentukan	Tarif
5 km	.....+.....×.....	Rp. .....
15 km	.....+.....×.....	Rp. .....
25 km	.....+.....×.....	Rp. .....
n	.....+.....×.....	

2. Rumus fungsi yang terbentuk adalah :

$$f(n) = \text{.....} + \text{.....} \times \text{.....}$$

atau $f(n) = \text{.....} + \text{.....} n$

LIVEWORKSHEETS

3. Dari rumus fungsi yang sudah terbentuk, maka kita dapat menentukan tarif Dodi dari rumah ke Universitas Singaperbangsa Karawang.

$n =$.....km (jarak tempuh Dodi)

Berarti $f(.....) =$.....+.....×.....

$f(.....) =$.....+.....

$f(.....) =$.....

Jadi, Dodi harus membayar tarif taksi menuju Universitas Singaperbangsa Karawang sebesar Rp. .....

4. Kebalikan dari Dodi, Hanin membayar Rp. 71.000, maka berapa jarak yang ditempuh?

$$f(n) = 71.000$$

.....+.....$n = 71.000$

.....$n = 71.000 -$ .....

$n = \frac{.....}{.....} =$ .....km

LIVEWORKSHEETS

Kasus 2

Diberikan rumus fungsi f(x)=2x-3, dengan domain (daerah asal) {-2,-1,0,1,2}.

Tentukanlah range (daerah hasil)!

Perhatikan mesin pemecah batu dibawah ini!

DOMAIN	FUNGSI	KODOMAIN
(Daerah Asal)	f(x)=2x-3	(Daerah Kawan)
{-2,-1,0,1,2}		.... , ... , ... , ... , ...

Diibaratkan sebuah mesin pemecah batu, setiap bilangan yang dimasukkan kedalam mesin, akan mengeluarkan bilangan sesuai dengan fungsi yang diberikan. Hasil bilangan itulah yang dinamakan range atau daerah hasil.

LIVEWORKSHEETS

Apabila Dodi memasukkan salah satu bilangan dari domain ke dalam mesin fungsi. Berapakah hasil bilangan yang keluar? Mari kita coba hitung!

$$f(x) = 2x - 3$$

$$f(-2) = 2(\dots\dots) - 3$$

$$f(-2) = \dots\dots - 3$$

$$f(-2) = \dots\dots$$

Ketika bilangan -2 dimasukkan, maka bilangan yang dihasilkan adalah .....

LIVEWORKSHEETS

Kemudian bagaimana dengan domain-domain yang lainnya? Masih ada {-1,0,1,2} yang belum dimasukkan ke dalam mesin fungsi tersebut. Nah, yuk mari kita acari tahu bilangan apa yang dihasilkan dari domain-domain tersebut!

$x = -1$	$x = 0$	$x = 1$	$x = 2$
$f(x) = 2x - 3$	$f(x) = 2x - 3$	$f(x) = 2x - 3$	$f(x) = 2x - 3$
$f(-1) = 2(.....) - 3$	$f(0) = 2(.....) - 3$	$f(1) = 2(.....) - 3$	$f(2) = 2(.....) - 3$
$f(-1) = ...-3$	$f(0) = ...-3$	$f(1) = ...-3$	$f(2) = ...-3$
$f(-1) = ...$	$f(0) = ...$	$f(1) = ...$	$f(2) = ...$

Sekarang kita sudah mendapatkan nilai range dari seluruh domain yang ada. Coba pindahkan ke dalam tabel berikut!

x (Domain)	-2	-1	0	1	2
$f(x)$					
Titik Koordinat	(-2, ...)	(-1, ...)	(0, ...)	(1, ...)	(2, ...)

LIVEWORKSHEETS

Dari tabel diatas, kita dapat buat grafik ke dalam bidang kartesius.

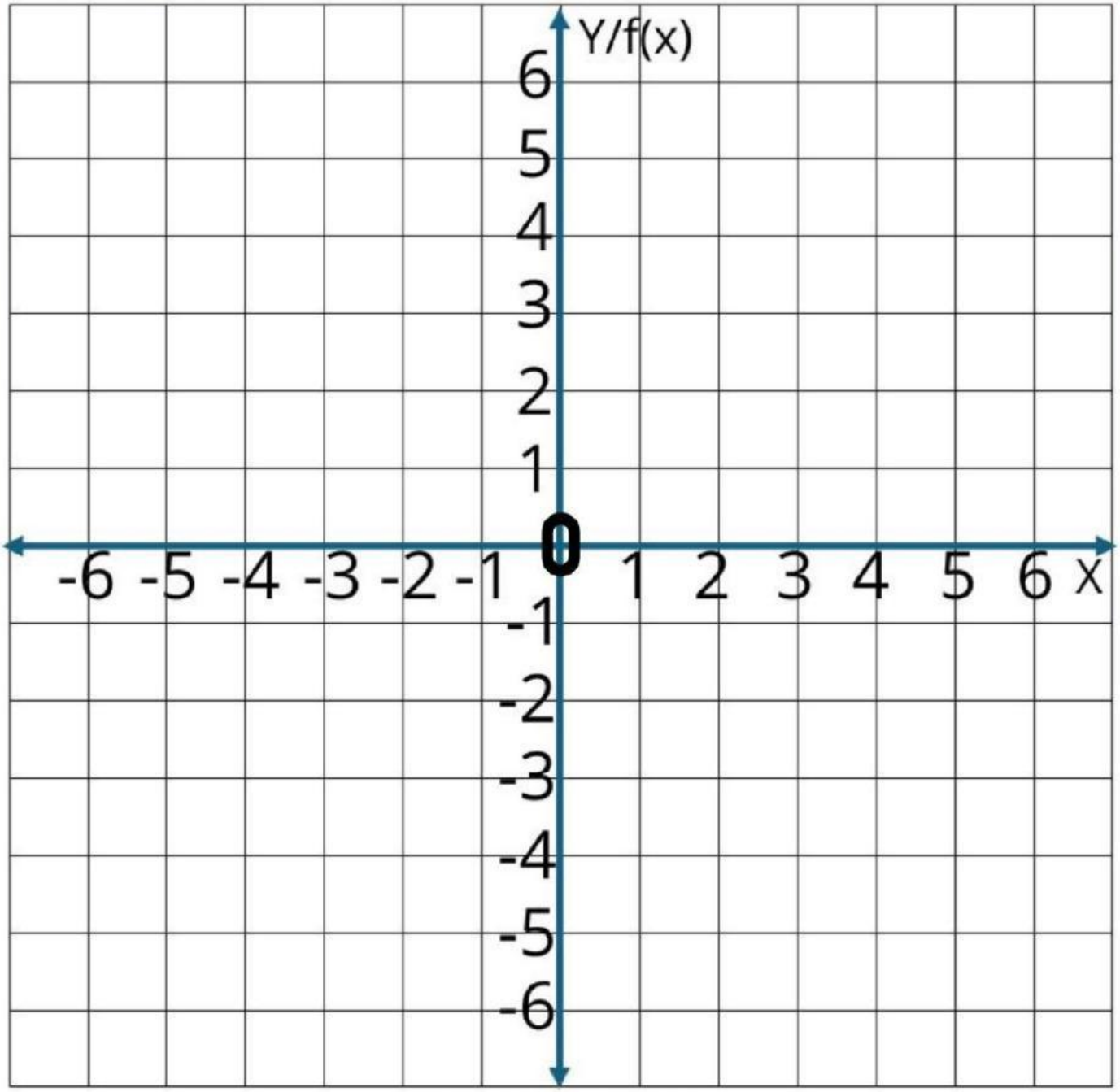

PETUNJUK!!!

Pindahkan titik-titik berikut ke dalam diagram kartesius sesuai dengan titik koordinat ya!

LIVEWORKSHEETS