# PHIẾU HỌC TẬP - KHTN 7

**Chủ đề:** Sinh sản ở sinh vật

Họ và tên: _____ Lớp: _____

## A. Khởi động

1. Quan sát hình và điền tên hình thức sinh sản:

- Hình thức sinh sản:

## B. Luyện tập

2. Sinh sản vô tính chỉ cần.....cơ thể mẹ.

3. Chọn đáp án đúng:

LIVEWORKSHEETS

*Sinh sản hữu tính có sự:*

A. Chỉ có ở thực vật

B. Có sự kết hợp giao tử

C. Không tạo hợp tử

D. Không cần giao tử

5. Nối:

| | |
|---|---|
| Sinh sản vô tính | Không có sự kết hợp giao tử |
| Sinh sản hữu tính | Có sự kết hợp giao tử |

6. Hãy mô tả sự thụ phấn và sự thụ tinh trong bằng cách sắp xếp thứ tự đúng bằng các số từ 1 đến 5

## III. SINH SẢN HỮU TÍNH Ở SINH VẬT

### 2. Sinh sản hữu tính ở thực vật

***b) Quá trình sinh sản hữu tính ở thực vật***

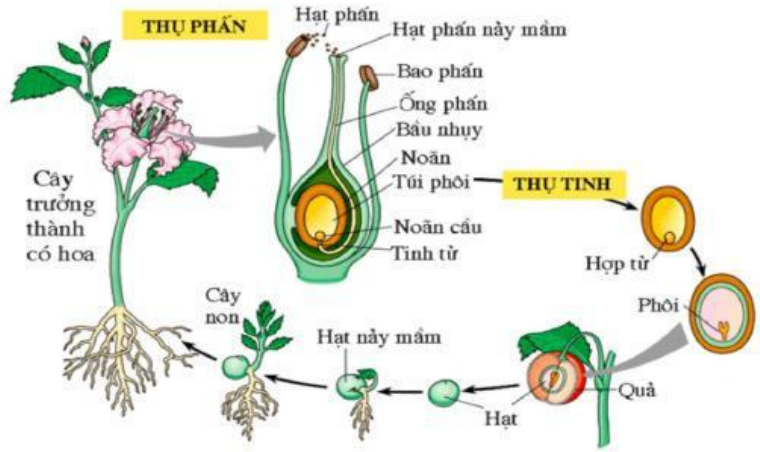


| Các sự kiện trong quá trình thụ phấn và thụ tinh | Thứ tự đúng |
|---|---|
| Ống phấn tiếp xúc với noãn. | |
| Giao tử đực kết hợp với giao tử cái tạo thành hợp tử. | |
| Hạt phấn rơi vào đầu nhụy và nảy mầm. | |
| Ống phấn mọc dài ra trong vòi nhụy và đi vào bầu nhụy. | |
| Nhụy và nhị cùng chín. | |

LIVEWORKSHEETS

# III. SINH SẢN HỮU TÍNH Ở SINH VẬT

## 2. Sinh sản hữu tính ở thực vật

***a) Cơ quan sinh sản của thực vật***

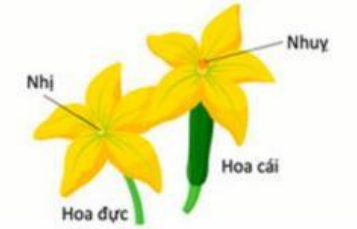


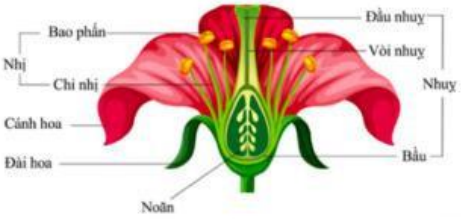


**Hoa nào là hoa lưỡng tính, hoa nào là hoa đơn tính?**

| Hoa lưỡng tính | Hoa đơn tính |
|---|---|
| | |

LIVEWORKSHEETS