LKPD

Penjumlahan & Pengurangan

Perhatikan Video Berikut ini:

Perhatikan Presentasi Berikut ini:

LIVEWORKSHEETS

LKPD

Penjumlahan & Pengurangan

1 Text Field

Adit memiliki 5 buah permen lalu ayah memberikan adit 8 permen lagi untuk adit, berapa banyak permen yang adit punya?.....

2 Single Choice

Berapa hasil dari 12-5?.....

3 CheckBoxes

Peryataan yang benar Adalah…….

- [ ] Bilangan pengurangan (-)
- [ ] Bilangan penjumlahan (+)
- [ ] Bilangan penjumlahan (-)

4 Select

Hasil dari penjumlahan di bawah Adalah?

6 + 3 = ____

- 5
- 4
- 7
- 3

LIVEWORKSHEETS

LKPD

Penjumlahan & Pengurangan

5 Word Search

S	A	T	E	T	U
A	L	O	N	U	K
T	I	G	A	J	P
U	M	A	M	U	C
A	A	B	A	H	H
N	U	L	A	A	R

6 SPEAK

Sebutkan jawaban dari pengurangan tersebut!

10 - 8 =

LIVEWORKSHEETS

LKPD

Penjumlahan & Pengurangan

7 Listening

Dengarkan suara berikut dan tuliskan jawabannya dengan tepat!

8 Drag and Drop

Tentukan jawaban yang sesuai dengan gambar

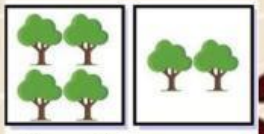

4 + 2 =

9 - 4 =

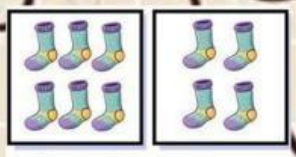

6 + 4 =

5

10

7

LIVEWORKSHEETS

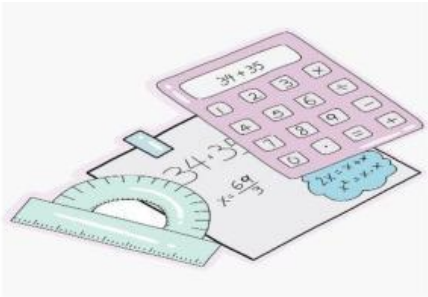

LKPD

Penjumlahan & Pengurangan

9 JOIN

Buatlah garis ke jawaban yang benar

11 - 7 =	14
6 + 8 =	9
14 - 5 =	4

LIVEWORKSHEETS