الاسم: .....

التاريخ: .....

ورقة عمل رياضيات

القيمة المنُزلية

الصف الأول الابتدائي

الآحاد	العشرات
1	10
تمثل شيئًا واحداً	تمثل مجموعة من 10

تتكون الأعداد من رقمين:
العشرات و الآحاد.

1 اكتب عدد العشرات وعدد الآحاد، ثم اكتب العدد.

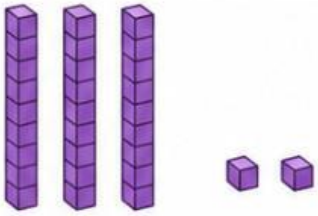

العدد	آحاد	عشرات

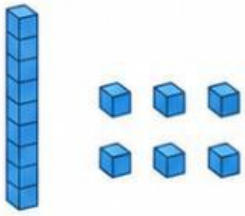

العدد	آحاد	عشرات

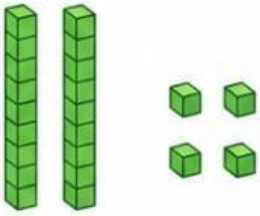

العدد	آحاد	عشرات

2 اكتب العدد الذي تمثله القيمة المنزلية.

الآحاد	العشرات
1	6

الآحاد	العشرات
3	4

الآحاد	العشرات
7	2

3 قارن بين العددين، ثم ضع إشارة (> أو < أو =).

16 ◯ 61

30 ◯ 35

42 ◯ 24

أنت رائع! استمر في التقدم

LIVEWORKSHEETS