LKPD

ILMU PENGETAHUAN ALAM DAN SOSIAL

Nama : .....

Kelas : .....

LIVEWORKSHEETS

Nama : _____ Kelas : _____

Perubahan Wujud Zat

Tentukanlah perubahan zat yang terjadi dengan mengisi tabel kosong di bawah ini!

Benda	Perubahan Wujud	Dari Zat Menjadi Zat
	Mencair	Padat menjadi cair

LIVEWORKSHEETS

Nama :

Kelas :

Perubahan Wujud Benda

Hubungkan gambar perubahan wujud benda di bawah ini dengan namanya!

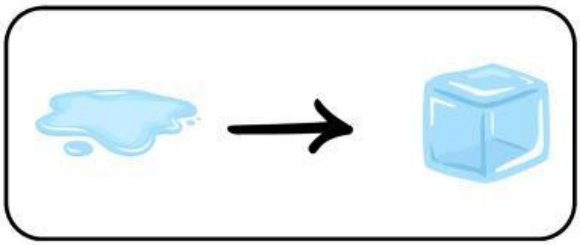

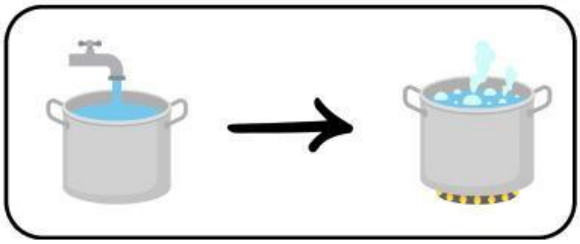

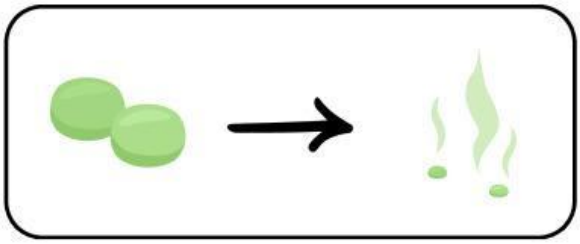

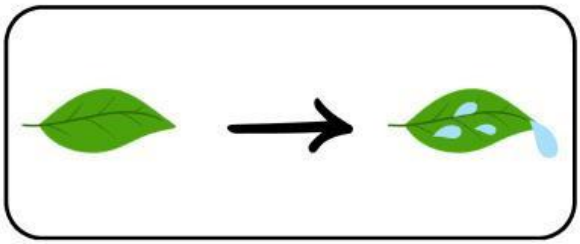

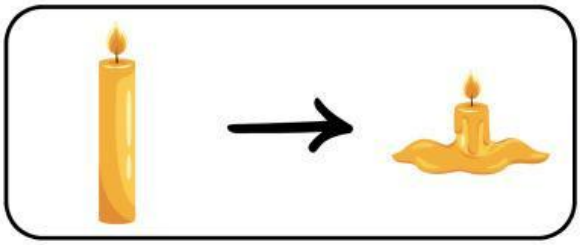

- Mengembun
- Mencair
- Membeku
- Menyublim
- Menguap

LIVEWORKSHEETS

Nama : _____

Kelas : _____

PERUBAHAN WUJUD BENDA

Hubungkan perubahan wujud yang tepat dengan nama proses perubahan wujudnya!

- Mencair

- Mengembun

- Membeku

- Menyublim

- Menguap

LIVEWORKSHEETS