INSTITUTO SAN FRANCISCO DE ASÍS
AÑO ESCOLAR 2020 – 2021
EVALUACION DE BIOLOGÍA

1. Relaciona cada tipo de digestión con la definición correspondiente.

a. Digestión extracelular		Ocurre por acción directa de enzimas.
b. Digestión intracelular		Se realiza directamente en las células de los organismos.
c. Digestión mecánica		Ocurre dentro de organelos celulares.
d. Digestión química		Ocurre la degradación física de los alimentos.

2. Completa el siguiente cuadro indicando el tipo de digestión que realiza cada uno de los siguientes grupos de seres vivos:

Grupo	Tipo de digestión
Hongos	
Poríferos	
Anélidos	
Anfibios	
Reptiles	
Aves	
Mamíferos	

3. Observa y compara el sistema digestivo de estos dos animales vertebrados. Responde:

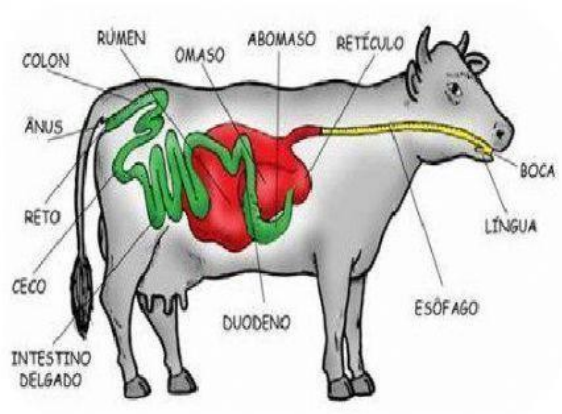

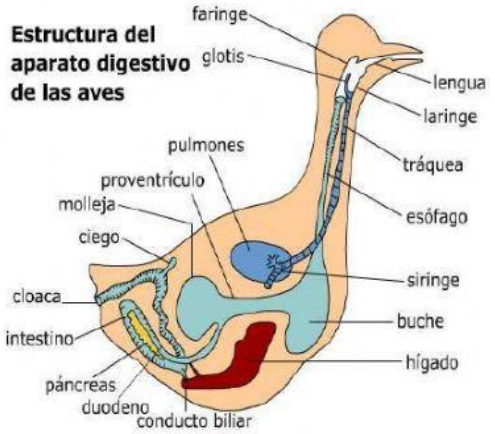

a. ¿Qué estructuras tienen en común?

_____

_____

LIVEWORKSHEETS

b. ¿Qué órganos son diferentes?

_____

_____

c. Qué alimentos consume cada uno de estos animales.

_____

_____

d. Establece la relación que existe entre la dieta de cada uno de ellos y los órganos que posee su sistema digestivo.

_____

_____

4. Observe el esquema del proceso digestivo y escriba el nombre de la etapa correspondiente en el recuadro

RESUMEN DEL PROCESO DIGESTIVO

En su recorrido a lo largo del tubo digestivo los alimentos se ven sometidos a los siguientes proceso.

DIGESTIÓN	EGESTIÓN	ABSORCIÓN	INGESTIÓN

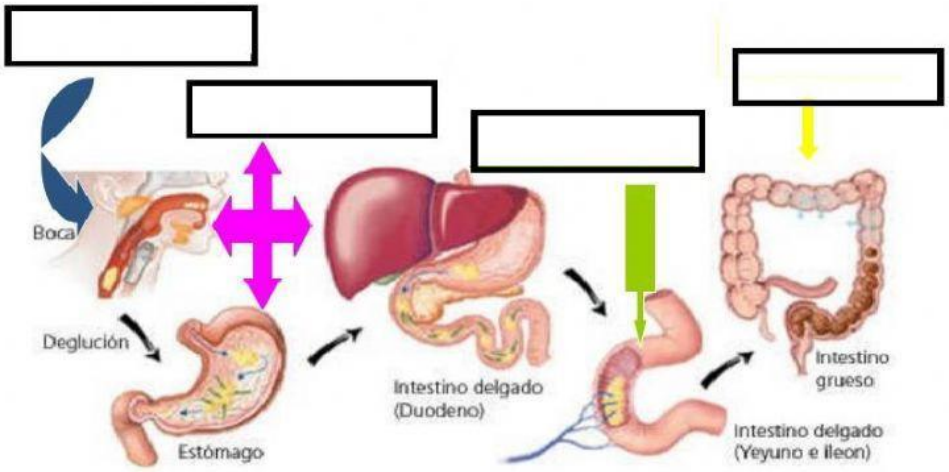

LIVEWORKSHEETS