LKPD

BANGUN DATAR

Perhatikan video berikut ini:

Perhatikan materi presentasi berikut ini:

LIVEWORKSHEETS

LKPD

BANGUN DATAR

1. **TEKS FIELD**
   Bangujn datar segi empat yang ke empat sisi nya sama panjang dan keempat sudut nya siku-siku atau 90°

2. **SINGLE CHOICE**
   Berikut ini yang bukan merupakan bangun datar

3. **CHECKBOXES**
   Pernyataan yang benar
   - [ ] Persegi memiliki empat sisi
   - [ ] Lingkaran memiliki enam sisi
   - [ ] Segitiga memiliki tiga sisi

4. **SELECT**
   Nama bangun datar dibawah ini adalah

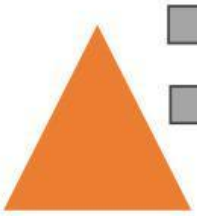

- [ ] Persegi
- [ ] Segitiga
- [ ] Persegi Panjang
- [ ] Lingkaran

LIVEWORKSHEETS

LKPD

BANGUN DATAR

5. WORD SEARCH

   Temukan 3 kata pada kotak dibawah ini

S	S	I	S	I
M	U	L	I	N
O	S	D	K	T
D	K	C	U	K
U	G	X	M	T

6. SPEAK

   Sebutkan nama bangun datar berikut dengan tepat!

7. LISTENING

   Dengarkan suara berikut dan tuliskan jawabannya dengan tepat!

8. DRAG & DROP

   Tentukan rumus yang sesuai dengan gambar

LIVEWORKSHEETS

LKPD

BANGUN DATAR

$$L = \frac{1}{2} x\ Alas\ x\ Tinggi$$

L = Panjang x Lebar

$$L = \pi \text{ x r x r}$$

9. JOIN

   Buatlah garis kejawaban yang benar

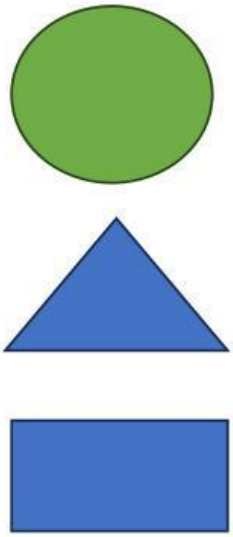



LIVEWORKSHEETS