LKPD

BANGUN DATAR

Perhatikan Video berikut ini

Perhatikan materi presentasi berikut ini

LIVEWORKSHEETS

LKPD

BANGUN DATAR

1. **TEKSFIELD**

Bangun datar segi empat yang keempat sisinya sama Panjang dan keempat sudutnya siku-siku atau 90 adalah….

2. SINGLE CHOISE

Berikut ini yang bukan merupakan bangun datar Adalah……..

3. CHECKBOXES

Pertanyaan yang benar Adalah……

- [ ] Persegi memilih 4 sisi
- [ ] lingkaran memiliki 6 sisi
- [ ] Segitiga memiliki 3 sisi

4. SELECT

Nama bangun datar dibawah ini Adalah…..

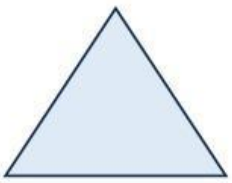

- [ ] Persegi
- [ ] Segitiga
- [ ] Persegi Panjang
- [ ] Lingkaran

LIVEWORKSHEETS

LKPD

BANGUN DATAR

5. **WORD SEARCH**

Temukan 3 kata pada bentuk dibawah ini

S	S	I	S	I
M	U	L	I	N
O	S	D	K	T
O	K	C	U	K
U	G	K	M	T

6. **SPEAK**

Sebutkan nama bangun datar berikut dengan benar!

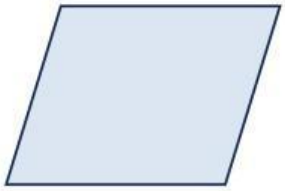

7. **LISTENING**

Dengarkan suara berikut dan Tuliskan jawaban dengan tepat!

LIVEWORKSHEETS

LKPD

BANGUN DATAR

8 **DRAG & DROP**

Tentukan rumus yang sesuai dengan gambar

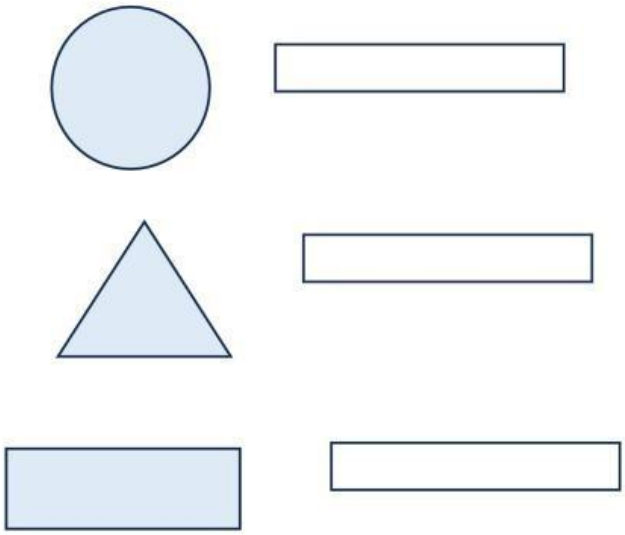

$l = \frac{1}{2}$ *xalas x tinggi*

L = *panjang x lebar*

$L = \pi$ *x r x r*

LIVEWORKSHEETS

LKPD

BANGUN DATAR

9. JOIN

Buatlah garis kejawaban yang benar

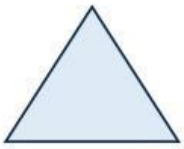

Persegi Panjang

Lingkaran

Segitiga

LIVEWORKSHEETS

LKPD

BANGUN DATAR

LIVEWORKSHEETS