luyện tập

1 Đặt tính rồi tính.

a) 47 + 20 | 67 – 20 | 67 – 47

b) 56 + 41 | 97 – 56 | 97 – 41

2 Bạn nào cầm thẻ ghi phép tính có kết quả lớn nhất?

Nam



Mai



Việt



Rô-bốt

3 Đo chiều cao ba bạn rô-bốt được kết quả như hình vẽ. Hỏi bạn nào cao nhất? Bạn nào thấp nhất?



A B C

LIVEWORKSHEETS