Lembar Kerja Peserta Didik

LKPD

CIRI & SIFAT BANGUN RUANG

Nama : _____

Kelas : _____



LIVEWORKSHEETS

Nama: _____ Tanggal: _____

Penjumlahan dengan Cerita Sederhana

Arahan! Bacalah soal cerita berikut ini dengan teliti. Berilah tanda silang pada jawaban yang benar!

1. Lia memetik 1 bunga, lalu Nenek memberinya 6 bunga. Berapa jumlah bunga Lia sekarang?

A. 8 bunga | B. 7 bunga | C. 5 bunga

2. Pada bunga terdapat 2 kupu-kupu yang hinggap, lalu datang 3 kupu-kupu lagi. Ada berapa kupu-kupu sekarang?

A. 3 kupu-kupu | B. 4 kupu-kupu | C. 5 kupu-kupu

3. Sita menabung 7 koin hari ini. Kemarin ia menabung 3 koin. Berapa jumlah koin yang ditabung Sisi?

A. 10 koin | B. 8 koin | C. 4 koin

LIVEWORKSHEETS

Nama : _____ Nama : _____ Tanggal : / /

Hitung setiap hewan dalam kotak,
kemudian tarik garis jawaban angka yang benar!





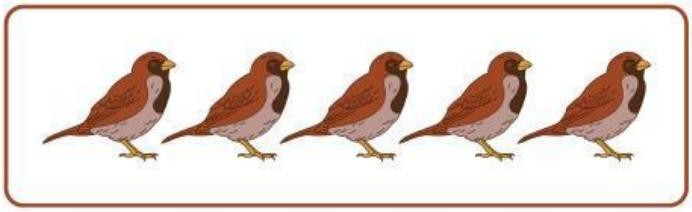

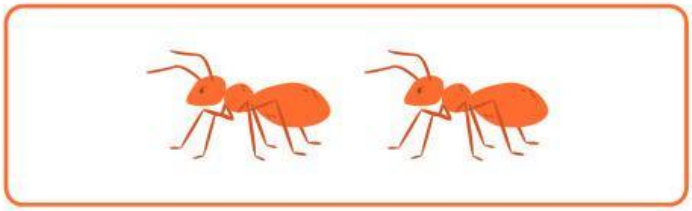

5

3

1

6

2

4

LIVEWORKSHEETS

BELAJAR MATEMATIKA

Nama: _____

Kelas: _____

Panduan

Bacalah setiap soal dengan teliti, lalu jawab dengan benar!

1. 1 + 1 =

_____

2. Ani beli balon 5 ditambah punya Jodi 5. Jadi balon punya Ani dan Jodi berapa?

_____

3. 5 x 5 =

_____

4. 5 x 20 =

_____

5. 10 + 20 =

_____

LIVEWORKSHEETS

Nama: Tanggal:

Habitat Hewan

Gunting gambar hewan dan tempelkan pada kelompok yang sesuai

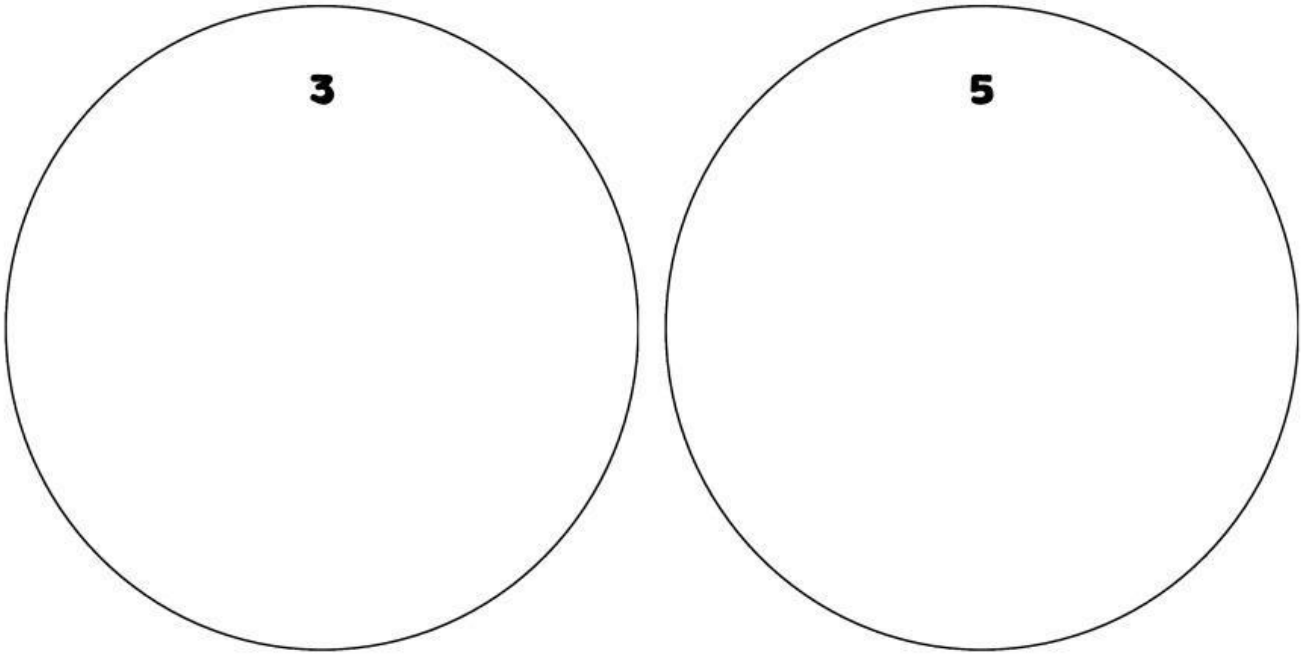



LIVEWORKSHEETS