Lembar Kerja Peserta Didik

LKPD

MATEMATIKA

Nama : _____

Kelas : _____



LIVEWORKSHEETS

Nama: _____ Tanggal: _____

Pengurangan dengan Cerita Sederhana

Arahan! Bacalah soal cerita berikut ini dengan teliti. Berilah tanda silang pada jawaban yang benar!

1. Lala memiliki 6 jepit rambut. 3 jepit rambut patah dan tidak bisa dipakai lagi. Berapa sisa jepit rambut Lala yang masih bagus?

A. 3 jepit rambut B. 2 jepit rambut C. 5 jepit rambut

2. Pada pohon mangga terdapat 10 buah mangga. Paman memetiknya sebanyak 5 buah. Berapa sisa buah mangga di pohon sekarang?

A. 3 mangga B. 4 mangga C. 5 mangga

3. Pada awalnya Tio memiliki 10 kelereng. Lalu 6 kelereng hilang. Berapa sisa kelereng yang dimiliki Tio sekarang?

A. 7 kelereng B. 8 kelereng C. 4 kelereng

LIVEWORKSHEETS

Nama: No. Presensi:

ISIAN

Perhatikan pertanyaan di bawah ini, kemudian jawab dengan benar!

1. Hasil dari 2+6 adalah....

Jawab: _____

_____

2. Hasil dari 10-8 adalah....

Jawab: _____

_____

3. Hasil dari 5x10 adalah...

Jawab: _____

_____

LIVEWORKSHEETS

Nama : _____ Nama : _____ Tanggal : / /

Hitung setiap hewan dalam kotak,
kemudian tarik garis jawaban angka yang benar!







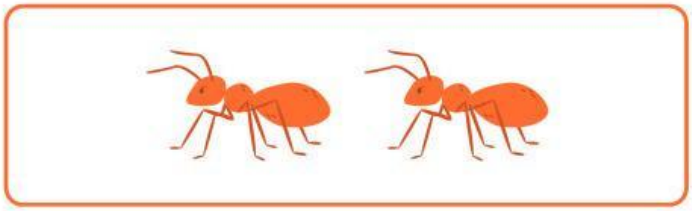

5

3

1

6

2

4

LIVEWORKSHEETS

Nama : _____

Kelas : _____

BANGUN DATAR

Gunting dan kelompokkanlah bangun datar di bawah ini!



LIVEWORKSHEETS