	ESCUELA MERCEDES GONZALEZ **Quito-Ecuador**	2025- 2026

EXAMEN DEL TERCER TRIMESTRE				
Asignatura: CIENCIAS NATURALES	**Año de EGB:**	**Paralelo:**	**Fecha:**	**Nota:**
Nombre del Estudiante:				

1.- OBSERVA Y MARCA CON UNA X LA RESPUESTA CORRECTA **(1p)**

a) ¿Qué fuerza hace que los objetos caigan al suelo?



( ) La energía

( ) La gravedad

( ) El agua

b) ¿Quién nos da energía natural durante el dia





( ) La luna

( )El sol

( )La lluvia

2.- UBICA LAS PALABRAS CORRECTAS EN LOS SIGUIENTES CONCEPTOS USE ESTAS PALABRAS (1.25P)

GRAVEDAD – ENERGÍA – FUERZA – NORMAL – ANCESTRALES

1. La _____ hace caer los objetos.
2. La luz necesita _____.
3. Empujar una silla es aplicar una _____.
4. La fuerza _____ aparece en una mesa o piso.
5. Las plantas medicinales son conocimientos _____.

LIVEWORKSHEETS

3.- Encierre las respuestas correctas **(1 P)**

a) ¿Cuál es un ejemplo de energía renovable?

a) El petróleo

b) El carbón

c) La energía del Sol

d) El gas natural

4.- Escribe V si es verdadero o F si es falso. **(1P)**

La luz viaja en línea recta. ( )

El petróleo es una fuente de energía que nunca se acaba. ( )

La energía no se crea ni se destruye, solo se transforma. ( )

Cuando el agua se congela se llama condensación. ( )

5.- Observe y completa el concepto de los movimientos de la tierra con la palabra del recuadro. **(1p)**

Traslación, rotación

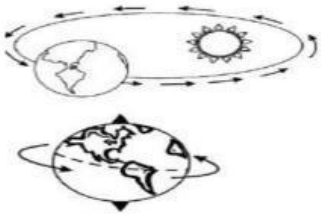

a) Gira sobre su mismo eje: El movimiento de ----------

b) Gira alrededor del sol: El movimiento de ----------

6.- Une cada estado del agua con su ejemplo: **(1 p)**

- SÓLIDO
- LÍQUIDO
- GASEOSO

LIVEWORKSHEETS

7.-Ubique los nombres en la imagen sobre el ciclo del agua **(1p)**



8.- Ordene las etapas de la potabilizacion del agua escribiendo los numeros del 1 al 6 **(1p)**

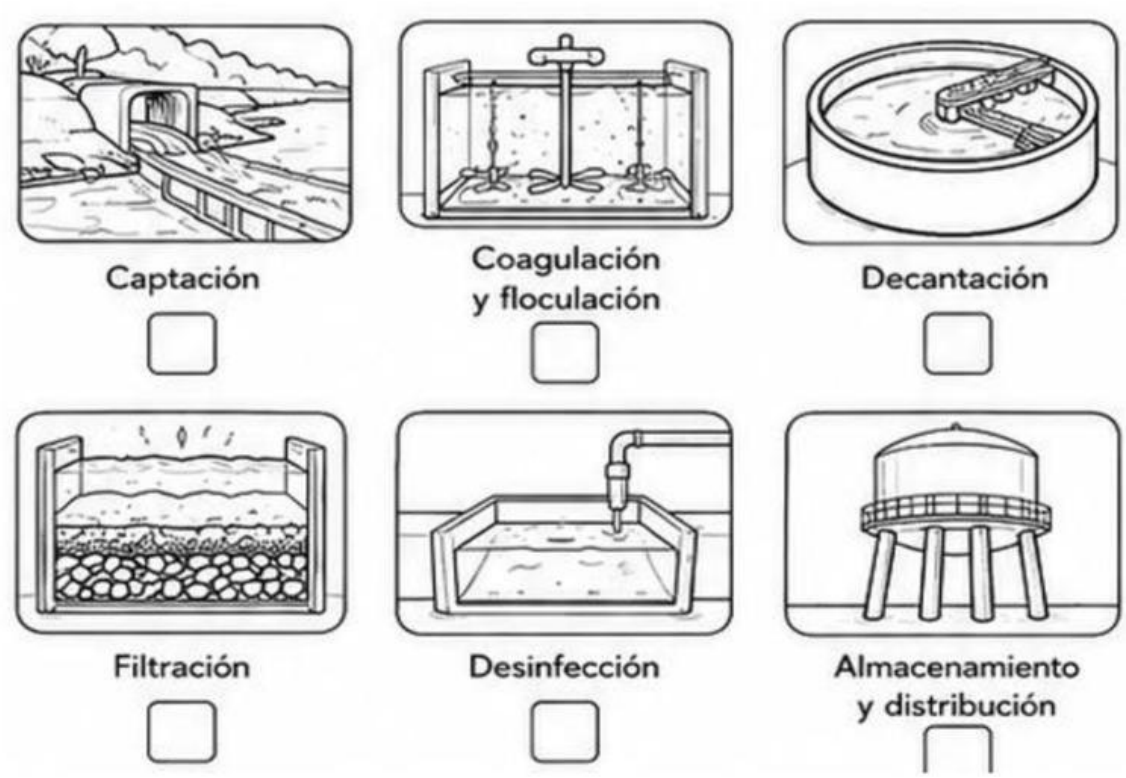

LIVEWORKSHEETS

9.- Marque con una X ¿Qué se elimina durante la potabilizacion del agua? **(1p)**

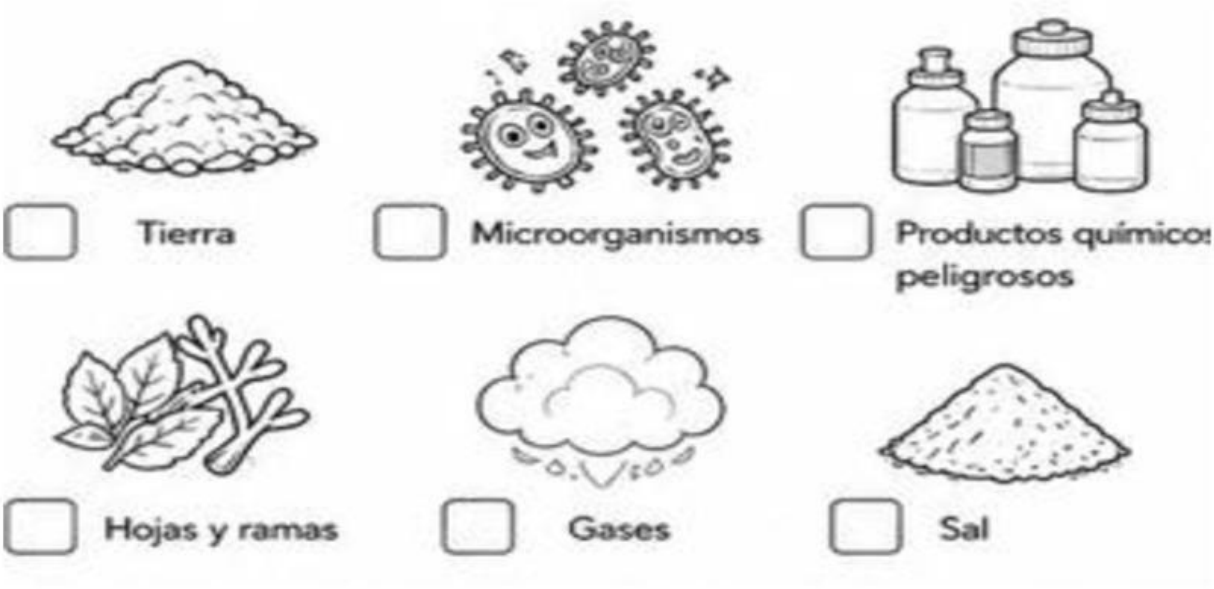

10.- PINTE LA IMAGEN QUE DEMUESTRE LOS CONOCIMIENTOS ANCESTRALES **(0.75)**

LIVEWORKSHEETS