# BANGUN RUANG

Nama : _____

Kelas : _____

**Berilah tanda centang (✓) pada jawaban yang benar!**

1. Manakah benda yang berbentuk kubus?

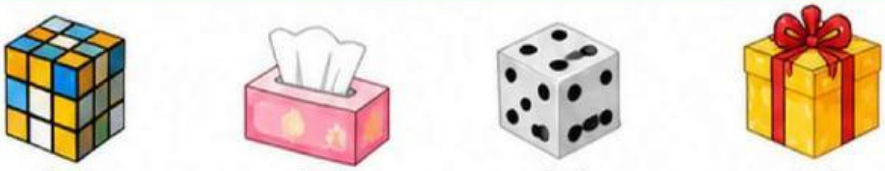

2. Manakah benda yang berbentuk balok?



3. Manakah benda yang berbentuk tabung?

4. Manakah benda yang berbentuk kerucut?

5. Manakah benda yang berbentuk bola?

LIVEWORKSHEETS

# BANGUN RUANG

Nama : _____

Kelas : _____

**A. Beri tanda centang (✓) pada gambar yang berbentuk kubus!**

☐ ☐ ☐ ☐ ☐ ☐

**B. Beri tanda centang (✓) pada gambar yang berbentuk balok!**

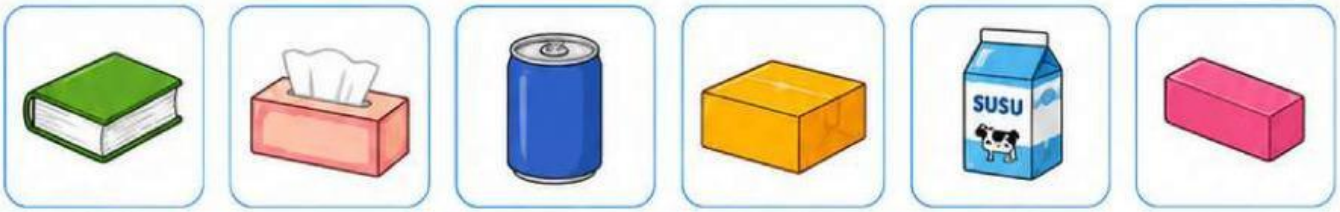


☐ ☐ ☐ ☐ ☐ ☐

**C. Beri tanda centang (✓) pada gambar yang berbentuk tabung!**

☐ ☐ ☐ ☐ ☐ ☐

LIVEWORKSHEETS

# BANGUN RUANG

Nama : _____

Kelas : _____

**Hubungkan gambar dengan nama yang sesuai!**

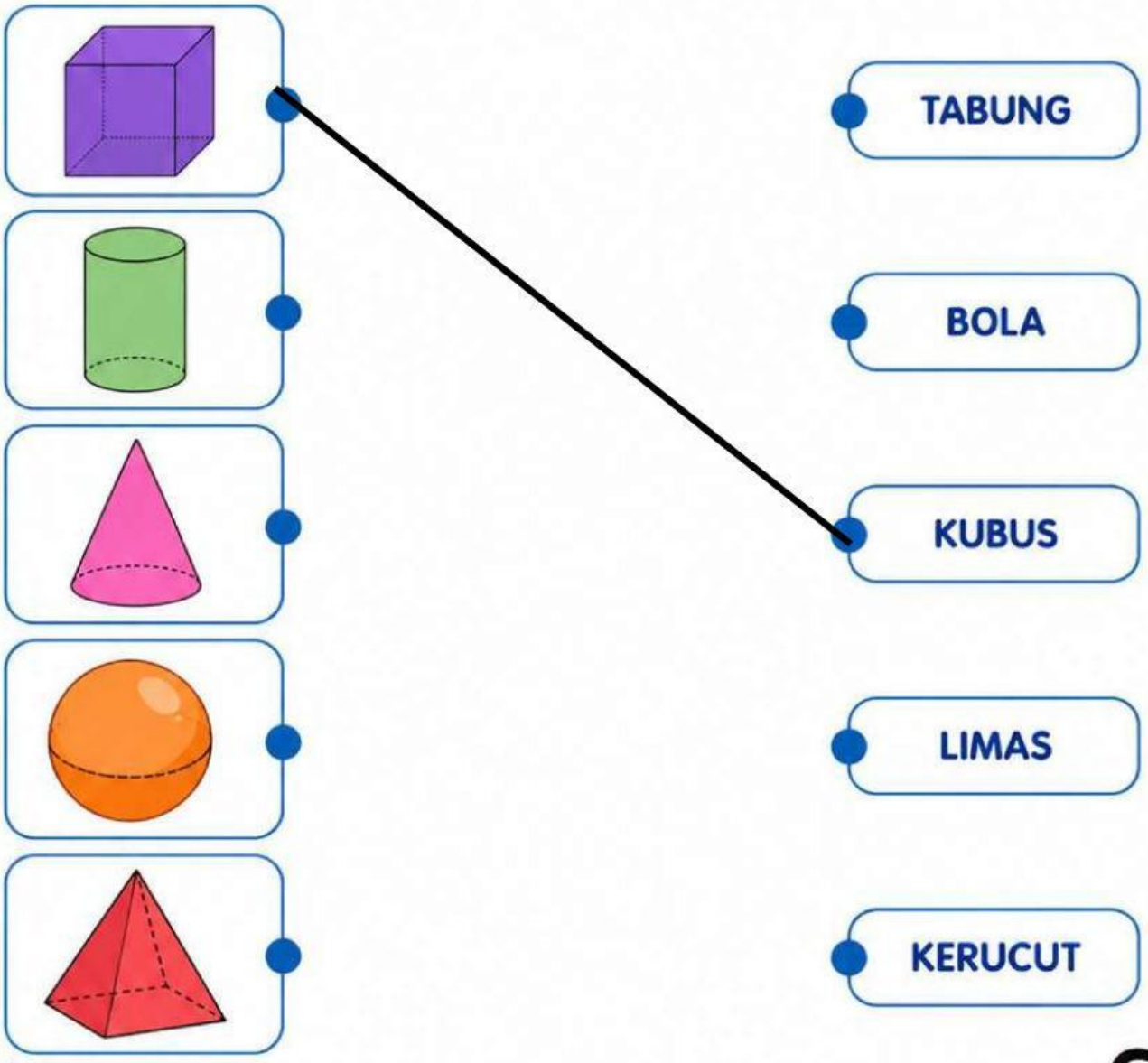


LIVEWORKSHEETS

# BANGUN RUANG

Nama : _____

Kelas : _____

**Pasangkan gambar benda konkrit dengan gambar bangun ruang di bawah ini!**

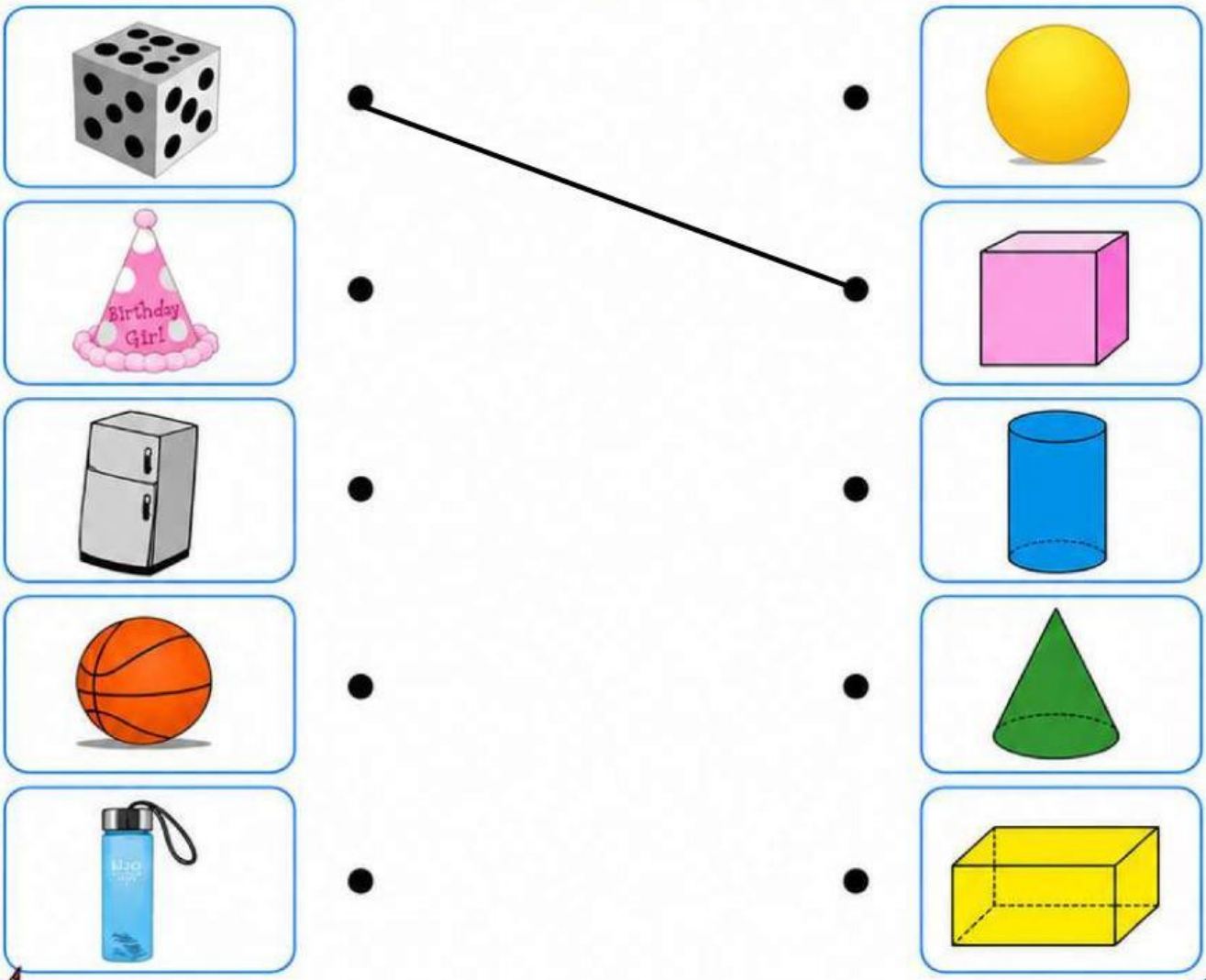


LIVEWORKSHEETS

# BANGUN RUANG

Nama : _____

Kelas : _____

## Pasangkan Bangun Ruang dengan Ciri-cirinya!

Tarik garis untuk memasangkan dengan benar!

1.

2.

3.

4.

5.

- Memiliki 2 sisi datar dan 1 sisi lengkung
- Memiliki rusuk lengkung tanpa rusuk

- Memiliki 6 sisi berbentuk persegi yang sama
- Memiliki 12 rusuk
- Memiliki 8 titik sudut

- Memiliki 1 sisi lengkung tanpa rusuk dan titik sudut

- Memiliki 1 sisi lengkung dan 1 sisi datar
- Memiliki 1 rusuk lengkung dan 1 titik puncak

- Memiliki 6 sisi, 12 rusuk, dan 8 titik sudut
- Sisi yang berhadapan berbentuk persegi panjang

LIVEWORKSHEETS

# BANGUN RUANG

Nama : _____

Kelas : _____

**Berapa banyak rusuk pada bangun ruang berikut?**

1. 

2. 

24

3.

4.

5.

LIVEWORKSHEETS

# BANGUN RUANG
# ISI TITIK-TITIK

**Nama** : _____

**Kelas** : _____

**Petunjuk:** Isilah titik-titik pada kotak kosong dengan nama bangun ruang yang tepat sesuai dengan gambar yang diberikan!

1. → .....

2. → .....

3. → .....

4. → .....

5. → .....

6. 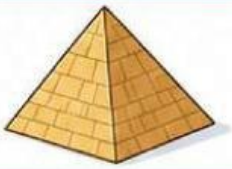 → .....

Kerjakan dengan teliti dan semangat!

LIVEWORKSHEETS

# BANGUN RUANG

**Nama** : _____

**Kelas** : _____

**Hitunglah banyak rusuk pada setiap bangun ruang berikut!**

**1. Kubus**

Banyak rusuk = 12

**2. Balok**

Banyak rusuk = _____

**3. Tabung**

Banyak rusuk = _____

**4. Prisma Segitiga**

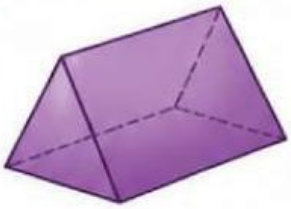

Banyak rusuk = _____

**5. Limas Segitiga**

Banyak rusuk = _____

**6. Limas Segiempat**

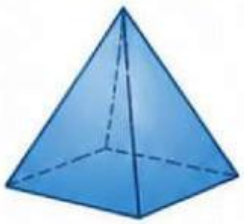

Banyak rusuk = _____

**7. Prisma Segi Lima**

Banyak rusuk = _____

**8. Kerucut**

Banyak rusuk = _____

**9. Prisma Segi Enam**

Banyak rusuk = _____

LIVEWORKSHEETS

# BANGUN RUANG

Nama : _____

Kelas : _____

**Jawablah pertanyaan berikut dengan menuliskan jawaban singkat pada garis yang tersedia!**

1.

   Benda di samping berbentuk apa?

   **Jawab :** Kubus

2.

   Benda di samping berbentuk apa?

   **Jawab :** _____

3.

   Benda di samping berbentuk apa?

   **Jawab :** _____

4.

   Benda di samping berbentuk apa?

   **Jawab :** _____

5.

   Benda di samping berbentuk apa?

   **Jawab :** _____

6.

   Benda di samping lebih mirip bangun ruang apa?

   **Jawab :** _____

7.

   Benda di samping lebih mirip bangun ruang apa?

   **Jawab :** _____

8.

   Benda di samping lebih mirip bangun ruang apa?

   **Jawab :** _____

LIVEWORKSHEETS

# TEKA-TEKI BANGUN RUANG

**Nama** : _____

**Kelas** : _____

**Petunjuk:**

1. Temukan nama bangun ruang yang tersembunyi dalam kotak huruf.
2. Kata dapat ditulis mendatar (→), menurun (↓), atau diagonal (↘).
3. Lingkari atau beri tanda pada kata yang kamu temukan.

| | | | | | | | | | |
|---|---|---|---|---|---|---|---|---|---|
| K | U | B | U | S | A | B | C | D | E |
| X | Y | Z | A | B | A | L | O | K | F |
| P | Q | R | S | T | U | V | W | X | Y |
| P | R | I | S | M | A | B | C | D | Z |
| A | B | C | D | E | F | G | H | I | J |
| T | A | B | U | N | G | K | L | M | N |
| O | P | Q | R | S | T | U | V | W | X |
| L | I | M | A | S | B | C | D | E | F |
| A | B | C | D | U | F | G | K | I | J |
| K | L | M | N | O | P | Q | R | S | T |

**Daftar Kata yang Dicari**

- KUBUS .....
- BALOK .....
- PRISMA .....
- TABUNG .....
- LIMAS .....

**Tahukah Kamu?**

Bangun ruang adalah benda tiga dimensi yang memiliki panjang, lebar, dan tinggi.

**Tuliskan di sini:**

1. _____
2. _____

LIVEWORKSHEETS