LKPD

LEMBAR KERJA PESERTA DIDIK

MATEMATIKA

Materi: Perkalian

Nama : .....

Kelas : .....

Tanggal : .....

Petunjuk:

1. Bacalah soal dengan teliti.
2. Hitung jumlah benda menggunakan perkalian.
3. Tuliskan jawaban pada kotak yang tersedia.

Ayo Menghitung dengan Perkalian!

1

Ada 3 kelompok, setiap kelompok berisi 5 ekor sapi.

3 × 5 = ___ Jawaban:

2

4 kelompok ayam, setiap kelompok berisi 2 ekor ayam.

4 × 2 = ___ Jawaban:

3

2 kelompok kambing, setiap kelompok berisi 6 ekor kambing.

2 × 6 = ___ Jawaban:

4

5 kelompok bebek, setiap kelompok berisi 3 ekor bebek.

5 × 3 = ___ Jawaban:

5



3 kelompok ikan, setiap kelompok berisi 4 ekor ikan.

3 × 4 = ___ Jawaban:

6



4 kelompck kelinci, setiap kelompok berisi 5 ekor kelinci.

4 × 5 = ___ Jawaban:

7

2 kelompok kupu-kupu, setiap kelompok berisi 7 ekor kupu-kupu.

2 × 7 = ___ Jawaban:

8

5 kelompok lebah, setiap kelompok berisi 2 ekor lebah.

5 × 2 = ___ Jawaban:

9

3 kelompok katak, setiap kelompok berisi 8 ekor katak.

3 × 8 = ___ Jawaban:

10



4 kelompok kura-kura, setiap kelompok berisi 3 ekor kura-kura.

4 × 3 = ___ Jawaban:

Nilai:

Paraf Guru:

LIVEWORKSHEETS

LKPD

LEMBAR KERJA PESERTA DIDIK

MATEMATIKA

Materi: Perkalian

Nama : .....

Kelas : .....

Tanggal : .....

Petunjuk:

1. Bacalah soal dengan teliti.
2. Kerjakan soal dengan cara menuliskan jawaban pada bagian yang tersedia.
3. Periksa kembali jawabanmu sebelum dikumpulkan.

Kerjakan Soal Esai Berikut!

1



Ada 3 kelompok sapi, setiap kelompok berisi 5 ekor sapi.

Berapa jumlah seluruh sapi?

Jawab:

.....

.....

2



Ada 4 kelompok ayam, setiap kelompok berisi 2 ekor ayam.

Berapa jumlah seluruh ayam?

Jawab:

.....

.....

3



Ada 2 kelompok kambing, setiap kelompok berisi 6 ekor kambing.

Berapa jumlah seluruh kambing?

Jawab:

.....

.....

4



Ada 5 kelompok bebek, setiap kelompok berisi 3 ekor bebek.

Berapa jumlah seluruh bebek?

Jawab:

.....

.....

5

Ada 3 kelompok ikan, setiap kelompok berisi 4 ekor ikan.

Berapa jumlah seluruh ikan?

Jawab:

.....

.....

Nilai : .....

Paraf Guru : .....

LIVEWORKSHEETS

LKPD

LEMBAR KERJA PESERTA DIDIK

MATEMATIKA

Materi: Perkalian

Nama : .....

Kelas : .....

Tanggal : .....

Petunjuk:

1. Bacalah soal dengan teliti.
2. Lengkapilah tabel dengan tepat.
3. Tuliskan jawaban pada kotak yang tersedia.

Lengkapilah tabel berikut!

1 Ada beberapa kelompok sapi, setiap kelompok berisi 5 ekor sapi.

Banyak Kelompok	Banyak Tiap Kelompok	Kalimat Perkalian	Hasil Perkalian
.....	5	..... × ..... = ...	.....

2 Ada beberapa kelompok ayam, setiap kelompok berisi 2 ekor ayam.



Banyak Kelompok	Banyak Tiap Kelompok	Kalimat Perkalian	Hasil Perkalian
.....	2	..... × ..... = ...	.....

3 Ada beberrapa kelompok kambing, setiap kelompok berisi 6 ekor kambing.

Banyak Kelompok	Banyak Tiap Kelompok	Kalimat Perkalian	Hasil Perkalian
.....	6	..... × ..... = ...	.....

4 Ada beberapa kelompok bebek, setiap kelompok berisi 3 ekor bebek.

Banyak Kelompok	Banyak Tiap Kelompok	Kalimat Perkalian	Hasil Perkalian
.....	3	..... × ..... = ...	.....

5 Ada beberapa kelompok ikan, setiap kelompok berisi 4 ekor ikan.



Banyak Kelompok	Banyak Tiap Kelompok	Kalimat Perkalian	Hasil Perkalian
.....	4	..... × ..... = ...	.....

Nilai :

Paraf Guru : .....

LIVEWORKSHEETS

LKPD

LEMBAR KERJA PESERTA DIDIK

MATEMATIKA

Materi: Perkalian

Nama : .....

Kelas : .....

Tanggal : .....

Petunjuk:

1. Bacalah soal dengan teliti.
2. Pilih pasangan jawaban yang benar.
3. Beri tanda (✓) pada jawaban yang kamu pilih.

Pilih pasangan perkalian yang hasilnya benar!

1 Ada 3 kelompok sapi, setiap kelompok berisi 5 ekor sapi. Berapa jumlah seluruh sapi?



- ◯ 3 × 4 = 12
- ◯ 3 × 5 = 15
- ◯ 5 × 3 = 18

2 Ada 4 kelompok ayam, setiap kelompok berisi 2 ekor ayam. Berapa jumlah seluruh ayam?



- ◯ 4 × 2 = 6
- ◯ 2 × 4 = 8
- ◯ 4 × 3 = 12

3 Ada 2 kelompok kambing, setiap kelompok berisi 6 ekor kambing. Berapa jumlah seluruh kambing?



- ◯ 2 × 5 = 10
- ◯ 2 × 6 = 12
- ◯ 6 × 2 = 14

4 Ada 5 kelompok bebek, setiap kelompok berisi 3 ekor bebek. Berapa jumlah seluruh bebek?

- ◯ 5 × 3 = 12
- ◯ 3 × 5 = 15
- ◯ 5 × 4 = 20

5 Ada 3 kelompok ikan, setiap kelompok berisi 4 ekor ikan. Berapa jumlah seluruh ikan?



- ◯ 3 × 4 = 7
- ◯ 3 × 4 = 12
- ◯ 4 × 3 = 12

Nilai:

Paraf Guru:

LIVEWORKSHEETS

LKPD

LEMBAR KERJA PESERTA DIDIK

MATEMATIKA

Materi: Perkalian

Nama : .....

Kelas : .....

Tanggal : .....

Petunjuk:

1. Bacalah soal dengan teliti.
2. Cocokkan soal perkalian di sebelah kiri dengan hasil yang benar di sebelah kanan dengan menarik garis.
3. Pastikan setiap soal memiliki satu jawaban yang tepat.

Tantangan Hebat!

Cocokkan soal perkalian dengan hasilnya yang benar!

2 × 5	10
	12
	15
3 × 3	6
	9
	12
4 × 4	12
	16
	20

Nilai :

Paraf Guru : .....

LIVEWORKSHEETS

LKPD

LEMBAR KERJA PESERTA DIDIK

MATEMATIKA

Materi: Pembagian

Nama : .....

Kelas : .....

Tanggal : .....

Petunjuk:

1. Bacalah soal dengan teliti.
2. Hitung jumlah benda menggunakan pembagian.
3. Tuliskan jawaban pada kotak yang tersedia.

Ayo Menghitung dengan Pembagian!

1

Ada 15 ekor sapi. Dibagi sama banyak ke dalam 3 kelompok. Berapa banyak sapi di setiap kelompok?

15 ÷ 3 = ___ Jawaban:

2

Ada 12 ekor ayam. Dibagi sama banyak ke dalam 4 kelompok. Berapa banyak ayam di setiap kelompok?

12 ÷ 4 = ___ Jawaban:

3

Ada 18 ekor kambing. Dibagi sama banyak ke dalam 2 kelompok. Berapa banyak kambing di sstiap kelompok?

18 ÷ 2 = ___ Jawaban:

4

Ada 20 ekor bebek. Dibagi sama banyak ke dalam 5 kelompok. Berapa banyak bebek di setiap kelompok?

20 ÷ 5 = ___ Jawaban:

5



Ada 16 ekor ikan. Dibagi sama banyak ke dalam 4 kelompok. Berapa banyak ikan di setiap kelompok?

16 ÷ 4 = ___ Jawaban:

6

Ada 24 ekor kelinci. Dibagi sama banyak ke dalam 6 kelompok. Berapa banyak kelinci di setiap kelompok?

24 ÷ 6 = ___ Jawaban:

7

Ada 14 ekor kupu-kupu. Dibagi sama banyak ke dalam 2 kelompok. Berapa banyak kupu-kupu di setiap kelompok?

14 ÷ 2 = ___ Jawaban:

8

Ada 10 ekor lebah. Dibagi sama banyak ke dalam 2 kelompok. Berapa banyak lebah di setiap kelompok?

10 ÷ 2 = ___ Jawaban:

9

Ada 18 ekor katak. Dibagi sama banyak ke dalam 3 kelompok. Berapa banyak katak di setiap kelompok?

18 ÷ 3 = ___ Jawaban:

10

Ada 15 ekor kura-kura. Dibagi sama banyak ke dalam 3 kelompok. Berapa banyak kura-kura di setiap kelompok?

15 ÷ 3 = ___ Jawaban:

Nilai :

Paraf Guru :

LIVEWORKSHEETS

LKPD

LEMBAR KERJA PESERTA DIDIK

MATEMATIKA

Materi: Pembagian

Nama : .....

Kelas : .....

Tanggal : .....

Petunjuk:

1. Bacalah soal dengan teliti.
2. Kerjakan soal dengan cara menuliskan jawaban pada bagian yang tersedia.
3. Periksa kembali jawabanmu sebelum dikumpulkan.

Kerjakan Soal Esai Berikut!

1

Ada 15 ekor sapi yang dibagi sama rata ke dalam 3 kandang.

Berapa ekor sapi di setiap kandang?

Jawab:

2



Ada 12 ekor ayam yang dibagi sama rata ke dalam 4 kandang.

Berapa ekor ayam di setiap kandang?

Jawab:

3



Ada 18 ekor kambing yang dibagi sama rata ke dalam 2 kandang.

Berapa ekor kambing di setiap kandang?

Jawab:

4

Ada 20 ekor bebek yang dibagi sama rata ke dalam 5 kandang.

Berapa ekor bebek di setiap kandang?

Jawab:

5



Ada 16 ekor ikan yang dibagi sama rata ke dalam 4 kolam.

Berapa ekor ikan di setiap kolam?

Jawab:

Nilai : _____

Paraf Guru : _____

LIVEWORKSHEETS

LKPD

LEMBAR KERJA PESERTA DIDIK

MATEMATIKA

Materi: Pembagian

Nama : .....

Kelas : .....

Tanggal : .....

Petunjuk:

1. Bacalah soal dengan teliti.
2. Lengkapilah tabel dengan tepat.
3. Tuliskan jawaban pada kotak yang tersedia.

Lengkapilah tabel berikut!

1 Ada beberapa kelompok sapi, setiap kelompok berisi 5 ekor sapi.

Jumlah Sapi	Banyak Kelompok	Sapi Tiap Kelompok	Kalimat Pembagian	Hasil Pembagian
15	3	.....	15 ÷ 3 = ...	.....

2 Ada beberapa kelompok ayam, setiap kelompok berisi 2 ekor ayam.



Jumlah Ayam	Banyak Kelompok	Ayam Tiap Kelompok	Kalimat Pembagian	Hasil Pembagian
12	4	.....	12 ÷ 4 = ...	.....

3 Ada beberapa kelompok kambing, setiap kelompok berisi 6 ekor kambing.

Jumlah Kambing	Banyak Kelompok	Kambing Tiap Kelompok	Kalimat Pembagian	Hasil Pembagian
18	2	.....	18 ÷ 2 = ...	.....

4 Ada beberapa kelompok bebek, setiap kelompok berisi 3 ekor bebek.

Jumlah Bebek	Banyak Kelompok	Bebek Tiap Kelompok	Kalimat Pembagian	Hasil Pembagian
15	5	.....	15 ÷ 5 = ...	.....

5 Ada beberapa kelompok ikan, setiap kelompok berisi 4 ekor ikan.

Jumlah Ikan	Banyak Kelompok	Ikan Tiap Kelompok	Kalimat Pembagian	Hasil Pembagian
16	4	.....	16 ÷ 4 = ...	.....

Nilai : .....

Paraf Guru : .....

LIVEWORKSHEETS

LKPD

LEMBAR KERJA PESERTA DIDIK

MATEMATIKA

Materi: Pembagian

Nama : .....

Kelas : .....

Tanggal : .....

Petunjuk:

1. Bacalah soal dengan teliti.
2. Pilih pasangan jawaban yang benar.
3. Beri tanda (✓) pada jawaban yang kamu pilih.

Pilih pasangan pembagian yang hasilnya benar!

1 Ada 15 ekor sapi yang dibagi sama banyak ke dalam 3 kandang. Berapa ekor sapi di setiap kandang?

◯ 15 ÷ 3 = 3

◯ 15 ÷ 3 = 5

◯ 15 ÷ 3 = 6

2 Ada 12 ekor ayam yang dibagi sama banyak ke dalam 4 kandang. Berapa ekor ayam di setiap kandang?



◯ 12 ÷ 4 = 2



◯ 12 ÷ 4 = 3



◯ 12 ÷ 4 = 4

3 Ada 18 ekor kambing yang dibagi sama banyak ke dalam 2 kandang. Berapa ekor kambing di setiap kandang?

◯ 18 ÷ 2 = 6

◯ 18 ÷ 2 = 7

◯ 18 ÷ 2 = 9

4 Ada 20 ekor bebek yang dibagi sama banyak ke dalam 5 kandang. Berapa ekor bebek di setiap kandang?

◯ 20 ÷ 5 = 2

◯ 20 ÷ 5 = 4

◯ 20 ÷ 5 = 5

5 Ada 16 ekor ikan yang dibagi sama banyak ke dalam 4 kolam. Berapa ekor ikan di setiap kolam?



◯ 16 ÷ 4 = 2

◯ 16 ÷ 4 = 4



◯ 16 ÷ 4 = 6

Nilai :

Paraf Guru : .....

LIVEWORKSHEETS

LKPD

LEMBAR KERJA PESERTA DIDIK

MATEMATIKA

Materi: Pembagian

Nama : .....

Kelas : .....

Tanggal : .....

Petunjuk:

1. Bacalah soal dengan teliti.
2. Cocokkan soal pembagian di sebelah kiri dengan hasil yang benar di sebelah kanan dengan menarik garis.
3. Pastikan setiap soal memiliki satu jawaban yang tepat.

Tantangan Hebat!

Cocokkan soal pembagian dengan hasilnya yang benar!

15 ÷ 3	2
	3
	5
20 ÷ 4	4
	5
	6
18 ÷ 2	6
	8
	9
24 ÷ 6	3
	4
	5
21 ÷ 7	2
	3
	4

Nilai :

Paraf Guru : .....

LIVEWORKSHEETS