PEMERINTAH KABUPATEN JOMBANG
DINAS PENDIDIKAN DAN KEBUDAYAAN
SEKOLAH DASAR NEGERI KALIWUNGU 1
Jl. Cak Durasim No. 13 Jombang Kode Pos 61419
Email :sdnkaliwungu1jbg@gmail.com No Telp. (0321) 866768

SUMATIF AKHIR TAHUN
TAHUN PELAJARAN 2025/2026

Nama	: ……	Kelas	: V (Lima)
No Absen	: ……	Mapel	: IPAS

I. Pilih salahsatu jawaban yang tepat dengan memberi tanda (X) pada pilihan a, b, c atau d!

1. Hulu kerongkongan yang merupakan percabangan dua saluran disebut……
   a. Hidung c. Diafragma
   b. Faring d. Paru-paru
2. Salah satu gas yang dikeluarkan dari dalam tubuh kita saat kita bernapas ……..….
   a. oksigen
   b. alveolus
   c. karbon dioksida
   d. hidrogen
3. Perhatikan gambar berikut ini!

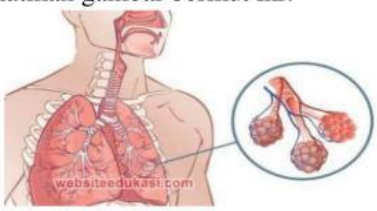

   Alat pernafasan yang dilingkari ada gambar diatas bernama …
   a. alveoli
   b. faring
   c. diafragma
   d. paru-paru
4. Penyakit paru-paru yang disebabkan bakteri *Mycobacterium tuberculosis* adalah ….
   a. Flu (influenza)
   b. Asma
   c. Bronkitis
   d. Tuberkulosis (TBC)
5. Sebelum makanan kita telan, sebaiknya makanan dikunyah sebanyak..... kali.
   a. 29 c. 31
   b. 30 d. 32
6. Lambung bertugas sebagai …
   a. penyera sari-sari makanan
   b. penghancur makanan yang kita makan
   c. penetralisir racun didalam tubuh
   d. membuang sisa-sisa makan didalam tubuh
7. Dalam peta di tertulis skala 1:1.500.000, artinya.....
   a. 1500 cm
   b. 1500 km
   c. 15 cm
   d. 15 km
8. Laut Indonesia yang luas memiliki banyak sekali manfaat, salah satunya adalah.....
   a. Memanfaatkan laut untuk kesejahteraan rakyat
   b. Memiliki transportasi laut
   c. Sumber ikan dan makanan laut lainnya
   d. Memiliki perdagangan laut

LIVEWORKSHEETS

9. Sebagian besar rakyat Indonesia bermata pencaharian dengan bercocok tanam. Indonesia disebut juga negara…..
   a. Agraris
   b. Maritim
   c. Kepulauan
   d. Daratan
10. Keanekaragaman flora dan fauna di Indonesia bisa dibagi menjadi tiga wilayah, yaitu.....
   a. Barat, tengggara, dan Timur
   b. Barat, tengah, dan Timur
   c. Barat, utara, dan Timur
   d. Barat, tengah, dan utara
11. Salah satu contoh pemanfaatan keanekaragaman hayati di bidang ekonomi adalah.. . .
   a. penelitian untuk obat-obatan
   b. kemajuan teknologi pertanian dan peternakan
   c. membuat mesin pengolahan kotoran hewan menjadi pupuk
   d. perdagangan hasil pertanian dan peternakan
12. Keanekaragaman hayati dibagi menjadi keanekaragaman. . . .
   a. flora dan fauna
   b. genetik, jenis dan bentuk
   c. genetik, jenis dan ekosistem
   d. jenis dan tempat hidup
13. Sumber daya alam nonhayati merupakan SDA yang berasal dari ……
   a. benda mati
   b. benda hidup
   c. alam
   d. buatan manusia
14. Perhatikan table berikut ini!

No	Sumber daya alam
1	Hewan
2	Minyak bumi
3	Air
4	Gas alam
5	Tanah
6	Batu bara

   Kelompokan Sumber Daya Alam (SDA) yang tidak dapat diperbaharui….
   a. 1, 2 dan 3
   b. 2, 4 dan 5
   c. 2, 4, dan 6
   d. 2, 5 dan 6
15. Musik, tarian, kebiasaan, keterampilan, bahasa, dan adat istiadat adalah contoh warisan budaya....
   a. Benda
   b. Tak benda
   c. Leluhur
   d. Masyarakat
16. Pelestarian warisan budaya dapat dilakukan dengan cara…
   a. sering berkunjung ke cagar budaya
   b. mencari informasi dari internet
   c. peran aktif membantu memberikan informasi warisan budaya di media sosial
   d. pemugaran dan mempelajari warisan budaya yang ada
17. Aktivitas ekonomi di suatu daerah bergantung pada kondisi....
   a. sumber daya alam
   b. industri
   c. peternakan
   d. perdagangan
18. Indonesia merupakan negara yang rawan bencana terutama gempa Bumi. Hal ini disebabkan karena....
   a. Indonesia memiliki banyak pulau
   b. Indonesia memiliki banyak gunung berapi
   c. Indonesia melalui jalur pertemuan tiga lempeng tektonik
   d. Adanya pergeseran lempengan di selat sunda

LIVEWORKSHEETS

19. Perubahan bumi bisa disebabkan oleh.....
    a. Perubahan cuaca
    b. Aktivitas manusia
    c. Perubahan iklim
    d. Perubahan lingkungan
20. Pengelolaan sumber daya alam dan pemanfaatannya secara bijaksana agar menjamin ketersediaan sumber daya alam disebut.....
    a. Pemanfaatab sumbar daya alam
    b. Penghijauan
    c. Deforestasi
    d. Konservasi
21. Organ pernapasan tempat bertemunya udara dengan makanan dan minuman disebut ….
    a. Mulut
    b. Faring
    c. Diafragma
    d. Alveoli
22. Bagian di dalam paru-paru yang menjadi tempat pertukaran antara oksigen dan karbondioksida adalah ….
    a. Alveolus
    b. Hidung
    c. Diafragma
    d. Faring
23. Gas yang kita keluarkan dari dalam tubuh kita saat bernapas disebut ….
    a. Oksigen
    b. Hidrogen
    c. Karbondioksida
    d. Nitrogen
24. Ketika ada kotoran yang masuk pada saat kita menarik napas, kotoran tersebut akan disaring pada organ ….
    a. Hidung
    b. Mulut
    c. Diafragma
    d. Faring
25. Gangguan pernapasan yang di akibatkan dari penyempitan saluran napas adalah ….
    a. Flu
    b. Bronkitis
    c. Tuberkulosis
    d. Asma
26. Gambaran permukaan bumi yang ditampilkan pada suatu bidang datar dengan skala tertentu disebut ….
    a. Peta
    b. Iklim
    c. Geografis
    d. Musim
27. Perhatikan gambar di bawah ini!

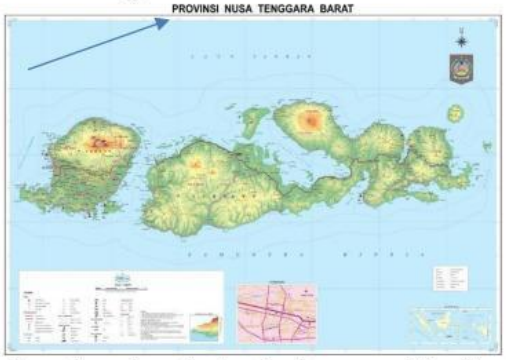

    Sesuai gambar di atas, bagian yang diberi tanda panah disebut ….
    a. Judul peta
    b. Legenda
    c. Skala
    d. Arah mata angin
28. Pada peta, perbandingan ukuran besarnya gambar dengan keadaan yang sebenarnya disebut ….
    a. Judul peta
    b. Legenda
    c. Arah mata angin
    d. Skala
29. Unsur peta yang menjelaskan keterangan sImbol pada suatu peta disebut ….
    a. Judul peta
    b. Legenda
    c. Arah mata angin
    d. Skala
30. Salah satu ciri-ciri negara maritim adalah, ***kecuali*** ….
    a. Memiliki wilayah laut
    b. Memiliki ladang yang luas
    c. Memiliki perdagangan laut
    d. Memiliki transportasi laut

LIVEWORKSHEETS

31. Perhatikan gambar di bawah ini!

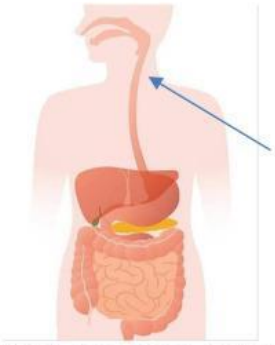

Organ pencernaan manusia yang ditunjukan pada gambar di atas disebut ….

a. Mulut
b. Lambung
c. Kerongkongan
d. Hati

32. Organ pencernaan yang tugasnya untuk menghancurkan makanan yang kita makan adalah ….

a. Mulut
b. Lambung
c. Usus halus
d. Rektum

33. Contoh sumber karbohidrat yang biasa kita makan sehari-hari adalah ….

a. Nasi, jagung, kentang
b. Kentang, susu, wortel
c. Jagung, telur, tahu
d. Nasi, daging, tomat

34. Masa peralihan dari anak-anak menjadi dewasa disebut ….

a. Pubertas
b. Masa embrio
c. Menstruasi
d. Masa balita

35. Bagian dalam tubuh perempuan tempat tumbuhnya janin ketika sudah mengalami pembuahan disebut ….

a. Ovum
b. Rahim
c. Sel telur
d. Embrio

36. Negara yang sebagian besar rakyatnya bermata pencaharian dengan bercocok tanam disebut ….

a. Negara maju
b. Negara maritim
c. Negara agraris
d. Negara berkembang

37. Mata pencaharian masyarakat yang tinggal di daerah pantai adalah, ***kecuali*** ….

a. Nelayan
b. Berkebun
c. Pedagang ikan
d. Pelaku wisata

38. Ciri-ciri negara agraris adalah, ***kecuali*** ….

a. Memiliki sawah yang luas
b. Memiliki peternakan
c. Berkegiatan ekonomi dari hasil pertanian
d. Memiliki perahu untuk nelayan

39. Salah satu contoh flora wilayah Indonesia Tengah adalah ….

a. Cengkeh
b. Rotan
c. Jati
d. Hutan bakau

40. Salah satu contoh fauna wilayah Indonesia Timur adalah ….

a. Landak irian
b. Bekantan
c. Monyet hitam
d. Orang utan

41. Berikut ini salah satu cara menjaga kesehatan organ pernapasan yaitu ….

a. Menggunakan masker ketika berpergian
b. Sering mengkonsumsi makanan cepat saji
c. Tidur dalam waktu yang lama
d. Duduk disamping orang yang sedang merokok

42. Perhatikan organ – organ berikut!

(1). Bronkiolus
(2) Alveolus
(3) Bronkus
(4) Laring
(5) Rongga Hidung

Urutan masuknya udara pernapasan yang benar adalah…

a. 1 – 2 – 3 – 4 – 5
b. 5 – 4 – 3 – 1 – 2
c. 5 – 4 – 3 – 2 – 1
d. 5 – 4 – 1 – 3 – 2

LIVEWORKSHEETS

43. Makanan sangat penting bagi makhluk hidup, terutama bagi manusia. Apabila manusia tidak makan, maka akan ….
   a. sulit bernapas
   b. kesulitan tidur
   c. menjadi lemas
   d. mudah buang air besar
44. Gangguan pada organpencernaan karena memakan bahan makanan yang masih mentah adalah…..
   a. Diare
   b. Lapar
   c. Batuk
   d. Demam
45. Perhatikan gambar berikut!

   Rafa bingung untuk memilih menu makanan. Mama Rafa berpesan agar dia memakan makanan yang paling sehat. Rafa harus memilih ….
   a. Makanan A karena tidak mengandung protein
   b. Makanan B karena tidak mengandung vitamin
   c. Makanan A karena kandungan nutrisi seimbang
   d. Makanan B karena kandungan nutrisi seimbang
46. Perhatikan pernyataan berikut ini!
   1) Munculnya jerawat pada wajah
   2) Suka bermain kejar-kejaran
   3) Emosi cepat berubah
   4) Rambut memutih

   Perubahan yang umumnya terjadi pada remaja ditunjukkan oleh nomor ….
   a. 1) dan 2)
   b. 1) dan 3)
   c. 2) dan 4)
   d. 3) dan 4)
47. Salah satu ciri pubertas yang dialami oleh remaja dengan jenis kelamin laki-laki adalah ….
   a. kulit menjadi lebih halus
   b. suara melengking
   c. pinggul melebar
   d. tumbuh jakun di leher
48. Masa awal pertumbuhan dan perkembangan manusia setelah dilahirkan disebut masa ….
   a. bayi
   b. balita
   c. remaja
   d. anak-anak
49. Gambaran permukaan bumi pada bidang datar dengan menggunakan skala tertentu merupakan pengertian dari ….
   a. peta
   b. judul
   c. simbol
   d. legenda

LIVEWORKSHEETS

50. Naura dan orang tuanya akan pergi berwisata ke Batu Runcing di Kota Sawahlunto. Naura dan orang tuanya belum pernah pergi ke sana, sehingga mereka membutuhkan peta. Ayah membuka peta digital pada ponselnya. Pada peristiwa tersebut menunjukkan fungsi peta yaitu ….

a. menunjukkan arah suatu tempat

b. menggambarkan bentuk permukaan bumi

c. menggambarkan potensi kekayaan alam di suatu tempat

d. memberikan informasi perbedaan kondisi geografis suatu wilayah

II. Jawablah pertanyaan-pertanyaan berikut ini dengan jelas dan benar!

1. Sebutkan 2 gangguan pernapasan yang biasa terjadi pada manusia!
2. Sebutkan pertumbuhan manusia dari masa ke masa!
3. Sebutkan 2 ciri-ciri negara maritim!
4. Tulislah 6 organ pencernaan pada manusia!
5. Jelaskan apa yang disebut sampah organik

LIVEWORKSHEETS