PREFEITURA DO MUNICÍPIO DE CAMPOS DOS GOYTACAZES - RJ
Secretaria Municipal de Educação, Ciências e Tecnologia.
Escola Municipal José do Patrocínio

ESCOLA MUNICIPAL JOSÉ DO PATROCÍNIO

ALUNO (A): _____ **TURMA:** _____

PROFESSOR (A): Priscila Caetano **COMPONENTE CURRICULAR: CIÊNCIAS** **DATA:** ___/___/___

ATIVIDADE AVALIATIVA – 9º ANO – 2º BIMESTRE

1. COM BASE NO QUE FOI ESTUDADO, IDENTIFIQUE CORRETAMENTE OS ELEMENTOS DE UMA ONDA:

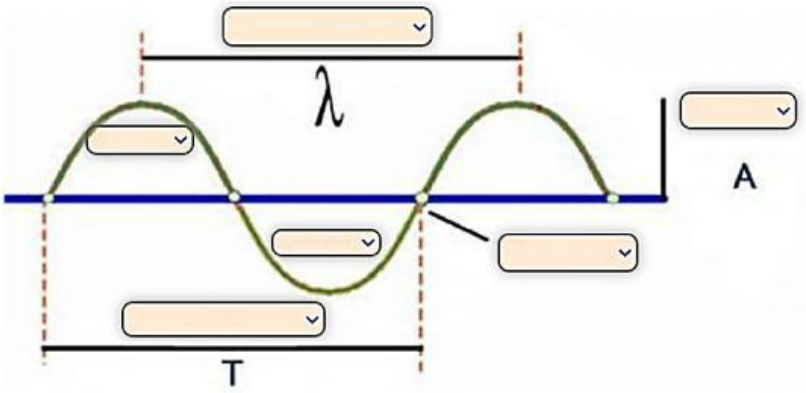

2. RELACIONE OS FENÔMENOS DAS IMAGENS ABAIXO COM OS TIPOS DE ONDA:

LIVEWORKSHEETS

3. ELETROMAGNÉTICAS, SEGUNDO A SUA POSIÇÃO NO ESPECTRO ELETROMAGNÉTICO:

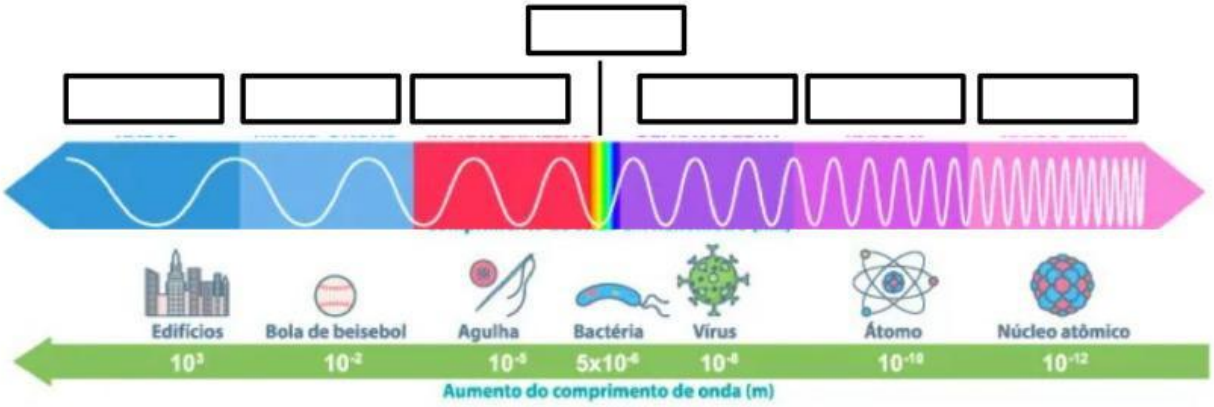

GAMMA	IV	RAIOS X	MICRO-ONDAS	UV	ONDAS DE RÁDIO	VISÍVEL

4. LIGUE PARA CLASSIFICAR AS ONDAS:

- ONDAS DO MAR
- GRITO DE TORCIDA DE FUTEBOL
- A LUZ
- O SOM
- RAIOS ULTRAVIOLETAS
- RUÍDO DE UM MOTOR
- WI-FI
- ONDAS DE RÁDIO

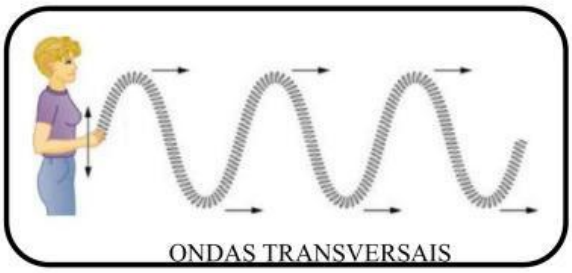

ONDAS TRANSVERSAIS



ONDAS LONGITUDINAIS

LIVEWORKSHEETS