**لكل فقرة مما يلي ٤ إجابات، واحدة منها فقط صحيحة، اختاري الإجابة الصحيحة:**

| | | | | | | | | |
|---|---|---|---|---|---|---|---|---|
| ١ | تقدير ناتج ١٦٢ ÷ ٢: | | | | | | | |
| | أ | ١٦٠÷٢=٨٠ | ب | ١٦٠÷٤=٤٠ | ج | ١٢٠÷٣=٤٠ | د | ٣٠٠÷٣=١٠٠ |
| ٢ | ناتج ٥٩ ÷ ٥: | | | | | | | |
| | أ | ١٤ والباقي ٢ | ب | ١١ والباقي ٤ | ج | ١٢ والباقي ٤ | د | ١١ |
| ٣ | ناتج ٩٠٠ ÷ ٣: | | | | | | | |
| | أ | ٣٥٠ | ب | ١٠٠ | ج | ٣٠٠ | د | ٤٢٠ |
| ٤ | الوحدة المناسبة لقياس طول القلم =.....: | | | | | | | |
| | أ | كلم | ب | م | ج | ملم | د | سم |
| ٥ | محيط الشكل المجاور =.....: 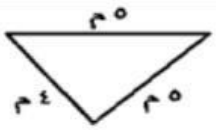  | | | | | | | |
| | أ | ١٤ م | ب | ١٦ م | ج | ٨ م | د | ٢٠ م |
| ٦ | التقدير الأنسب لسعة إبريق الشاي =.....: | | | | | | | |
| | أ | ٥٠ ل | ب | ١ ل | ج | ١ مل | د | ١٠ مل |
| ٧ | طول الفترة الزمنية من الساعة ٤:١٥ مساءً وحتى الساعة ٥:١٥ مساءً =.....: | | | | | | | |
| | أ | ساعة و٣٠ دقيقة | ب | ساعة و١٥ دقيقة | ج | ساعة واحدة | د | ساعتان |
| ٨ | الكسر العشري للعدد الكسري $٧\frac{٣}{١٠}$ =.....: | | | | | | | |
| | أ | ٣,٠٧ | ب | ٣,٧ | ج | ٧,٠٣ | د | ٧,٣ |
| ٩ | الكسر العشري للكسر الاعتيادي $\frac{٣}{٤}$ =.....: | | | | | | | |
| | أ | ٠,٧٥ | ب | ٠,٥ | ج | ٠,٢٥ | د | ٠,٤٣ |
| ١٠ | اشترت حصة برتقالًا ثمنه ٢٣,٥ ريالًا. ثمن البرتقال تقريبًا =.....: | | | | | | | |
| | أ | ٢١ ريال تقريبًا | ب | ٢٤ ريال تقريبًا | ج | ٢٣ ريال تقريبًا | د | ٢٠ ريال تقريبًا |
| ١١ | الكسر الذي يمثل النقطة د على خط الأعداد المجاور =.....: 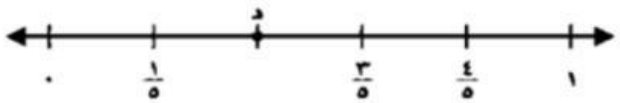  | | | | | | | |
| | أ | $\frac{٤}{٥}$ | ب | $\frac{٣}{٥}$ | ج | $\frac{٢}{٥}$ | د | $\frac{١}{٥}$ |

LIVEWORKSHEETS

صنفي كل زاوية إلى قائمة أو حادة أو منفرجة:

..... ..... .....

سمي الموقع الذي يقع عند الأزواج المرتبة التالية:

١) (٥، ٨)

٢) (٨، ٣)

حددي الزوج المرتب الذي يمثل موقع :

١) المستشفى

٢) محطة الحافلات

LIVEWORKSHEETS

أوجدي ما يلي:

قارني باستعمال (<، >، =):

٣,٠٣ ◯ ٣ $\frac{٣}{١٠٠}$ ٥,٣ ◯ ٥,٠٣ ٧ ◯ ٦ $\frac{٩}{١٠}$

رتبي الأعداد من الأكبر إلى الأصغر:

٦ $\frac{٣}{١٠}$ ، ٨,١ ، ٧ $\frac{١}{٢}$ ، ٧,٧

..... ، ..... ، ..... ، .....

أوجدي الناتج:

١)
$$\begin{array}{r} ١,٤ \\ +\ ٠,٧ \\ \hline \end{array}$$

٢)
$$\begin{array}{r} ٧,٢ \\ -\ ٠,٩ \\ \hline \end{array}$$

LIVEWORKSHEETS

اكتبي كل رقم في العمود (أ) أمام ما يناسبه في العمود (ب):

| | (أ) | | (ب) |
|---|---|---|---|
| ١ | 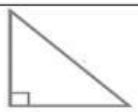 | | ليس مضلع |
| ٢ | | | اسطوانة |
| ٣ | 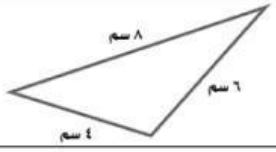 | | مستقيمان متقاطعان |
| ٤ | | | |
| ٥ | 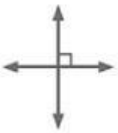 | | $\frac{١}{٢}$ دَوْرةٍ |
| ٦ | 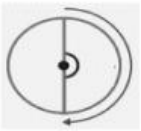 | | مستقيمان متعامدان |
| ٧ | | | مضلع ثماني |
| ٨ | 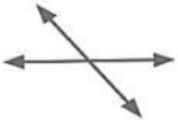 | | مثلث مختلف الأضلاع |
| ٩ | | | مخروط |
| ١٠ | | | مثلث قائم الزاوية |

LIVEWORKSHEETS