LKPD

Ilmu Pengetahuan Alam & sosial

Tema: Siklus Makhluk Hidup

Nama: _____

Kelas: _____

LIVEWORKSHEETS

Siklus Hidup Kupu-Kupu dan katak

Tugas:

Hubungkan garis nama tahapan yang sesuai dan tempel gambar sesuai dengan urutannya!

Siklus Kehidupan Katak

Tarik gambar dibawah, lalu tempelkan sesuai dengan jawaban yang benar !

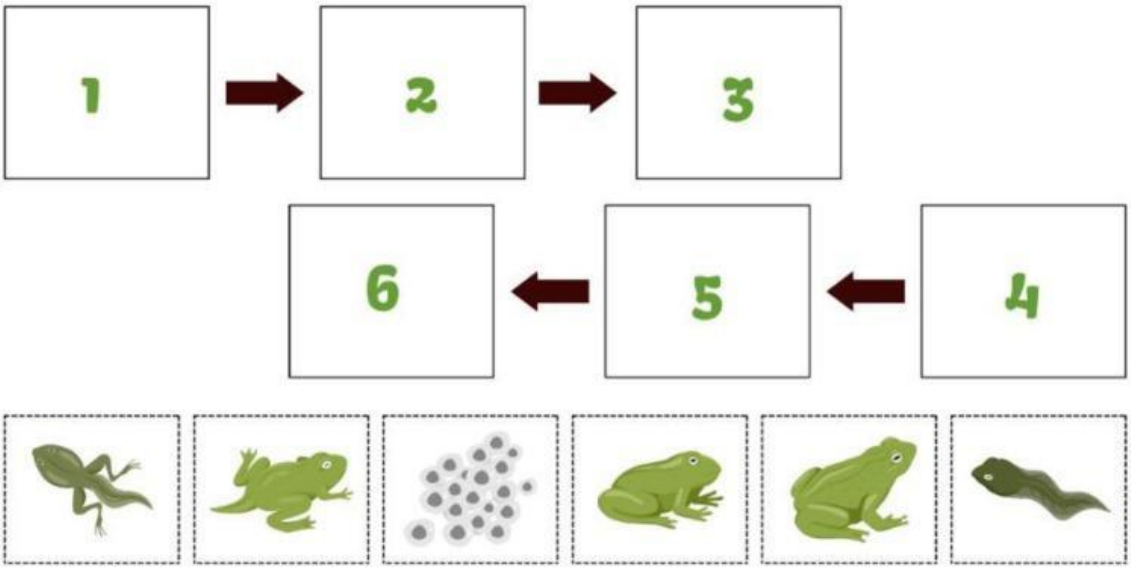

Tarik garis untuk menghubungkan nama tahapan dengan gambar yang sesuai.

- Ulat ○
- Kepompong ○
- Kupu-kupu ○
- Telur ○

LIVEWORKSHEETS

Siklus Hidup pada Tumbuhan

Perhatikan gambar, urutkan siklus hidup pada tumbuhan dengan menarik kosa kata di bawah ini

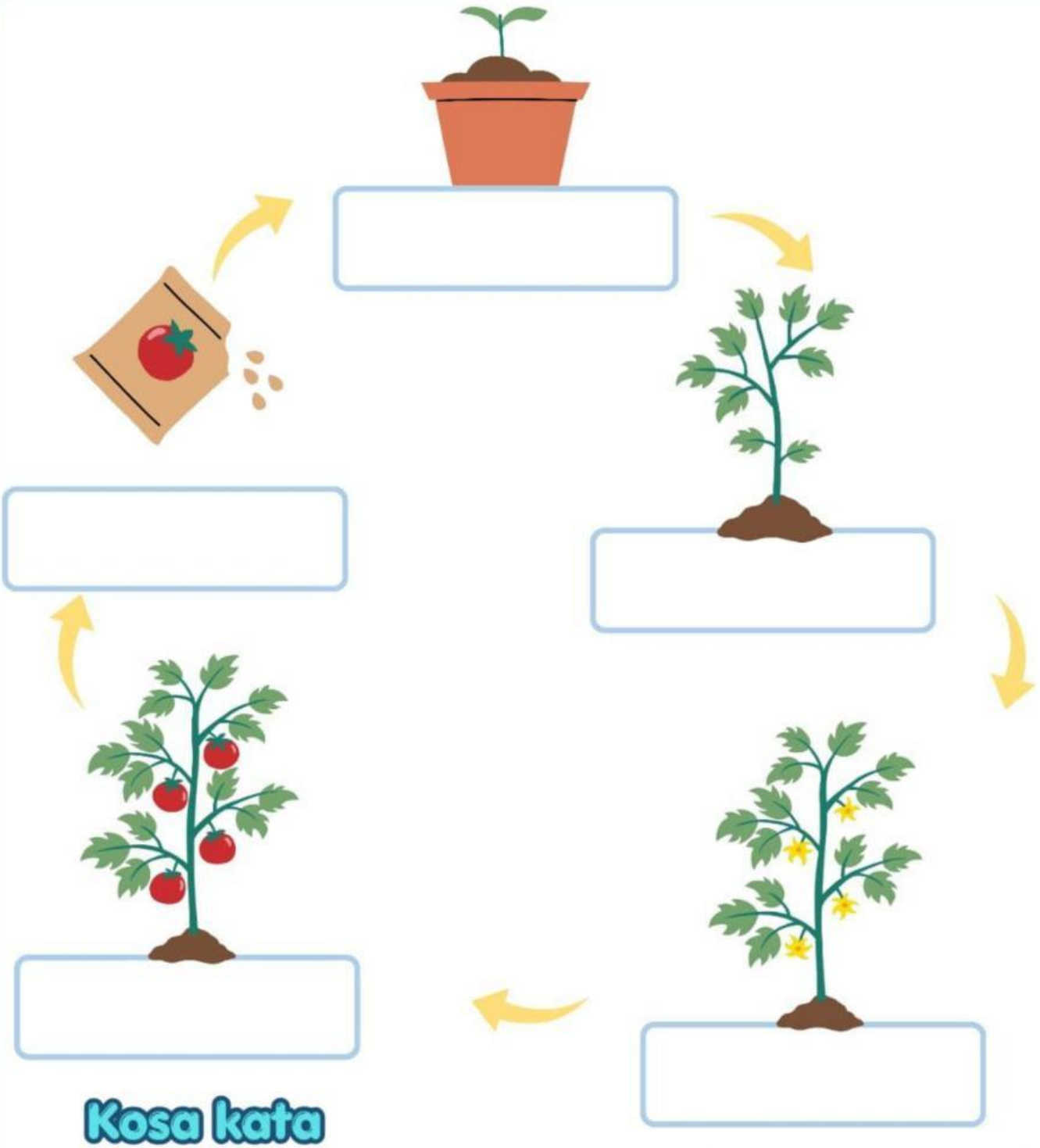

Kosa kata siklus tumbuhan

- Biji
- Tumbuhan Berbunga
- Tumbuhan Muda
- Tunas/ Kecambah
- Tumbuhan Berbuah

LIVEWORKSHEETS

Ayo Kerjakan!

- Perhatikan gambar di bawah ini.
- Tarik garis untuk menghubungkan nama tahapan yang sesuai gambar.

Siklus Hidup Manusia

Dewasa

Janin

Anak-anak

Bayi

Lansia

- Tahap akhir dari siklus hidup manusia. Ditandai dengan penurunan fungsi fisik.
- Lahir ke dunia. Tahap awal setelah kelahiran
- Manusia masih berada di dalam perut ibu dan terus berkembang.
- Mengalami pertumbuhan dan perkembangan secara fisk.
- Masa ketika anak tumbuh dan belajar melalui bermain, bersekolah, serta mendapat kasih sayang dan bimbingan dari keluarga.

Sekarang kamu berada di tahap mana?? .....

LIVEWORKSHEETS

Siklus Hidup Ayam

Berbeda dengan kupu-kupu, ayam tidak mengalami perubahan bentuk yang drastis. Ayo kita lihat perjalanannya.

Tugas:

Lengkapilah diagram siklus hidup ayam di bawah ini dengan kata-kata dari dalam kotak.

Kotak Bantuan

- Telur
- Menetas
- Anak Ayam
- Bertelur
- Ayam Dewasa

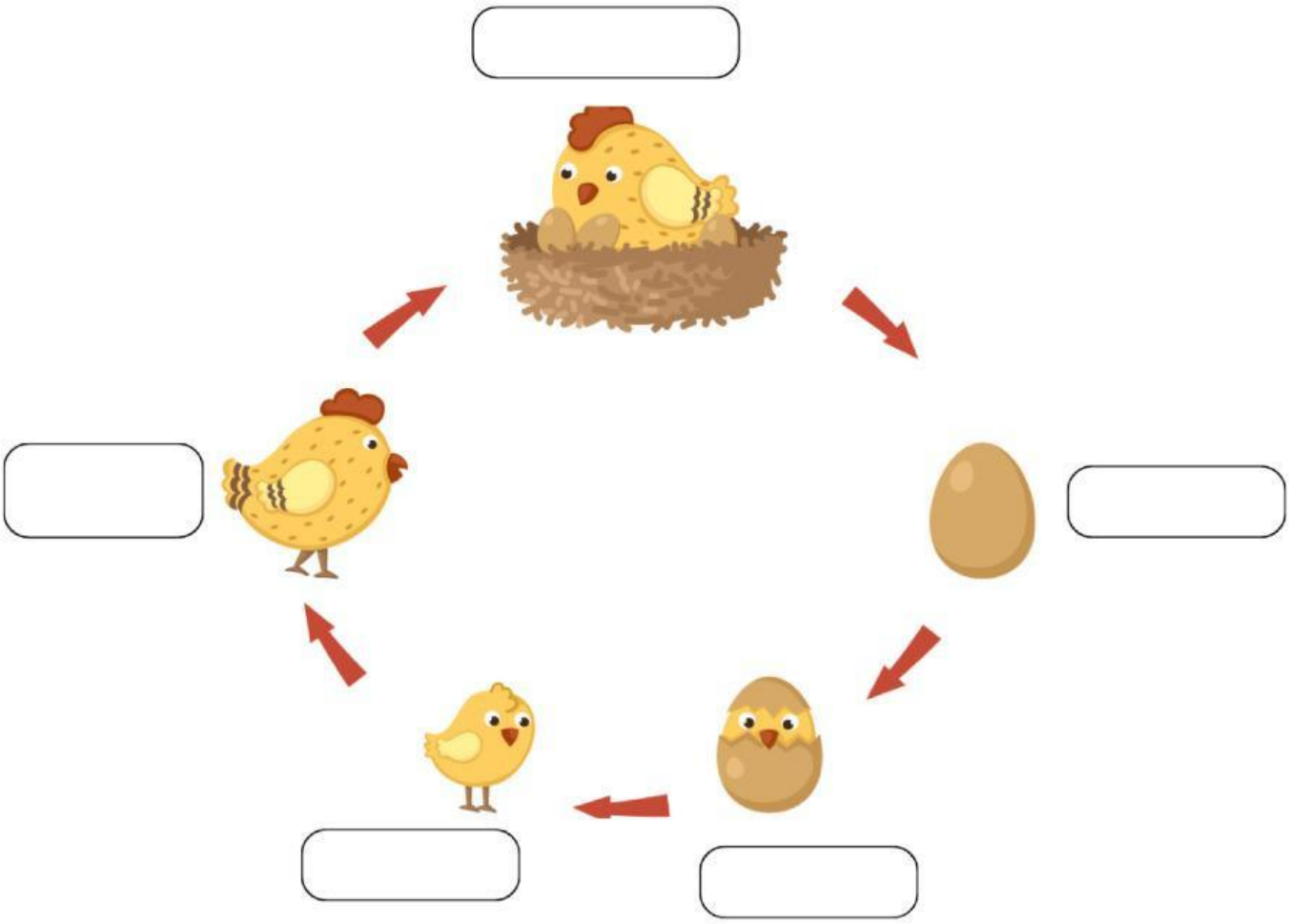

LIVEWORKSHEETS