Nama: Kelas:

LKPD

SIKLUS HIDUP HEWAN DAN UPAYA PELESTARIANNYA

A. Ayo Memahami Konsep

Jawablah pertanyaan berikut!

1. Apa yang dimaksud dengan siklus hidup?

   _____

   _____

2. Mengapa setiap makhluk hidup memiliki siklus hidup?

   _____

   _____

3. Pilihlah jawaban yang benar!

   Siklus hidup pada hewan adalah.....

   A. Proses hewan mencari makanan setiap hari

   B. Tahapan perkembangan hewan dari lahir hingga dewasa

   C. Tempat hidup hewan

   D. Cara hewan bergerak dari satu tempat ke tepat lain

4. Dalam siklus hidup hewan, perubahan bentuk tubuh (metamorfosis) pada hewan dibedakan menjadi.....

   A. Metamorfosis sempurna dan metamorfosis tidak sempurna

   B. Bertelur dan melahirkan

   C. Karnivora dan herbivora

   D. Berkembang biak dan tidak berkembang biak

LIVEWORKSHEETS

B. Ayo Mengamati

Kupu-kupu merupakan salah satu contoh hewan yang mengalami metamorfosis sempurna. Amatilah gambar siklus hidup kupu-kupu berikut!



1. Telur 2. Ulat 3. Kepompong 4. Kupu-Kupu

C. Ayo Mengurutkan

Urutkan tahapan siklus hidup kupu-kupu dengan cara menarik gambar ke kotak yang tersedia sesuai urutan yang benar!



D. Ayo Memecahkan Masalah

Bacalah permasalahan berikut!

Di sebuah taman terdapat banyak tanaman bunga yang menjadi sumber makanan kupu-kupu. Namun, sebagian bunga dicabut atau ditebang untuk pembangunan sehingga jumlah kupu-kupu di taman tersebut semakin berkurang.

1. Mengapa jumlah kupu-kupu di taman tersebut berkurang?

   _____

2. Apa dampaknya jika jumlah kupu-kupu terus berkurang?

   _____

3. Sebutkan satu solusi yang dapat dilakukan untuk menjaga keberadaan kupu-kupu?

   _____

LIVEWORKSHEETS

E. Ayo Melakukan Upaya Pelestarian

Berilah tanda centang pada tindakan yang dapat membantu melestarikan kupu-kupu!

Menanam bunga

☐

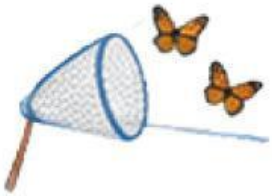

Menangkap kupu-kupu

☐

Membuang sampah

☐

Menjaga kebersihan

☐

Menyemprot tanaman dengan pestisida

☐

LIVEWORKSHEETS