LKPD

BANGUN DATAR



Perhatikan video berikut ini:

Perhatikan materi presentasi berikut ini:



Materi

Materi

LIVEWORKSHEETS

LKPD

BANGUN DATAR

1 **TEKS FIELD**

Bangun datar segi empat yang keeempat sisinya sama panjang dan keempat sudutnya siku-siku 90 adalah...

2 **SINGLE CHOICE**

Berikut ini yang bukan bangun datar adalah....

3 **CHECKBOXES**

Pernyataan yang benar adalah....

- [ ] Persegi memiliki 4 sisi
- [ ] Lingkaran Lingkaran memiliki 6 sisi
- [ ] Segitiga memiliki 3 sisi

4 **SELECT**

Nama bangun datar dibawah ini adalah..

- [ ] Persegi
- [ ] Segitiga
- [ ] Persegi Panjang
- [ ] Lingkaran

LIVEWORKSHEETS

LKPD

BANGUN DATAR

5 WORD SEARCH

Temukan 3 kata pada kotak dibawah ini...

S	S	I	S	I
M	U	L	I	N
O	S	D	K	T
D	K	C	U	K
U	G	X	M	T

6 SPEAK

Sebutkan nama bangun datar berikut dengan tepat!

LIVEWORKSHEETS

LKPD

BANGUN DATAR

7 **LISTENING**

Dengarkan suara berikut dan tuliskan jawabannya dengan tepat !

8 **DRAG AND DROP**

Tentukan rumus yang sesuai dengan gambar



$l = \frac{1}{2} x alas\ x\ tingg$

$L = panjang\ x\ lebar$

$L = \pi\ x\ r\ x\ r$

LIVEWORKSHEETS

LKPD

BANGUN DATAR

9

JOIN

Buatlah garis ke jawaban yang benar



Persegi panjang

Lingkaran

Segitiga

LIVEWORKSHEETS