LKPD

Ilmu Pengetahuan Alam

Siklus pada Makhluk Hidup

Nama: _____

Kelas: _____

LIVEWORKSHEETS

Siklus Hidup

Makhluk hidup butuh berkembang biak untuk mempertahankan keturunan.

- Perhatikan gambar di bawah ini.
- Isilah titik-titik sesuai gambar.

Siklus Hidup Manusia



Gambar mana yang mirip dengan kondisi kalian saat ini?

_____

LIVEWORKSHEETS

Perkembangbiakan Hewan

Hubungkan gambar hewan dengan cara berkembangbiak yang sesuai.



- Bertelur (Ovipar)
- Melahirkan (Vivipar)
- Bertelur dan Melahirkan (Ovovivipar)

LIVEWORKSHEETS

Metamorfosis

Perubahan bentuk pada siklus hidup makhluk hidup.

- Perhatikan gambar di bawah ini.
- Isilah titik-titik sesuai gambar.

Metamorfosis Sempurna

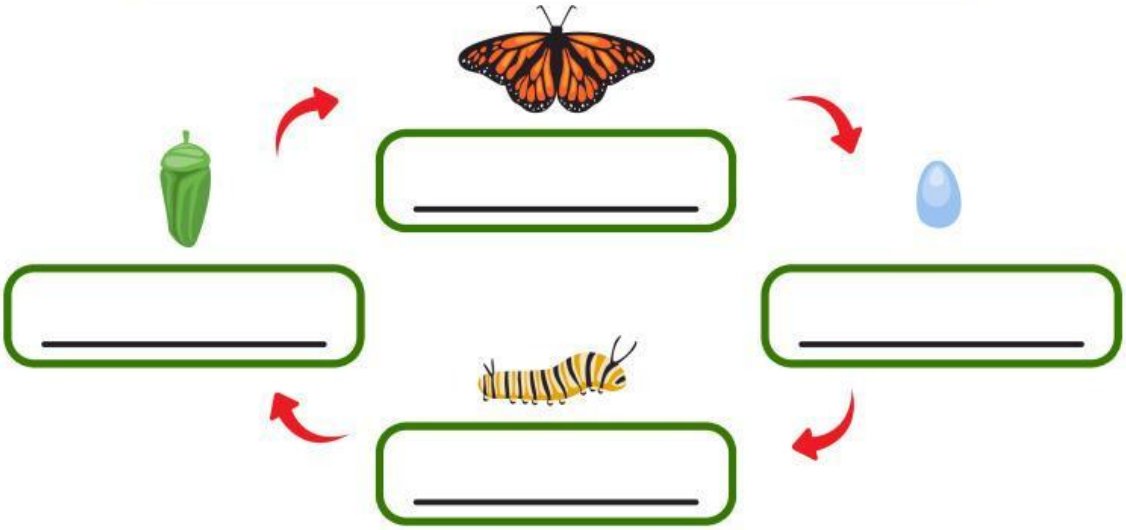

Metamorfosis Tidak Sempurna

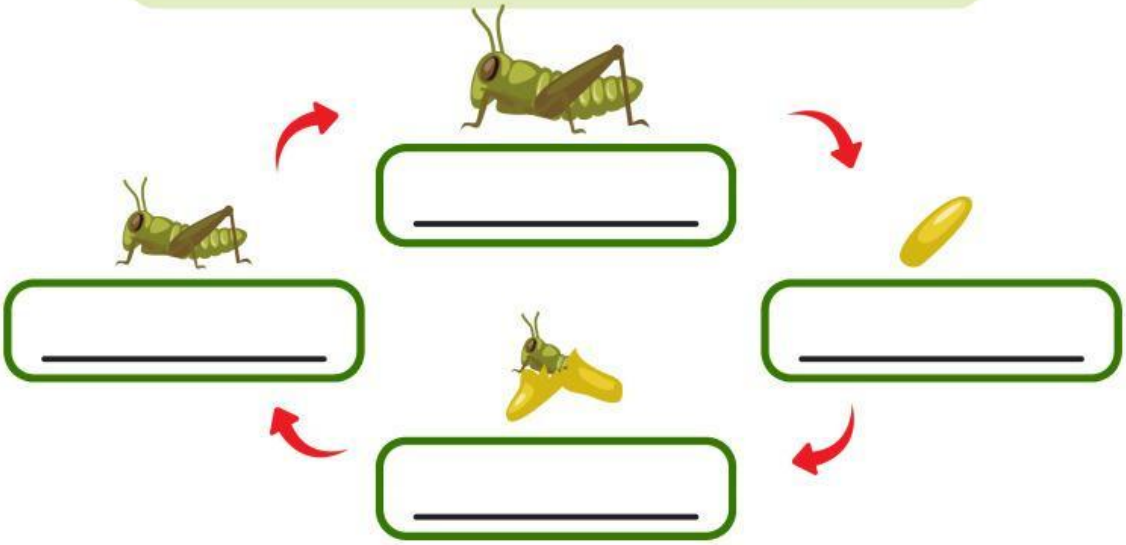

LIVEWORKSHEETS