Nombre: ..... Fecha: ..... Curso: .....

Nos reproducimos

1. Escribe debajo en qué etapa de la vida se encuentran. (1 punto)

.....

2. Clasifica las siguientes partes de los aparatos reproductor masculino y femenino. (2 puntos)

ovarios testículos pene conductos deferentes útero
vulva vagina vesículas seminales trompas de Falopio uretra

Aparato femenino	Aparato masculino

3. Ordena las siguientes etapas. (1 punto)

☐ Parto ☐ Unión del óvulo y espermatozoide

☐ Liberación de un óvulo maduro a las trompas de Falopio

☐ Formación del cigoto ☐ Formación del embrión

Evaluación

MATERIAL FOTOCOPIABLE

LIVEWORKSHEETS

4. Explica qué es la placenta. (1 punto)

.....

.....

.....

5. Indica si las siguientes afirmaciones sobre los cambios en la adolescencia son verdaderas (V) o falsas (F). (1 punto)

- Independencia: la relación con los padres cambia y se producen cambios de humor.
- Aspecto corporal: la extrañeza por los cambios corporales produce dudas respecto a la imagen y la sexualidad se hace consciente.
- Amigos: se empieza a mostrar un deinterés constante por ellos.
- Identidad: aparece una creciente necesidad de intimidad.
- Nuestro cuerpo sufre tan solo un cambio de estatura.

6. Relaciona cada parte del aparato femenino. (1 punto)

Ovarios

Vagina

Vulva

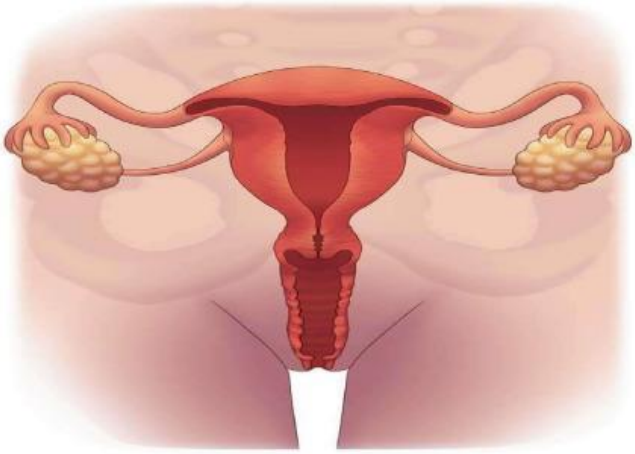

Útero

Trompas de Falopio

LIVEWORKSHEETS

7. La siguiente imagen es de un óvulo. Explica con tus palabras qué es y dónde se forma. (2 puntos)

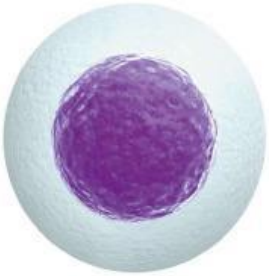

.....

.....

.....

.....

¿Los hombres fabrican óvulos? Explica tu respuesta.

.....

.....

8. Relaciona cada parte del aparato masculino. (1 punto)

Vesículas seminales

Uretra

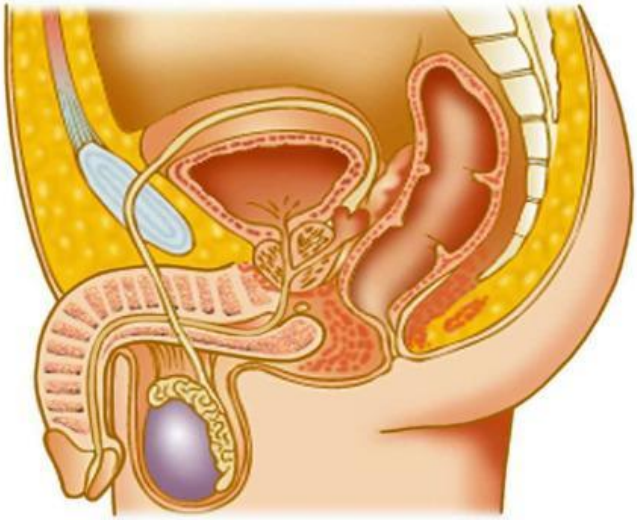

Conductos deferentes

Pene

Testículos

LIVEWORKSHEETS