REVUELA

Pequeños Grandes Cambios

Nombre: ..... Fecha: ..... Curso: .....

ÁREA DE POLÍGONOS

1 Cuenta los cuadrados unidad y completa el área de cada figura.

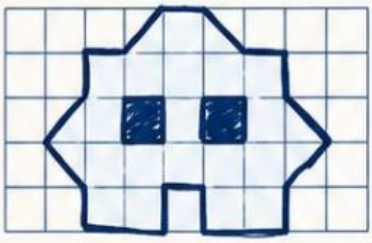

— □ — △

Área = ____ □

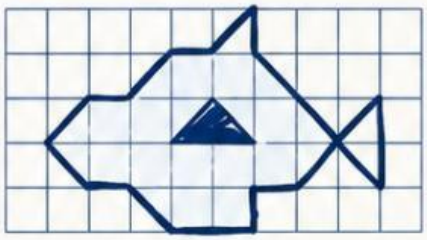

— □ — △

Área = ____ □

Recuerda: Cada cuadrito vale 1 unidad cuadrada.

2 Calcula el área de los siguientes polígonos.

a.

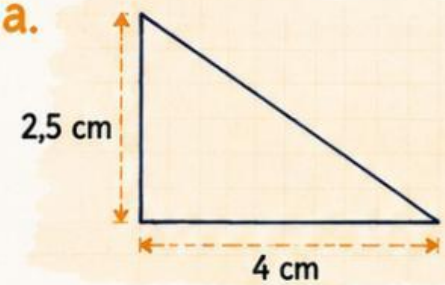

Área = _____ cm^2

b.



Área = _____ cm^2

LIVEWORKSHEETS

REVUELA

Nombre: ..... Fecha: ..... Curso: .....

Pequeños Grandes Cambios

C.

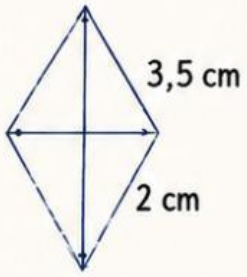

3 Luisa ha comprado una alfombra rectangular de 1,5 m de ancho por 3 m de largo. Pablo ha comprado una alfombra de 4,56 m^2 de superficie. ¿Quién ha comprado la alfombra con mayor superficie?

4 ¿Cuál es el área de un triángulo de 7 dm de base y 42 dm de altura?

5 Antonio ha comprado una alfombra rectangular de 15 m de largo por 12 m de ancho. Cuál es el perímetro de la alfombra

6 Calcula el perímetro y el área de un pentágono de lado 5cm y apotema 2cm.

LIVEWORKSHEETS