درس: الكهرباء

اختاري الإجابة الصحيحة:

١	عندما تتقابل الشحنات المتشابهة (+) (+) فإنها:			
	تتجاذب	تتنافر	تهتز ذهابا وايابًا	لا تتأثر
٢	عندما تتقابل الشحنات المختلفة (-) (+) فإنها:			
	تتجاذب	تتنافر	تهتز ذهابا وايابًا	لا تتأثر
٣	تجمع نوع معين من الشحنات الكهربائية على سطح ما			
	التيار الكهربائي	الكهرباء الساكنة	الكهرباء المتحركة	التيار الكهربائي
٤	انتقال الشحنات الكهربائية من جسم لآخـــر:			
	التيار الكهربائي	الكهرباء الساكنة	التفريغ الكهربائي	التيار الكهربائي
٥	تفريغ مفاجئ للشحنات الكهربائية من غيمة الى غيمة أخرى او من غيمة الى الأرض			
	التيار الكهربائي	الكهرباء الساكنة	رعد	برق
٦	سريان الشحنات الكهربائية في مادة موصلة			
	التيار الكهربائي	الكهرباء الساكنة	التفريغ الكهربائي	الدائرة الكهربائية
٧	مسار مغلق يسير فيه التيار الكهربائي			
	التيار الكهربائي	الدائرة الكهربائية	التفريغ الكهربائي	الكهرباء الساكنة
٨	الجزء المسؤول عن توفير الطاقة في الدائرة الكهربائية			
	الاسلاك الكهربائية	المفتاح الكهربائي	المقاومة الكهربائية	المصدر كهربائي
٩	الجهاز او الأداة التي يزودها المصدر بالطاقة			
	الاسلاك الكهربائية	المفتاح الكهربائي	المقاومة الكهربائية	المصدر كهربائي
١٠	الجزء المسؤول عن نقل الشحنات الكهربائية من مصدر الطاقة(البطارية) واليه:			
	الاسلاك الكهربائية	المفتاح الكهربائي	المقاومة الكهربائية	المصدر كهربائي
١١	الجزء المسؤول عن غلق وفتح الدائرة الكهربائية:			
	الاسلاك الكهربائية	المفتاح الكهربائي	المقاومة الكهربائية	المصدر كهربائي

LIVEWORKSHEETS

١٢	ماذا يسمى الشكل في الصورة المقابلة			
	التيار الكهربائي	الدائرة الكهربائية	المغناطيس الكهربائي	المفتاح الكهربائي
١٣	أدرس الشكل التالي: أي مما يلي مناسب لملئ الفراغ			
	التيار الكهربائي	أجزاء الدائرة الكهربائية	أجزاء المغناطيس الكهربائي	الشحن بالدلك

اكتبي البيانات على الرسم لتكملي دائرة كهربائية:

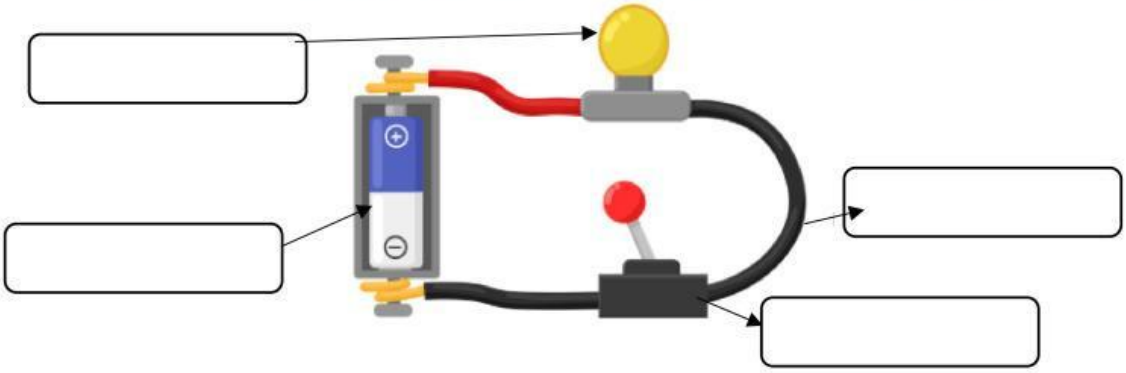

ما نوع التوصيل في الدوائر التالية:

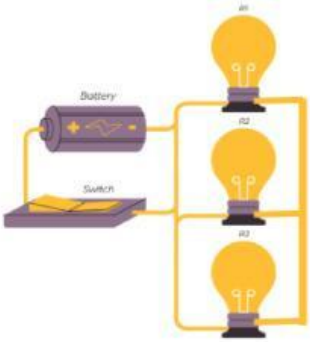

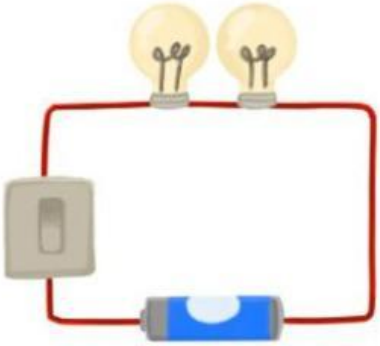

....

LIVEWORKSHEETS