LKPD
MATEMATIKA

Kelas 3 Sekolah Dasar

Nama: **Kelompok:**

LIVEWORKSHEETS

SIMETRI LIPAT

Tentukan berapa banyak simetri lipat pada bangun datar berikut, seperti pada contoh di bawah!

Contoh:

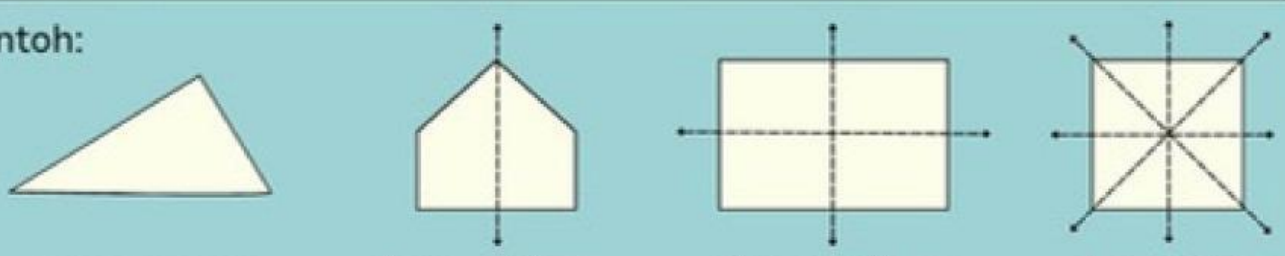

Tidak memiliki simpetri lipat | 1 simetri lipat | 2 simetri lipat | 4 simetri lipat

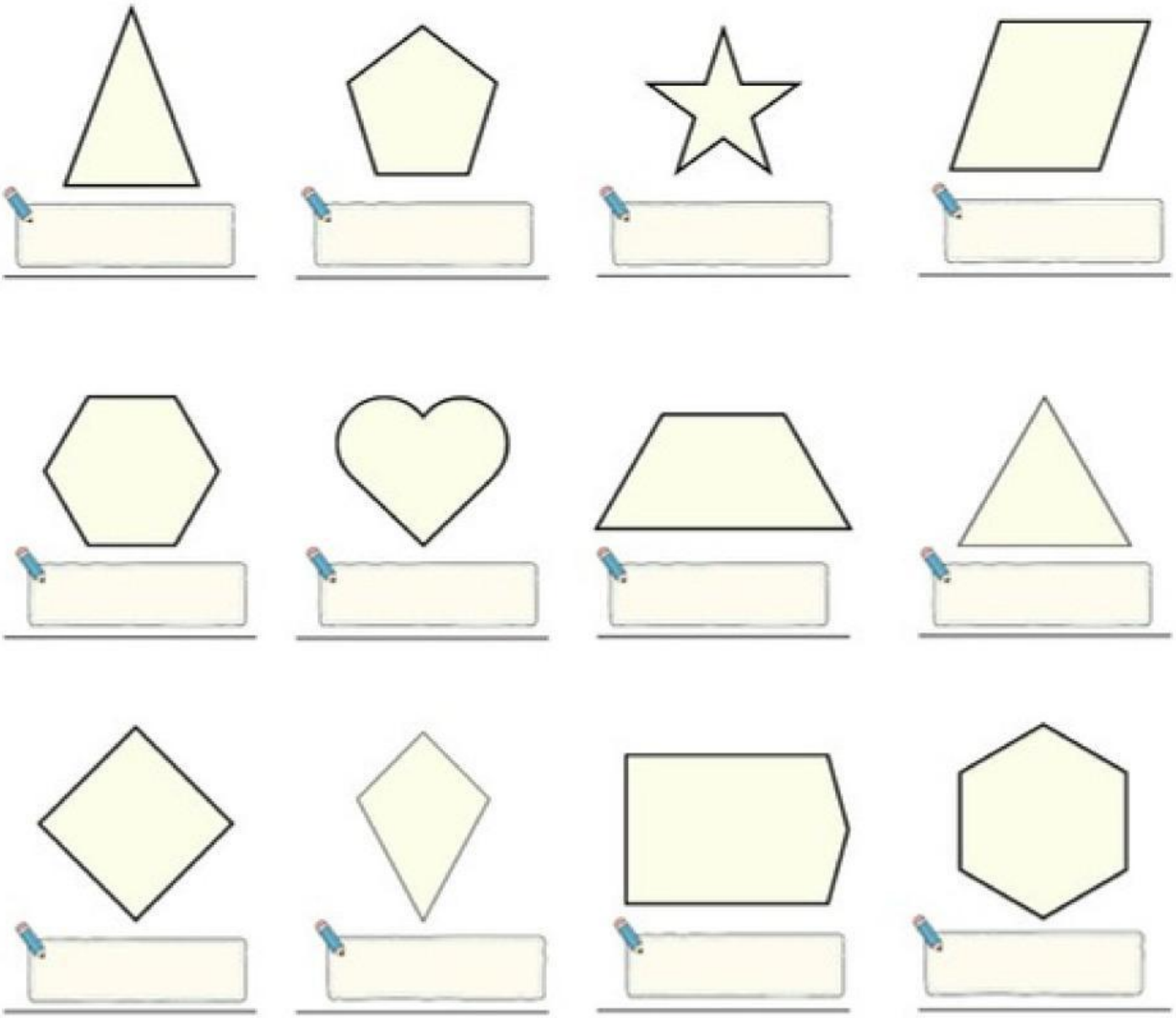

LIVEWORKSHEETS

LKPD – MATEMATIKA

Seputar Bangun Datar

Cermati contoh-contoh bangun datar di bawah ini! Lalu jawablah pertanyaan di bawahnya dengan benar!

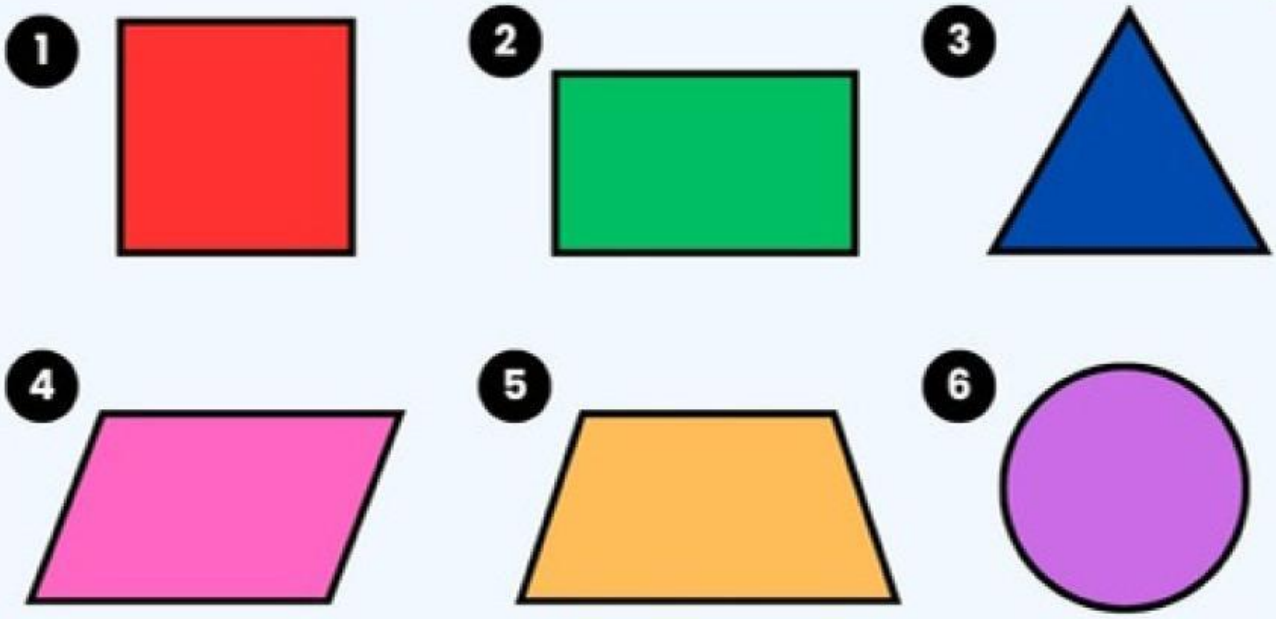

Pertanyaan:

1. Bangun datar nomor berapa yang memiliki empat sisi?
2. Bangun datar nomor berapa yang panjang sisi-sisinya sama?
3. Bangun datar nomor berapa yang memiliki simetri lipat?
4. Bangun datar nomor berapa yang tidak memiliki simetri lipat?
5. Bangun datar nomor 6 memiliki berapa simetri lipat?

LIVEWORKSHEETS