MANA YANG BENAR?

Nama ----------

Kelas ----------

INSTRUKSI **Berilah tanda centang (✓) pada kolom jawaban yang benar!**

1. Bantu Arki memilih kayu yang lebih panjang untuk tiang gerbang!

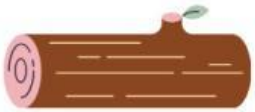

☐

☐

2. Arki punya tali 100 cm, Jena punya tali 1 m. Apakah kedua tali tersebut memiliki panjang yang sama?

100 cm

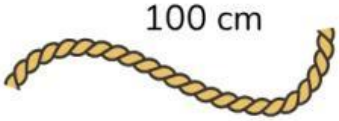

1 m

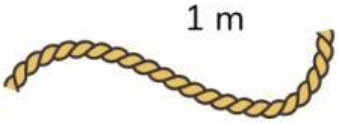

Ya ☐ Tidak ☐

3. Benda mana yang ukurannya paling panjang jika dibandingkan?

☐

☐

LIVEWORKSHEETS