اخْتِبارُ نِهايَةِ الْوَحْدَةِ

أَسْئِلَةٌ مَوْضوعِيَّةٌ

أَخْتارُ الْإِجابَةَ الصَّحيحَةَ في كُلٍّ مِمّا يَأْتي:

1 الْوَسَطُ الْحِسابِيُّ لِلْأَعْدادِ: 3 ,9 ,10 ,14 هُوَ:

a) 3 b) 9

c) 10 d) 14

2 الْوَسيطُ لِلْأَعْدادِ: 9 ,10 ,20 ,2 ,14 ، هُوَ:

a) 11 b) 10

c) 12 d) 9

3 الْمَدى لِلْأَعْدادِ: 3 ,5 ,14 ,0 ,1 ,4 هُوَ:

a) 3 b) 13

c) 14 d) 1

4 الْمِنْوالُ لِمَجْموعَةِ الْبَياناتِ الْآتِيَةِ: فَراوِلَةٌ، مَوْزٌ، عِنَبٌ، فَراوِلَةٌ، تُفّاحٌ، عِنَبٌ، مَوْزٌ، فَراوِلَةٌ، هُوَ:

a) فَراوِلَةٌ. b) مَوْزٌ.

c) عِنَبٌ. d) تُفّاحٌ.

5 كانَتْ عَلاماتُ 10 طَلَبَةٍ في اخْتِبارِ الرِّياضِيّاتِ كَما يَأْتي: 19 ,18 ,14 ,15 ,14 ,17 ,20 ,14 ,15 ,10

الْمِنْوالُ لِهذِهِ الْعَلاماتِ يُساوي:

a) 14 b) 15 c) 19 d) 20

6 يُبَيِّنُ الْجَدْوَلُ أَدْناهُ الْمَبيعاتِ بِالدِّينارِ في مَحَلٍّ تِجارِيٍّ خِلالَ 4 أَيّامٍ. ما مَدى هذِهِ الْمَبيعاتِ؟

الْيَوْمُ	الْأَحَدُ	الْإِثْنَيْنِ	الثُّلاثاءُ	الْأَرْبِعاءُ
الْمَبيعاتُ	36	100	52	120

a) 76 b) 84

c) 308 d) 77

7 في تَجْرِبَةِ سَحْبِ بِطاقَةٍ عَشْوائِيًّا مِنْ عُلْبَةٍ فيها 4 بِطاقاتٍ حَمْراءَ وَ8 بَيْضاءَ وَ3 سَوْداءَ جَميعُها مُتَماثِلَةٌ؛ فَإِنَّ الْبِطاقَةَ الَّتي لَها أَكْبَرُ فُرْصَةِ حُدوثٍ هِيَ:

a) الْحَمْراءُ أَوِ السَّوْداءُ.

b) السَّوْداءُ.

c) الْبَيْضاءُ.

d) الْحَمْراءُ.

8 يُوَضِّحُ التَّمْثيلُ بِالنِّقاطِ أَدْناهُ عَلاماتِ بَعْضِ الطَّلَبَةِ. الْوَسيطُ لِهَذِهِ الْعَلاماتِ هُوَ:

عَلاماتُ بَعْضِ الطَّلَبَةِ

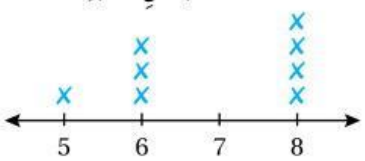

حَيْثُ (X) يُمَثِّلُ طالِبًا واحِدًا.

a) 3 b) 6

c) 7 d) 8

LIVEWORKSHEETS

اخْتِبارُ نِهايَةِ الْوَحْدَةِ

أَسْئِلَةٌ ذاتُ إِجابَةٍ قَصيرَةٍ:

أُكْمِلُ الْفَراغَ في كُلٍّ مِنَ الْجُمَلِ الْآتِيَةِ:

9 أَكْبَرُ قيمَةٍ ناقِصُ أَصْغَرِ قيمَةٍ لِبَياناتٍ، هُوَ: .....

10 مَجْموعُ الْقِيَمِ مَقْسومًا عَلى عَدَدِها، هُوَ: .....

11 الْقيمَةُ الْأَكْثَرُ تَكْرارًا هِيَ .....

12 الْقيمَةُ الَّتي تَتَوَسَّطُ الْقِيَمَ عِنْدَ تَرْتيبِها تَصاعُدِيًّا أَوْ تَنازُلِيًّا هِيَ .....

يُبَيِّنُ التَّمْثيلُ بِالنِّقاطِ الْمُجاوِرُ أَعْدادَ السُّعْراتِ الْحَرارِيَّةِ في 19 وَجْبَةً غِذائِيَّةً. أَجِدُ:

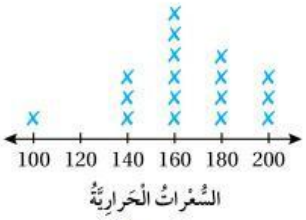

13 الْوَسيطَ. **14** الْمِنْوالَ. **15** الْمَدى.

تَدْريبٌ عَلى الْاخْتِباراتِ الدَّوْلِيَّةِ:

16 تَحْتَوي الْأَكْياسُ أَدْناهُ عَدَدًا مِنَ الْكُراتِ الزُّجاجِيَّةِ كَما هُوَ مُبَيَّنٌ تَحْتَ كُلٍّ مِنْها، وَيَحْتَوي كُلُّ كيسٍ كُرَةً حَمْراءَ واحِدَةً فَقَطْ. إِذا سُحِبَتْ مِنْ كُلِّ كيسٍ كُرَةٌ واحِدَةٌ، فَأَيُّ كيسٍ فُرْصَةُ سَحْبِ الْكُرَةِ الْحَمْراءِ مِنْهُ أَكْبَرُ؟

10 كُراتٍ　　100 كُرَةٍ　　50 كُرَةً

a) الْكيسُ الَّذي فيهِ 10 كُراتٍ.

b) الْكيسُ الَّذي فيهِ 100 كُرَةٍ.

c) الْكيسُ الَّذي فيهِ 50 كُرَةً.

d) الْكيسُ الَّذي فيهِ 100 كُرَةٍ أَوِ الْكيسُ الَّذي فيهِ 50 كُرَةً.

يُوَضِّحُ التَّمْثيلُ بِالْخُطوطِ الْمُزْدَوَجَةِ أَدْناهُ عَدَدَ السّاعاتِ الَّتي يُمْضيها بَعْضُ الْأَشْخاصِ في مُشاهَدَةِ التِّلْفازِ وَاسْتِعْمالِ الْإِنْتَرْنِت بَيْنَ عامَي 2000 وَ2016.

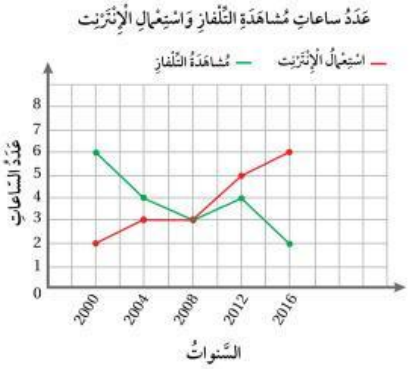

17 الْمَدى لِعَدَدِ ساعاتِ مُشاهَدَةِ التِّلْفازِ، هُوَ:

a) 2　　b) 4

c) 6　　d) 8

18 الْمِنْوالُ لِعَدَدِ ساعاتِ اسْتِعْمالِ الْإِنْتَرْنِت، هُوَ:

a) 6　　b) 4

c) 3　　d) 2

LIVEWORKSHEETS