Latihan Ulangan Bab 6

A. Pilihlah jawaban yang tepat.

1. Perhatikan tabel data hasil penjualan beberapa jenis ikan milik seorang pedagang selama seminggu berikut.

Jenis Ikan	Terjual (kg)
Gurami	55
Salmon	32
Tuna	36
Kembung	. . .
Emas	48

Jika hasil penjualan kelima jenis ikan tersebut dalam seminggu sebanyak 213 kg, banyak ikan kembung yang terjual adalah . . . .

a. 52 kg
b. 46 kg
c. 42 kg
d. 34 kg

2. Berikut data warna kesukaan 20 siswa kelas 5.

merah	biru	hitam	merah	merah
biru	hitam	kuning	biru	merah
kuning	biru	biru	merah	hitam
hitam	hitam	biru	biru	hitam

Tabel yang tepat untuk data warna kesukaan siswa tersebut adalah . . . .

a.

Warna	Banyak Siswa
Merah	4
Biru	7
Hitam	6
Kuning	3

b.

Warna	Banyak Siswa
Merah	5
Biru	6
Hitam	7
Kuning	2

c.

Warna	Banyak Siswa
Merah	5
Biru	7
Hitam	5
Kuning	3

d.

Warna	Banyak Siswa
Merah	5
Biru	7
Hitam	6
Kuning	2

Perhatikan data banyak buku cerita yang dimiliki empat siswa berikut untuk menjawab soal nomor 3 sampai 5.

Nama Siswa	Banyak Buku Cerita
Farrel	18
Rafa	14
Dinda	16
Fira	20

3. Diagram gambar yang tepat untuk data di atas adalah . . . .

LIVEWORKSHEETS

a.

Nama Siswa	Banyak Buku Cerita
Farrel	
Rafa	
Dinda	
Fira	

Keterangan: ■ mewakili 2 buku.

b.

Nama Siswa	Banyak Buku Cerita
Farrel	
Rafa	
Dinda	
Fira	

Keterangan: ■ mewakili 2 buku.

c.

Nama Siswa	Banyak Buku Cerita
Farrel	
Rafa	
Dinda	
Fira	

Keterangan: ■ mewakili 2 buku.

d.

Nama Siswa	Banyak Buku Cerita
Farrel	
Rafa	
Dinda	
Fira	

Keterangan: ■ mewakili 2 buku.

4. Jumlah buku cerita yang dimiliki keempat siswa tersebut adalah....

a. 62 buku
b. 64 buku
c. 66 buku
d. 68 buku

5. Siswa yang memiliki kurang dari 15 buku cerita adalah ....

a. Farrel
b. Rafa
c. Dinda
d. Fira

Perhatikan diagram data jenis buah yang terjual selama seminggu milik seorang pedagang berikut untuk menjawab soal nomor 6 sampai 8.

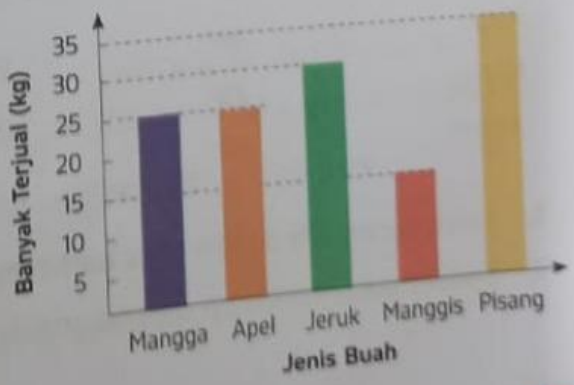

LIVEWORKSHEETS

6. Buah yang paling banyak terjual dalam seminggu adalah . . . .
   a. jeruk
   b. pisang
   c. mangga
   d. apel

7. Selisih penjualan apel dan manggis dalam seminggu adalah . . . .
   a. 20 kg
   b. 15 kg
   c. 10 kg
   d. 5 kg

8. Jumlah seluruh penjualan buah dalam seminggu adalah . . . .
   a. 130 kg
   b. 125 kg
   c. 120 kg
   d. 115 kg

Perhatikan diagram data hasil penjualan ikan lele milik seorang pedagang selama 5 hari berikut untuk menjawab soal nomor 9 dan 10.

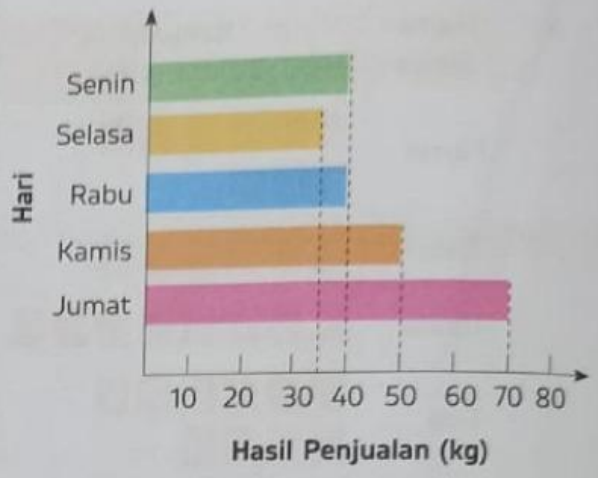

9. Hasil penjualan ikan lele paling sedikit adalah . . . .
   a. 40 kg
   b. 35 kg
   c. 30 kg
   d. 25 kg

10. Jumlah penjualan ikan lele sebelum hari Kamis adalah . . . .
   a. 130 kg
   b. 125 kg
   c. 120 kg
   d. 115 kg

B. Isilah dengan jawaban yang tepat.

Perhatikan tabel data suhu di sebuah kota selama 5 hari berikut untuk menjawab soal nomor 1 dan 2.

Hari	Suhu (celsius)
Senin	28°
Selasa	33°
Rabu	34°
Kamis	26°
Jumat	30°

1. Suhu terendah dalam lima hari tersebut adalah . . . .
2. Selisih suhu tertinggi dan terendah sesuai data tersebut adalah . . . .

LIVEWORKSHEETS

Perhatikan data banyak pengunjung perpustakaan sekolah selama 5 hari di samping untuk menjawab soal nomor 3 sampai 5.

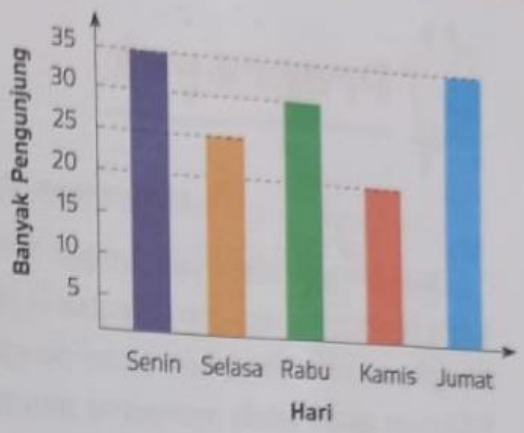

3. Pengunjung perpustakaan paling sedikit terjadi pada hari . . . .
4. Pengunjung perpustakaan lebih dari 30 orang terjadi pada hari . . . dan . . . .
5. Jumlah pengunjung perpustakaan selama 5 hari tersebut adalah . . . .

C. Kerjakan soal-soal berikut.

Perhatikan diagram gambar data banyak jus yang terjual di sebuah restoran selama 5 hari di samping untuk menjawab soal nomor 1 dan 2.

Hari	Banyak Penjualan Jus
Rabu	
Kamis	
Jumat	
Sabtu	
Minggu	

Keterangan: mewakili 5 gelas.

1. Pada hari apa penjualan jus mengalami penurunan?
2. Tentukan selisih penjualan jus paling banyak dan paling sedikit.

LIVEWORKSHEETS