Test secvențial

Alte medii de viață din țara noastră și din alte zone ale planetei

I. Citește cu atenție enunțurile de mai jos și stabilește dacă sunt adevărate sau false:

1. Salinitatea apelor Mării Negre este mai mare în adâncime și mai scăzută la suprafață.
2. La Polul Nord trăiesc urși polari, foci, morse și pinguini.
3. Speciile de vegetație tipice deșerturilor calde sunt: curmalul, agava, cactus etc.
4. Producătorii ecosistemului Mării Negre sunt reprezentați de algele macroscopice și zooplanctonul.
5. Solul specific pădurilor tropical-umede este bogat în humus.
6. Lianele sunt plante fixate în sol care se rulează în jurul arborilor în căutarea de lumină.

6x0,5=3p

II. Analizează cu atenție imaginile de mai jos!

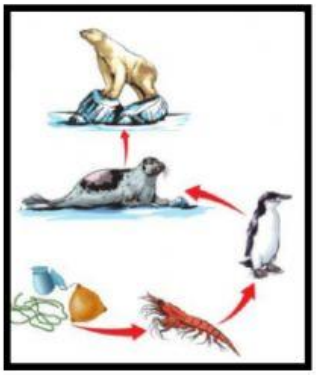

A

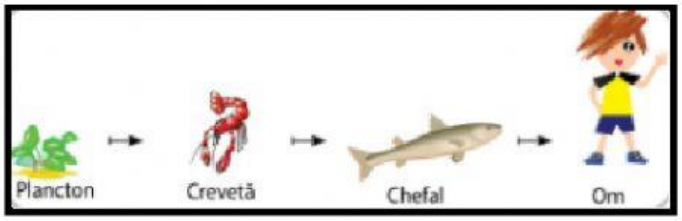

B

1. **Precizează:**

a) numele ecosistemului căruia îi aparține lanțul trofic notat cu litera **A** este …….

b) numele ecosistemului căruia îi aparține lanțul trofic notat cu litera **B** este: ……..

c) producătorii în lanțul trofic notat cu litera **A** sunt reprezentați de : ……

d) consumatorii secundari din lanțul trofic notat cu litera **B** sunt: …….

e) consumatorii terțiari din lanțul trofic notat cu litera **A** sunt: ……

f) denumirea categoriei trofice ce nu este reprezentată în cele două lanțuri trofice este …….

6x0,5= 3p

2. Plasează denumirea ecosistemului sub imaginea lanțului trofic specific acestuia.

Lanț trofic Marea Neagră

Lanț trofic deșerturile reci

2x0,5=1p

LIVEWORKSHEETS

III. Realizează conexiunea corectă dintre tipurile de ecosisteme din coloana A și exemplele de animale din coloana B.

ex. a 1

A	B
……...1. pădurea tropical-umedă	a. reni, vulpi polare, urși polari
……....2. savana	b. lemurieni, papagali, șerpi constrictori
……3.deșerturile calde	c. leul, girafa, hipopotam
……...4. deșerturile reci	d. tarantula, cămile, scorpioni

4x0,25=1p

IV. Analizează cu atenție imaginea de mai jos!

a) **Precizează** denumirea ecosistemului a cărui biocenoză este reprezentată în imagine completând în spațiul punctat de mai jos.

……

b) **Realizează** un lanț trofic în care să includi viețuitoarele din imaginea alăturată.



2x0,5=1p

1p oficiu

LIVEWORKSHEETS