MATEMÁTICAS TEMA 11

1.- Escribe el nombre de cada poliedro regular, cuántas caras tiene y qué polígono son.

Nombre					
Nº de caras					
Polígono					

2.- Calcula el <u>área y el volumen</u> de estos cuerpos geométricos.

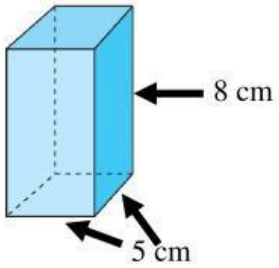

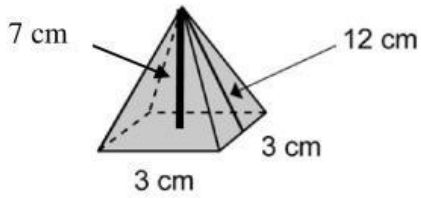

Área cm^2 Área cm^2

Volumen cm^3 Volumen cm^3

3.- Calcula <u>el área y el volumen</u> de estos cuerpos geométricos.

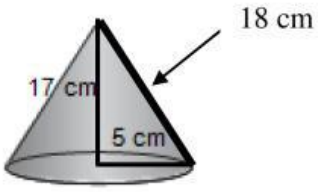

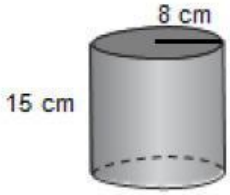

Área cm^2 Área cm^2

Volumen cm^3 Volumen cm^3

4.- Halla <u>el área y el volumen</u> de un balón de baloncesto de 11 cm de radio.

Área cm^2 Área cm^2

Volumen cm^3 Volumen cm^3

LIVEWORKSHEETS