EJERCICIO:

Observa las siguientes funciones y contesta a las preguntas:

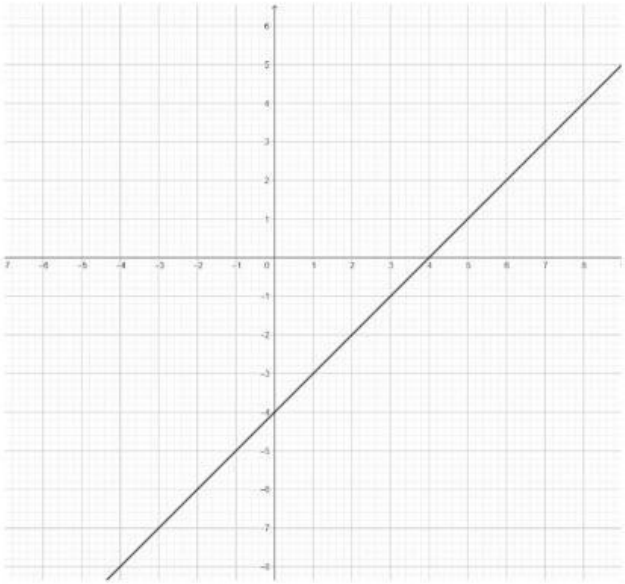

¿Cuál es la pendiente de la recta?

$m = \frac{\quad}{\quad} =$

¿Y la ordenada en el origen?

$n =$

Escribe la expresión algebraica de la función:

$y = \qquad x +$

¿Es creciente o decreciente?

¿Qué tipo de función lineal es?

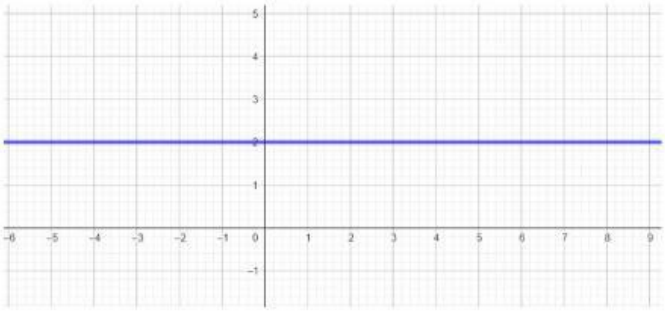

¿Cuál es la pendiente de la recta?

$m =$

¿Y la ordenada en el origen?

$n =$

Escribe la expresión algebraica de la función:

$y =$

¿Es creciente o decreciente?

¿Qué tipo de función lineal es?

LIVEWORKSHEETS

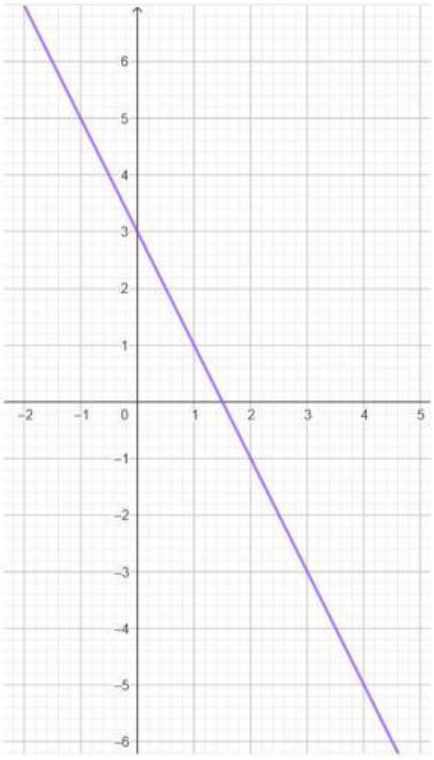

¿Cuál es la pendiente de la recta?

$m = \frac{\quad}{\quad} =$

¿Y la ordenada en el origen?

$n =$

Escribe la expresión algebraica de la función:

$y =$ $x +$

¿Es creciente o decreciente?

¿Qué tipo de función lineal es?

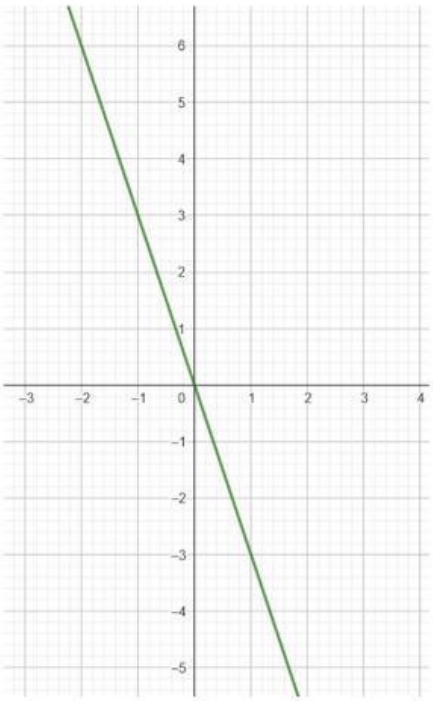

¿Cuál es la pendiente de la recta?

$m = \frac{\quad}{\quad} =$

¿Y la ordenada en el origen?

$n =$

Escribe la expresión algebraica de la función:

$y =$ $x +$

¿Es creciente o decreciente?

¿Qué tipo de función lineal es?

LIVEWORKSHEETS