Ratna D. W.
Sekolah Dasar

LEMBAR KERJA PESERTA DIDIK

LKPD

RANTAI MAKANAN

Nama: _____

Kelas: _____

LIVEWORKSHEETS

Nama : Kelas:

MENYUSUN RANTAI MAKANAN

Rantai makanan dalam suatu ekosistem terdiri dari produsen, konsumen, dan pengurai. Susunlah pola rantai makanan di bawah ini agar menjadi urutan yang benar.

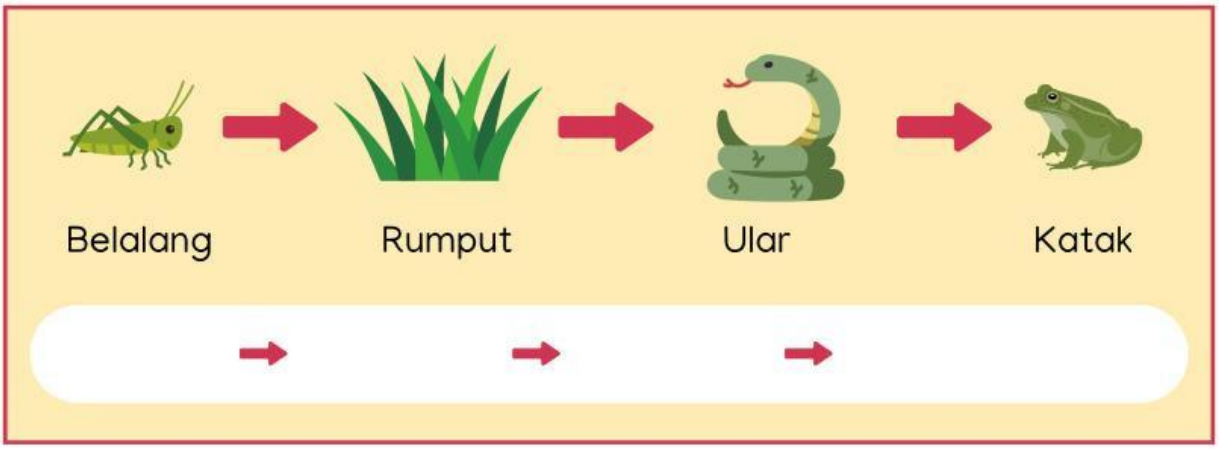

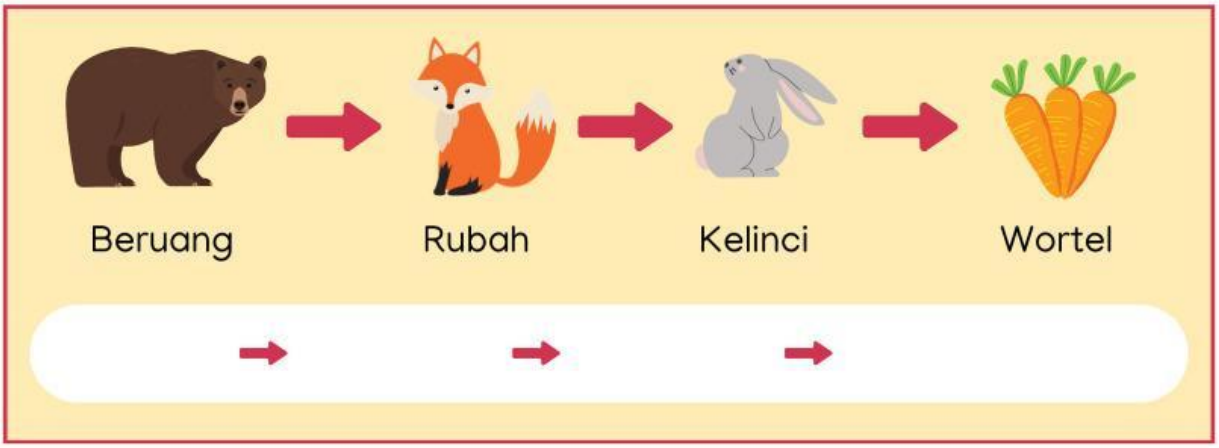

LIVEWORKSHEETS

Nama: ..... Kelas: .....

RANTAI MAKANAN

Amatilah gambar rantai makanan berikut dan letakkanlah kotak pada posisi yang tepat!

Produsen	Konsumen Primer	Konsumen Sekunder
Konsumen Tersier	Konsumen Final	Dekomposer

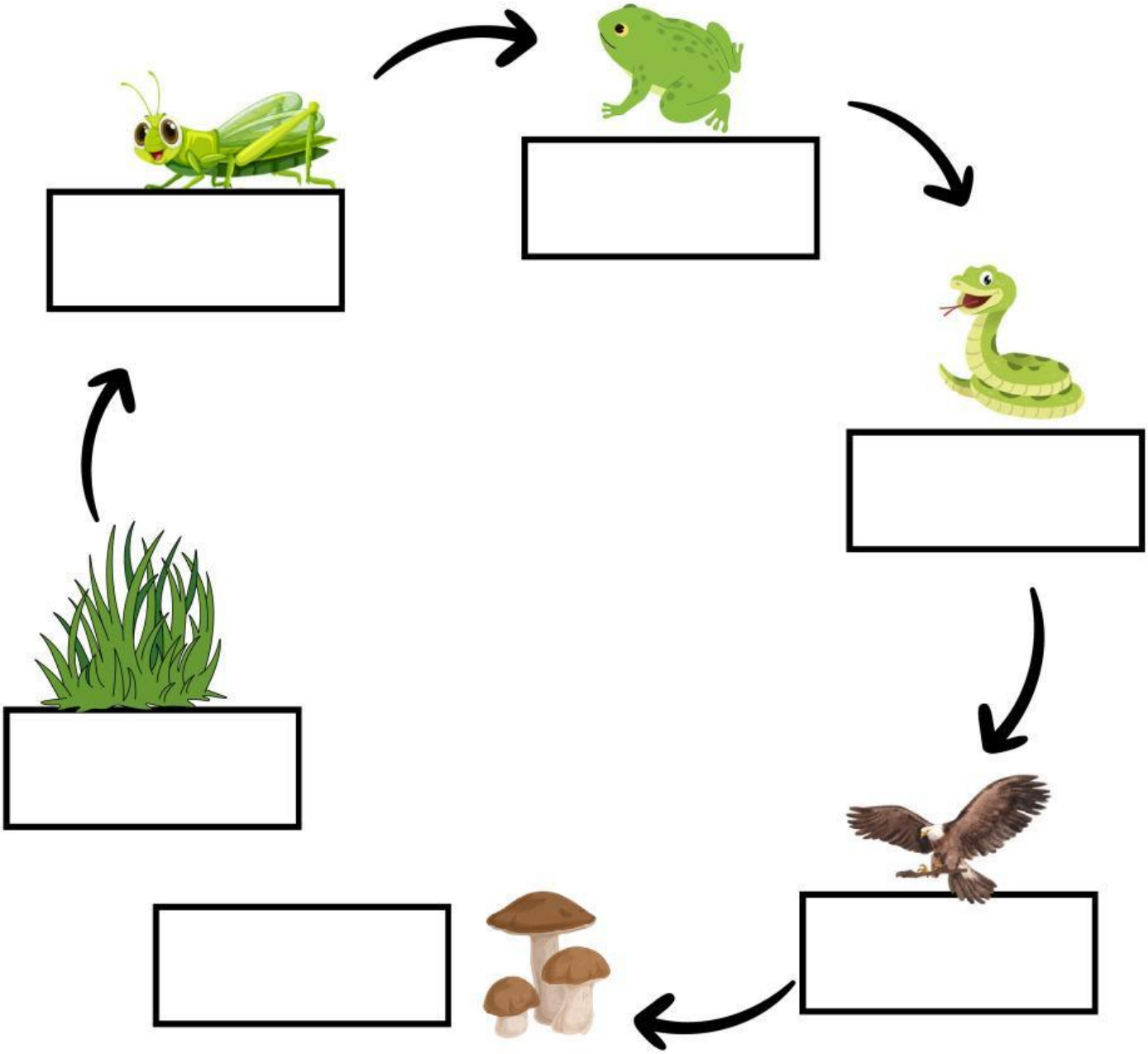

LIVEWORKSHEETS

Nama : Nomor :

RANTAI MAKANAN

Amatilah rantai makanan di bawah ini dengan cermat!



Berilah tanda centang pada kolom benar atau salah berdasarkan pernyataan di bawah ini!

No	Pernyataan	Benar	Salah
1	Rantai makanan tersebut terdapat di ekosistem laut.		
2	Ganggang berperan sebagai produsen.		
3	Produsen dapat menghasilkan makanan sendiri.		
4	Bangau berperan sebagai konsumen tingkat II.		
5	Jika populasi buaya menurun, maka populasi bangau meningkat.		
6	Populasi ikan meningkat, jika populasi bangau meningkat.		
7	Buaya merupakan hewan herbivora.		

LIVEWORKSHEETS

RANTAI MAKANAN

Selesaikanlah teka-teki silang dibawah ini!

Nama: _____ Kelas: _____



Mendatar

1. Mengurai bangkai makhluk hidup.
6. Dibutuhkan tumbuhan untuk proses fotosintesis.
7. Makhluk hidup yang berperan sebagai prosuden.
10. Makhluk hidup yang memakan daging dan tumbuhan.

Gunakan petunjuk di atas untuk menyelesaikan teka-teki silang

Menurun

2. Makhluk hidup pemakan daging.
3. Dapat menghasilkan makanannya sendiri.
4. Makhluk hidup pemakan tumbuhan.
5. Makhluk hidup yang memakan makhluk hidup lainnya.
8. Hasil penguraian dekomposer yang membuat tanah menjadi subur.
9. Makhluk hidup yang berperan sebagai dekomposer.

LIVEWORKSHEETS

Nama:

Kelas:

LKPD : Lengkapi Rantai Makanan dengan Gambar yang Tepat!

Instruksi: Gunting gambar makhluk hidup di bawah ini, lalu tempelkan pada tempat yang kosong untuk melengkapi rantai makanan dengan benar!



LIVEWORKSHEETS

Nama: ..... Kelas: .....

RANTAI MAKANAN

Amatilah gambar rantai makanan ekosistem laut berikut dan letakkanlah kotak pada posisi yang tepat!

Produsen	Konsumen Primer	Konsumen Sekunder
Konsumen Tersier	Pengurai	

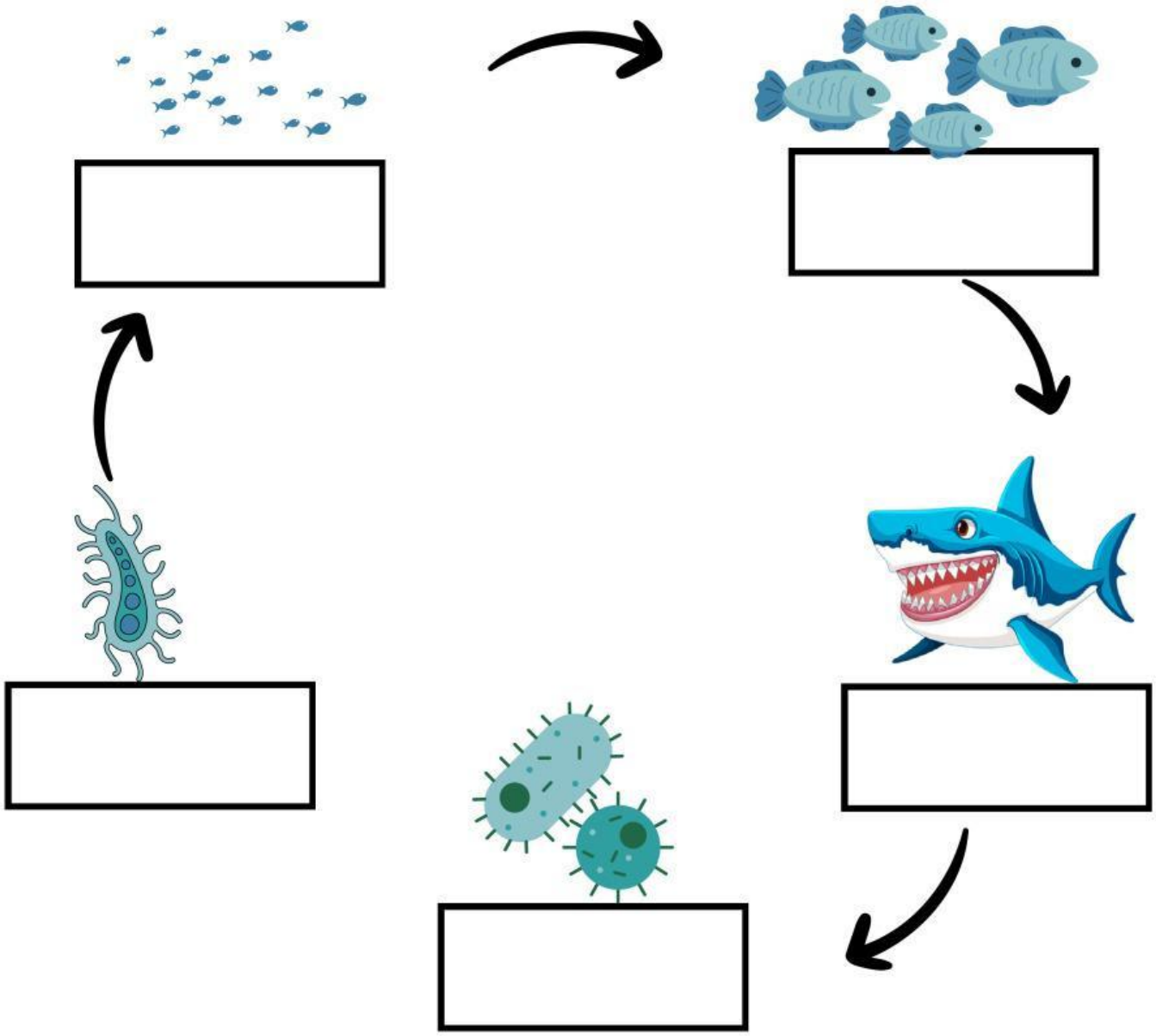

LIVEWORKSHEETS

Kunci jawaban

Nama : Kelas :

EKOSISTEM GURUN

RANTAI MAKANAN

Potong kemudian susun agar menjadi rantai makanan ekosistem gurun yang tepat!



LIVEWORKSHEETS