LEMBAR KERJA PESERTA DIDIK

LKPD

MATEMATIKA

NAMA :

KELAS :

LIVEWORKSHEETS

MENGURAIKAN ANGKA!

NAMA : KELAS :

PETUNJUK : Gambarkan garis dari setiap angka ke kelompok objek yang sesuai dengannya.

68 = 60 + 8

21 = ... + ...

37 = ... + ...

96 = ... + ...

LIVEWORKSHEETS

Mari Menjumlah
Kendaraan di Jalan

NAMA : _____

KELAS : _____

PETUNJUK : Hitung semua kendaraan dalam gambar. Tulis jawabannya di kotak.

+ = ☐



+ = ☐

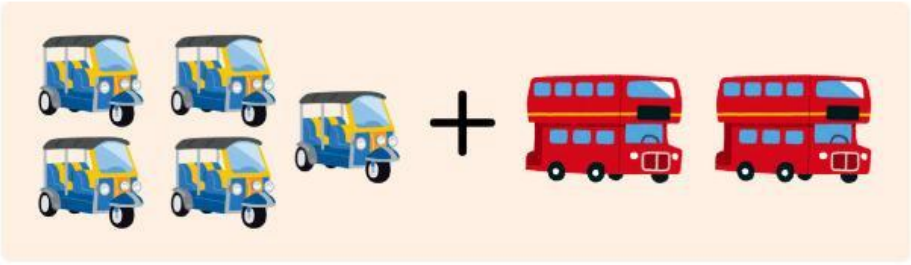

+ = ☐

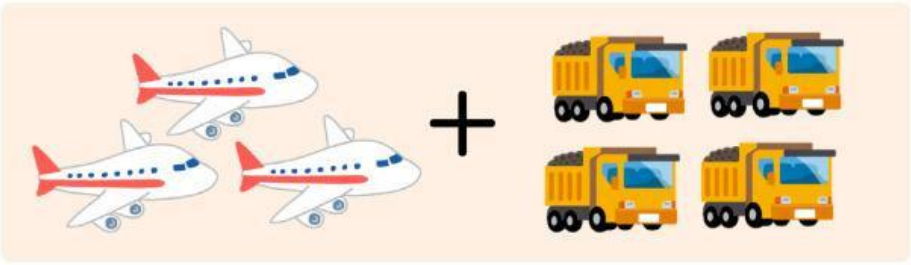

+ = ☐

LIVEWORKSHEETS

Nama: _____ Tanggal: _____

Yuk, menentukan angka sebelumnya!

Arahan! Perhatikan urutan angka berikut ini! Tuliskan angka sebelum angka tersebut dengan benar!

? 2 3

Angka sebelumnya adalah _____

? 8 9

Angka sebelumnya adalah _____

? 6 7

Angka sebelumnya adalah _____

? 3 4

Angka sebelumnya adalah _____

? 9 10

Angka sebelumnya adalah _____

? 7 8

Angka sebelumnya adalah _____

Edisi Angka 1-10

LIVEWORKSHEETS