LEMBAR KERJA PESERTA DIDIK (LKPD)

SISTEM PENCERNAAN MAKANAN PADA MANUSIA

Oleh

SULASTRI, S.Pd.

SMP N 2 BUMIRATU NUBAN

NAMA	
KELAS	

1. Perhatikan video pembelajaran berikut:

2. Pilihlah jawaban yang benar!

1. Bagian saluran pencernaan yang ada di luar dan dapat dilihat, jadi kita bisa menunjukkan dan mengamatinya dengan langsung yaitu ...

a. Anus

b. Kerongkongan

c. Mulut

d. Lambung

2. Bagian dari alat pencernaan yang tidak mempunyai fungsi untuk mencernakan makanan secara kimia yaitu ....

a. Kerongkongan

b. Usus dua belas jari

c. Rongga mulut

d. Lambung

LIVEWORKSHEETS

3. Perhatikan gambar berikut!
Isikan nama-nama organ pencernaan yang ditunjuk pada gambar sesuai pilihan yang ada!

Rongga mulut hati lambung kerongkongan anus

Pankreas usus halus usus besar kelenjar saliva

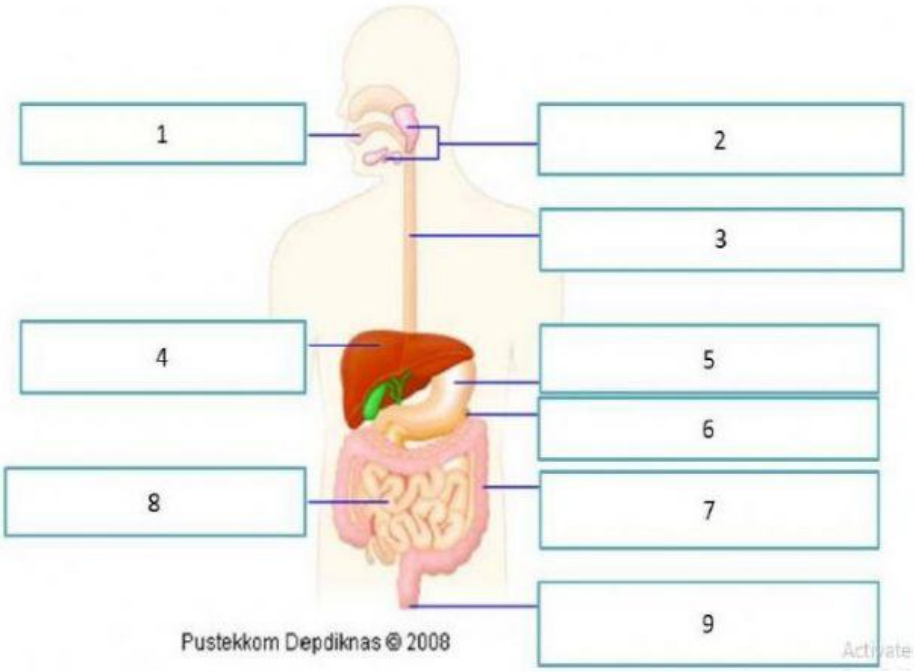

4. Dengarkan lagu ini!

LIVEWORKSHEETS

5. Pasangkan nama organ pencernaan berikut dan enzim yang dihasilkan dengan membuat/menarik garis!

Lambung	
	ptialin
Pankreas	
	pepsin
Kelenjar saliva	
	lipase

6. Perhatikan gambar! Apa nama organ tersebut?

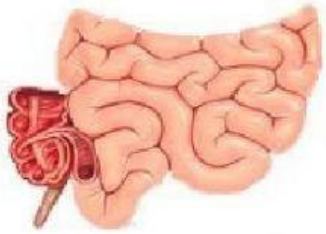

LIVEWORKSHEETS

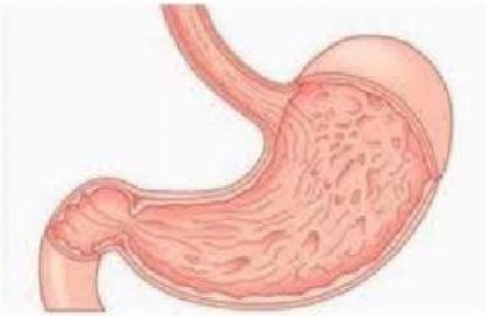

7. Perhatikan gambar!. Berikan tanda ceklist pada nama organ yang sesuai dengan gambar!

Lambung

Usus halus

Usus Besar

Hati

LIVEWORKSHEETS