LKPD

Ilmu Pengetahuan Alam

Siklus pada Makhluk Hidup

Nama: _____

Kelas: _____

LIVEWORKSHEETS

Siklus Hidup

Makhluk hidup butuh berkembang biak untuk mempertahankan keturunan.

- Perhatikan gambar di bawah ini.
- Isilah titik-titik sesuai gambar.

Siklus Hidup Manusia



_____

_____

_____

_____

Gambar mana yang mirip dengan kondisi kalian saat ini?

_____

LIVEWORKSHEETS

SIKLUS TUMBUHAN

Gunting dan tempel tahapan siklus hidup tumbuhan dengan tepat!



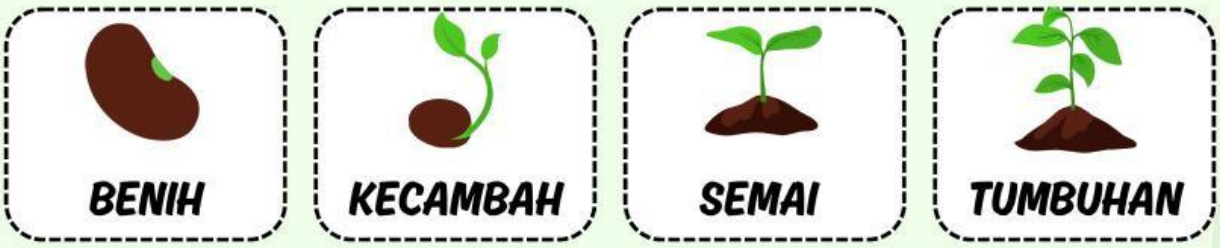

LIVEWORKSHEETS

Siklus Hidup Hewan

Urutkan gambar sesuai tahap siklus hidup hewan ini.

Nama: _____ **Kelas:** _____ **Absen No:** _____

Siklus Hidup Kupu - kupu

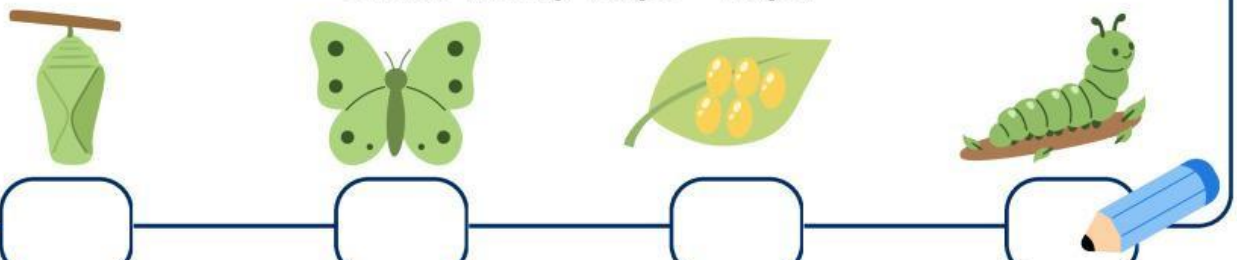

Siklus Hidup Katak

Siklus Hidup Ayam

Siklus Hidup Nyamuk

Penilaian	*Masukan Guru*	*Tanda Tangan*
☆☆☆☆☆	_____	_____

LIVEWORKSHEETS

Metamorfosis

Perubahan bentuk pada siklus hidup makhluk hidup.

- Perhatikan gambar di bawah ini.
- Isilah titik-titik sesuai gambar.

Metamorfosis Sempurna

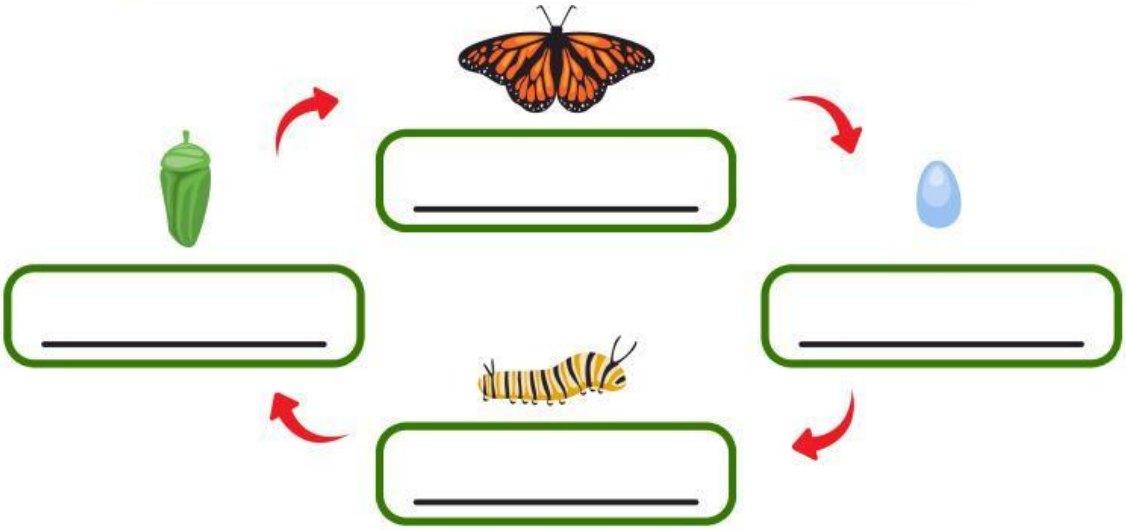

Metamorfosis Tidak Sempurna

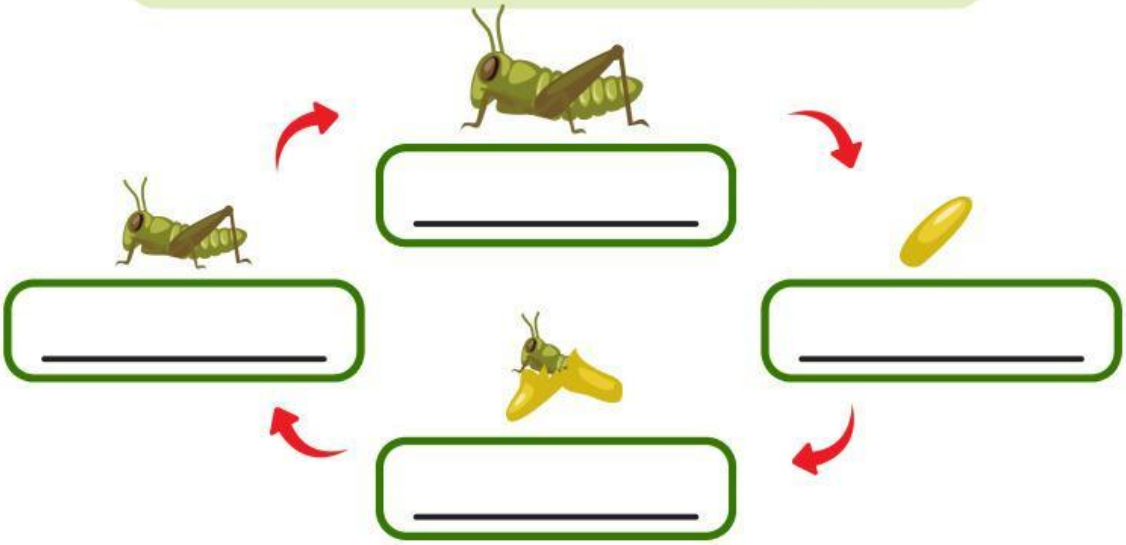

LIVEWORKSHEETS