الاسم :.....

المستوى : نحو الاتقان

الوحدة 13: الهندسة-الدرس 4: نشاط عملي- المثلثات

صنف كل مثلث حسب أطوال أضلاعه واكتب نوعه .

1

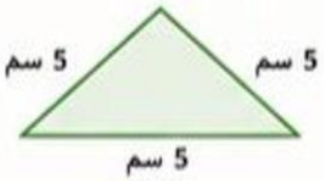

2

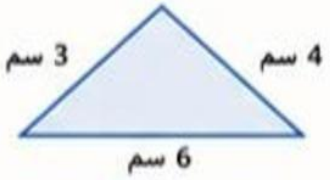

3

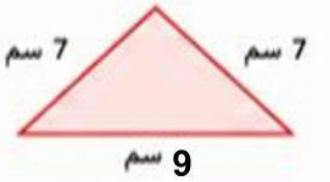

صل كل وصف بالنوع المناسب له:

مثلث مختلف الأضلاع	جميع أضلاعه متساوية
مثلث متساوي الساقين	له ضلعان متساويان
مثلث متساوي الأضلاع	أضلاعه مختلفة

اعداد المعلمة : حصه علي

LIVEWORKSHEETS