مذهلون

تصنيف المثلثات

فكري
بذكاء
تألّقي دائمًا

اختر الإجابة الصحيحة

1 أي شكل يمثل مثلثًا؟

أ) مربع
ب) مثلث
ج) دائرة

2 مثلث له ثلاثة أضلاع متساوية يسمى:

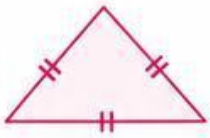

أ) مثلث مختلف الأضلاع
ب) مثلث متساوي الأضلاع
ج) مثلث قائم الزاوية

3 مثلث له ضلعان متساويان يسمى:

أ) مثلث متساوي الساقين
ب) مثلث حاد الزوايا
ج) مثلث منفرج الزاوية

4 مثلث جميع أضلاعه مختلفة يسمى:

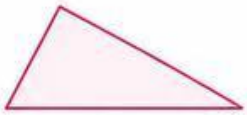

أ) مثلث متساوي الأضلاع
ب) مثلث مختلف الأضلاع
ج) مثلث قائم الزاوية

5 مثلث فيه زاوية قائمة (°90) يسمى:

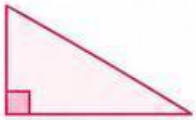

أ) مثلث قائم الزاوية
ب) مثلث حاد الزوايا
ج) مثلث متساوي الساقين

6 مثلث جميع زواياه أقل من °90 يسمى:

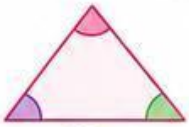

أ) مثلث حاد الزوايا
ب) مثلث قائم الزاوية
ج) مثلث منفرج الزاوية

7 مثلث فيه زاوية أكبر من °90 يسمى:

أ) مثلث حاد الزاوية
ب) مثلث منفرج الزاوية
ج) مثلث متساوي الأضلاع

8 انظري إلى المثلث أدناه، ما نوعه؟

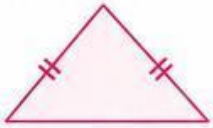

أ) مثلث متساوي الأضلاع
ب) مثلث متساوي الساقين
ج) مثلث مختلف الأضلاع

✨ أنت مذهلة... ونجاحاتك تبدأ من تفكيرك! ✨

LIVEWORKSHEETS