LKPD

Ilmu Pengetahuan Alam

Siklus pada Makhluk Hidup

Nama: _____

Kelas: _____



LIVEWORKSHEETS

Siklus Hidup

Makhluk hidup butuh berkembang biak untuk mempertahankan keturunan.



- Perhatikan gambar di bawah ini.
- Isilah titik-titik sesuai gambar.

Siklus Hidup Manusia



Gambar mana yang mirip dengan kondisi kalian saat ini?

LIVEWORKSHEETS

Perkembangbiakan Hewan

Hubungkan gambar hewan dengan cara berkembangbiak yang sesuai.













- Bertelur (Ovipar)
- Melahirkan (Vivipar)
- Bertelur dan Melahirkan (Ovovivipar)

LIVEWORKSHEETS

Metamorfosis

Perubahan bentuk pada siklus hidup makhluk hidup.



- Perhatikan gambar di bawah ini.
- Isilah titik-titik sesuai gambar.

Metamorfosis Sempurna

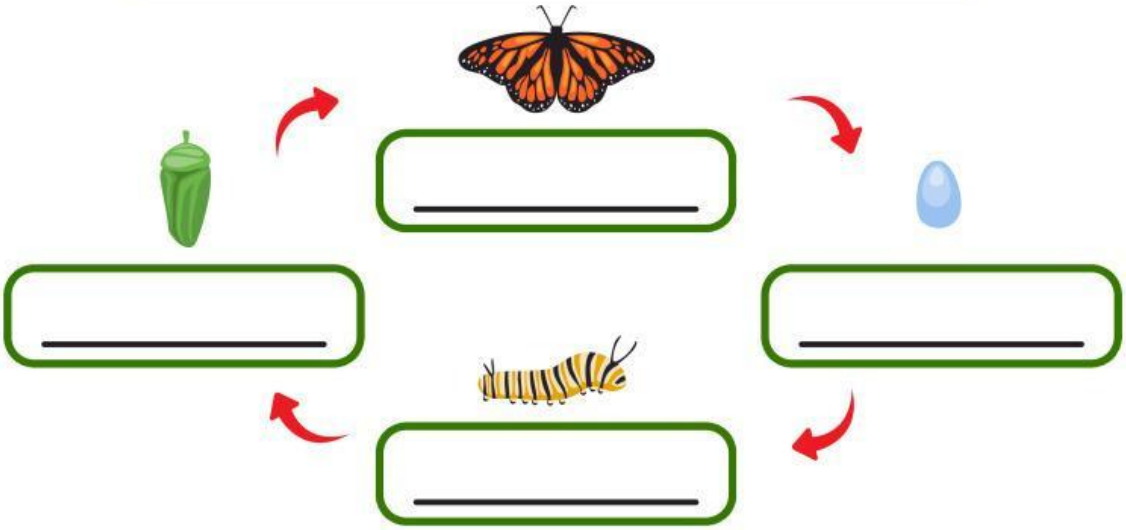

Metamorfosis Tidak Sempurna

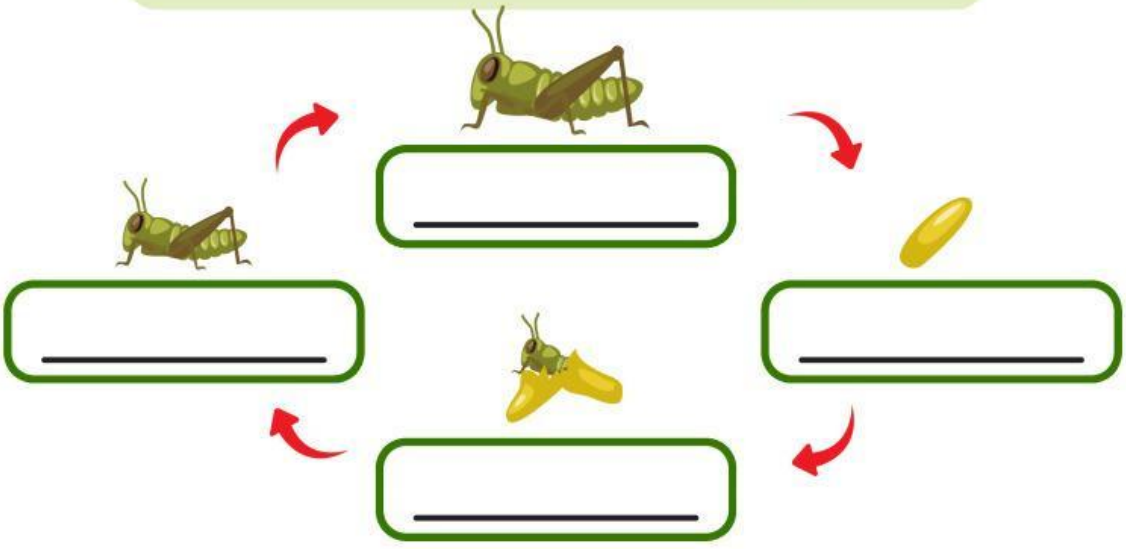

LIVEWORKSHEETS

Siklus Hidup pada Tumbuhan

Taruh gambar pada kolom yang benar

Biji

Tunas

Bercabang

Berbunga

Berbuah











LIVEWORKSHEETS