LKPD

Lembar Kerja Peserta Didik

MATEMATIKA

DIAGRAM GAMBAR

KELAS 1

Belajar menyajikan data dalam bentuk gambar yang menyenangkan!

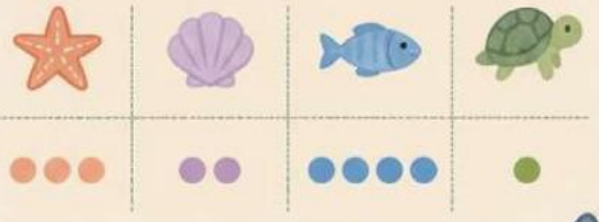

Nama : _____

Kelas : _____

Sekolah : _____

LIVEWORKSHEETS

DIAGRAM

LENGKAPILAH KALIMAT SESUAI DENGAN ISI DIAGRAM!

Nama : Kelas :

@yenisarodja

Ayam	
Sapi	
Gajah	
Bebek	
Zebra	
Singa	

1. Hewan dengan jumlah yang paling sedikit adalah .....
2. Hewan dengan jumlah paling banyak adalah .....
3. Hewan yang memiliki jumlah yang sama adalah .....
4. Hewan zebra berjumlah .....
5. Jumlah gajah lebih ..... daripada singa.
6. Jumlah bebek ..... daripada sapi.
7. Jumlah seluruh hewan ada .....
8. Ayam berjumlah .....

LIVEWORKSHEETS

Nama : _____ Kelas : _____

Ayo, Kerjakan!

Tulislah nama dan jumlah buah sesuai data

Buah-buahan Kesukaan



Tabel Buah-buahan Kesukaan

Nama Buah	Jumlah Buah
.....	.....
.....	.....
.....	.....
.....	.....
.....	.....

Designed by Aloha Ms.Rina

LIVEWORKSHEETS

P5(CARI DAN HITUNG)

Ayo bantu Dina dan Dino untuk mencari dan menghitung gambar makanan sehat pada kotak yang telah disediakan!

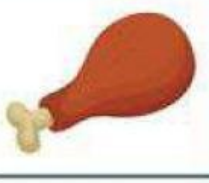	
	



LIVEWORKSHEETS

Nama :

DIAGRAM

Data makanan kegemaran siswa kelas I

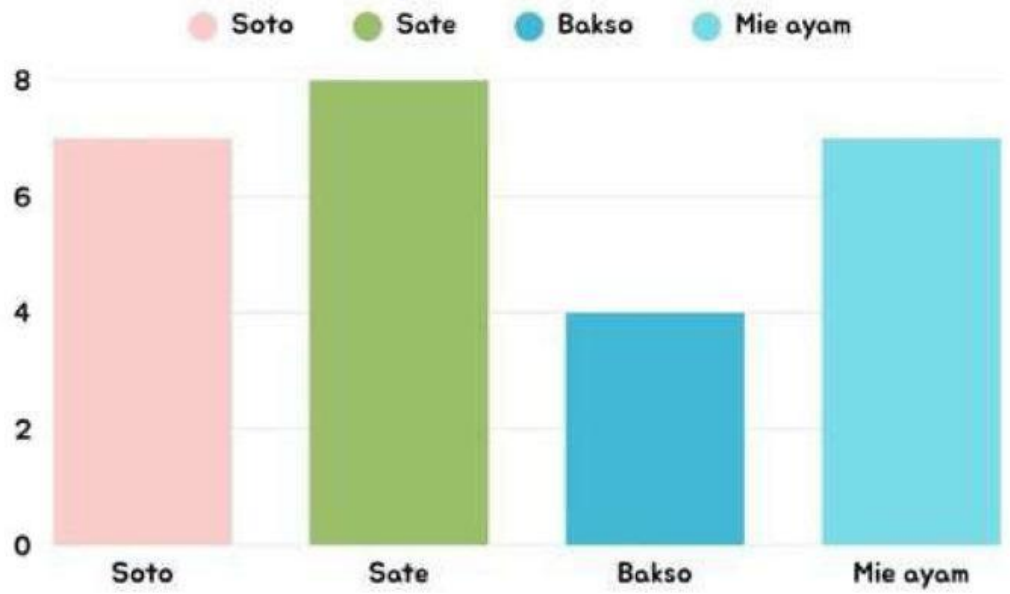

@yenisarodja

1. banyak siswa yang suka makan soto adalah.....
2. banyak siswa yang gemar makan mie ayam adalah.....
3. makanan yang digemari oleh 4 siswa adalah.....
4. makanan yang digemari oleh 7 siswa adalah.....,dan.....
5. makanan yang paling sedikit digemari oleh siswa adalah.....
6. makanan yang paling banyak digemari oleh siswa adalah.....
7. selisih jumlah banyak siswa yang gemar makanan sate dan bakso adalah.....
8. jumlah siswa seluruhnya adalah.....

LIVEWORKSHEETS