FITXA 33

Unitat, dècima i centèsima

Nom _____ Data _____

Recorda

- Quan dividim una unitat en 10 parts iguals, cada part és una **dècima**.
  Una dècima s'escriu 1/10 o 0,1.
- Quan dividim una unitat en 100 parts iguals, cada part és una **centèsima**.
  Una centèsima s'escriu 1/100 o 0,01.

1 unitat = 10 dècimes = 100 centèsimes

1 Pinta del mateix color les figures que representen el mateix nombre.

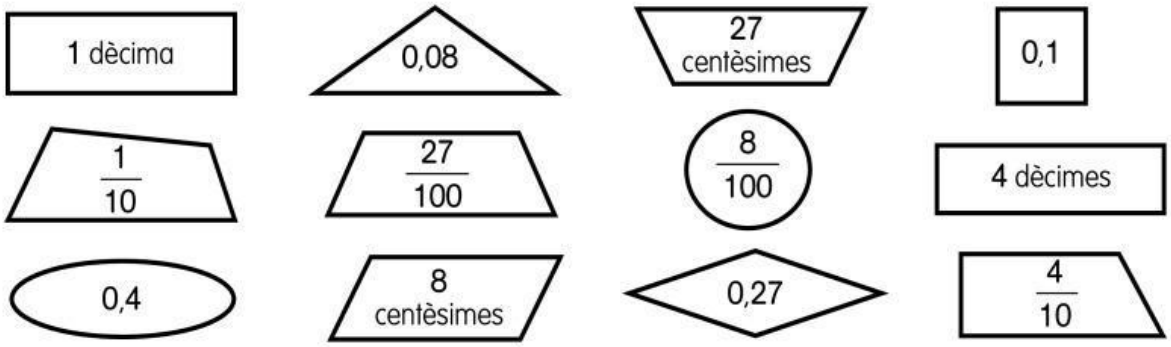

2 Escriu la part pintada en forma de fracció i en forma decimal.

5 dècimes = _____ = 0,_____



7 dècimes = _____ = 0,_____



34 centèsimes = _____ = _____



72 centèsimes = _____ = _____

3 Escriu en forma de fracció i en forma decimal.

- 4 dècimes = _____ = _____
- 3 dècimes = _____ = _____
- 54 centèsimes = _____ = _____
- 38 centèsimes = _____ = _____

Material fotocopiable © 2020 Grup Promotor / Santillana Educación, S. L.
LIVEWORKSHEETS